Тест 1

Что означает этот символ?

1 а) улучшенная дорога б) непреодолимая река в) тропа	11 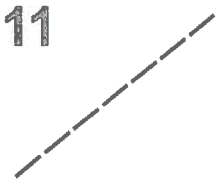 а) канава с водой б) проселочная дорога в) узкая просека
2 а) земляной вал б) разрушенная каменная стена в) сухая канава	12  а) яма б) лощина в) гора
3 а) внемасштабный объект рельефа б) воронка в) микробугорок	13 а) земляной обрыв б) земляной вал в) основная горизонталь
4  а) фруктовый сад б) открытое пространство в) лес, проходимый в одном направлении	14 а) озеро б) запретная территория в) непреодолимое болото
5 а) заболоченность б) непреодолимое болото в) труднопреодолимое болото	15 а) сухая канава б) тропа в) маленькая промоина
6 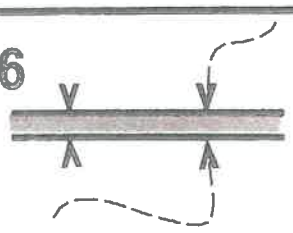 а) трубопровод б) мост в) туннель	16 а) проход в ограде б) каменная стена в) непреодолимая ограда
7  а) фундамент б) постройка в) застроенная территория	17 а) стрельбище б) кормушка в) стрелка магнитного меридиана
8 а) большая башня б) церковь в) маленькая башня	18 а) внемасштабный искусственный объект б) финиш в) точка начала ориентирования
9 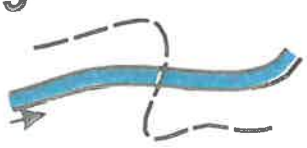 а) туннель б) переправа с мостом в) переправа без моста	19 а) каменная россыпь б) сухая канава в) поверхность с микронеровностями
10 а) непригодная для движения дорога б) непреодолеваемая граница в) маркированный участок	20 а) промоина б) микроямка в) лощина

Тест 2

Что означает этот символ?

1 а) шоссе б) исчезающая тропа в) улучшенная дорога	11 а) железная дорога б) преодолимый трубопровод в) каменная стена
2 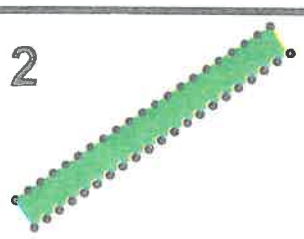 а) узкая просека б) река в) широкая заросшая просека	12  а) лощина б) обрыв в) яма
3 а) группа камней б) пещера в) микробугорок	13  а) открытое пространство б) полуоткрытое пространство в) труднопроходимая растительность
4  а) четкая граница растительности б) пересыхающий ручей в) сухая канава	14 а) колодец б) пруд в) родник
5 а) канава б) ручей в) река	15 а) озеро б) непреодолимое болото в) болото
6 а) болото б) непреодолимое болото в) заболоченность	16 а) преодолимая ограда б) разрушенная ограда в) непреодолимая ограда
7 а) фундамент б) постройка в) застроенная территория	17 а) стрелка магнитного меридиана б) стрельбище в) кормушка
8 а) шоссе б) проселочная дорога в) улучшенная дорога	18 а) земляной вал б) промоина в) земляной обрыв
9 Т а) внемасштабный искусственный объект б) маленькая башня в) большая башня	19 а) мостик б) переправа с мостом в) переправа без моста
10 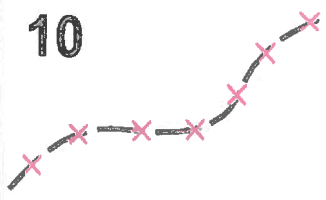 а) непригодная для движения дорога б) опасная территория в) маркированный участок	20 а) контрольный пункт б) пункт питания в) финиш

Тест 3

Подберите символ.

1 лощина

а 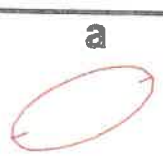 б в 

2 ручей

а 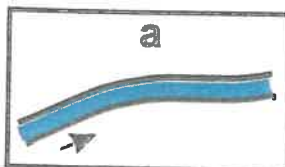 б 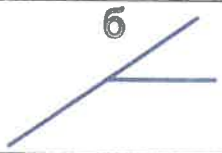 в 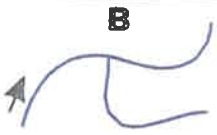

3 труднопроходимое болото

а б в

4 камень

а б в

5 переправа с мостом

а 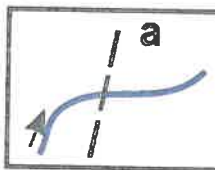 б 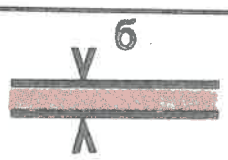 в 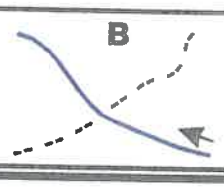

6 воронка

а б в

7 узкая просека

а б в 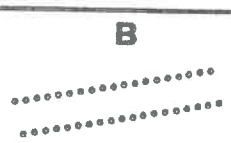

8 колодец

а б в 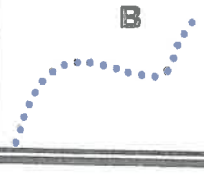

9 открытое пространство

а 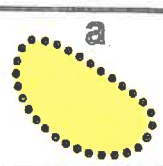 б  в 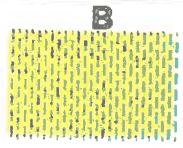

10 лес, пробегаемый в одном направлении

а  б  в 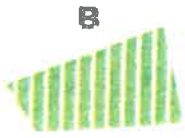

11 улучшенная дорога

а 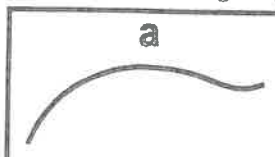 б 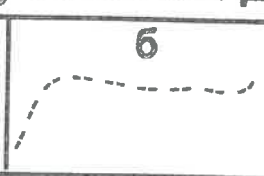 в 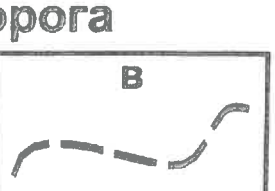

12 железная дорога

а б в 

13 электролиния

а 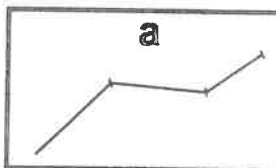 б  в 

14 непреодолимая ограда

а 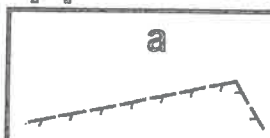 б 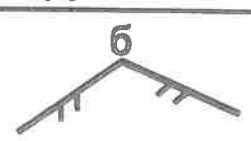 в 

15 высокая башня

а б в

16 начало ориентирования

а  б в 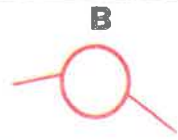

17 опасная территория

а 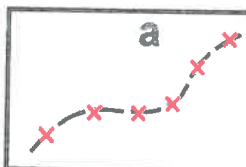 б 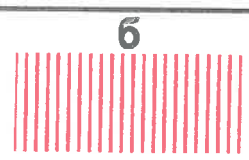 в 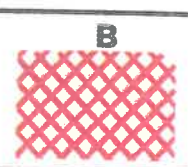

18 непреодолимый трубопровод

а б  в 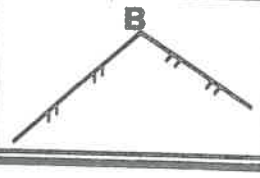

19 развалины

а  б 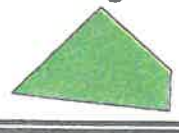 в

20 гора

а б в

Тест 4

Что означает этот символ?	*Подберите символ.*
1  а) ручей б) канава в) тропа	**11 яма** а 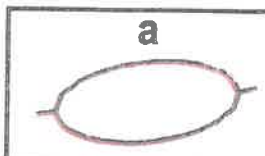 б 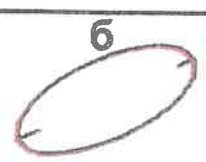 в 
2 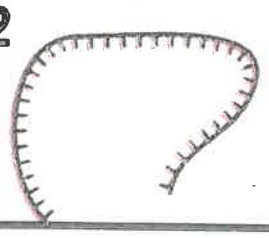 а) непреодолимая скальная стена б) земляной вал в) обрыв	**12 исчезающая тропа** а б  в 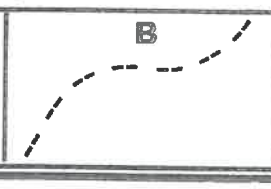
3  а) узкая просека б) шоссе в) широкая открытая просека	**13 постройка** а  б 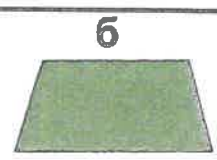 в
4 а) преодолимая каменная стена б) непреодолимая каменная стена в) преодолимая скальная стена	**14 сухая канава** а  б  в
5 а) непреодолимая ограда б) преодолимая ограда в) преодолимый трубопровод	**15 узкая заросшая просека** а  б  в 
6 а) труднопреодолимое болото б) непреодолимое болото в) заболоченность	**16 внемасштабный объект рельефа** а б в
7 а) проселочная дорога б) улучшенная дорога в) узкая просека	**17 поверхность с микронеровностями** а б в
8 а) горка б) контрольный пункт в) финиш	**18 заболоченность** а  б в
9  а) развалины б) преодолимая ограда в) проход в ограде	**19 полуоткрытое пространство** а б в
10 а) стрелка магнитного Меридиана б) кормушка в) стрельбище	**20 улучшенная дорога** а б в

Тест 5

Какой УЗ относится к рельефу?

	а	б	в
1			
2			
3		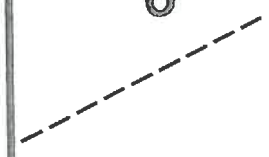	
4			
5			

Какой УЗ относится к растительности?

	а	б	в
11		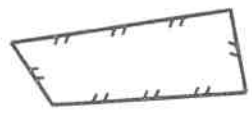	
12			
13			
14			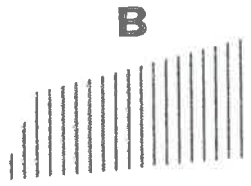
15			

Какой УЗ относится к гидрографии?

	а	б	в
6			
7			
8			
9			
10			

Какой УЗ относится к искусственным сооружениям?

	а	б	в
16			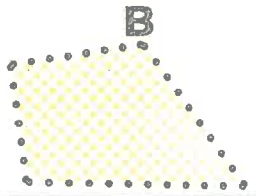
17			
18			
19			
20			

Тест 6

Какой УЗ относится к знаку обозначения дистанции?

	а	б	в
1			V
2			
3	†		
4			+
5			o

Какой УЗ относится к площадным ориентирам?

	а	б	в
11			
12			
13			V
14	X		
15	V		

Какой УЗ относится к линейным ориентирам?

	а	б	в
6	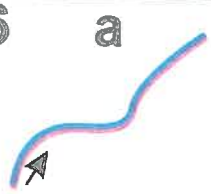	V	
7			
8			
9		T	
10			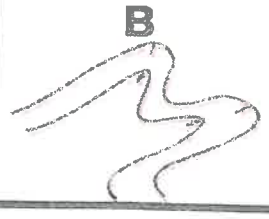

Какой УЗ относится к точечным ориентирам?

	а	б	в
16	V		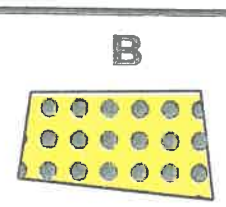
17		T	
18			↑
19			
20	X		

Тест 7

Исключите лишний знак.

	а	б	в	г	д
1					
2					
3					
4					
5					
6				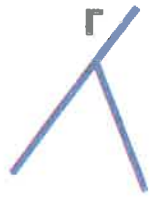	
7					
8				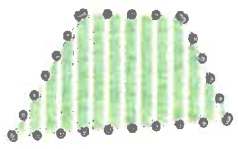	
9					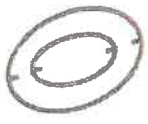
10					

Тест 8

Исключите лишний знак.

1 а б в г д

2 а б в г д

3 а б в г д

4 а б в г д

5 а б в г д

6 а б в г д

7 а б в г д

8 а б в г д

9 а б в г д

10 а б в г д

Тест 9

Исключите лишний ориентир.

1	а	б	в	г	д
2	а	б	в 	г 	д
3	а	б	в 	г 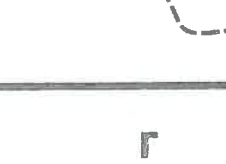	д 
4	а	б	в	г	д
5	а	б	в 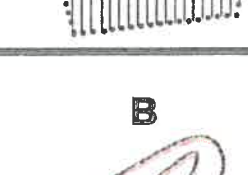	г	д 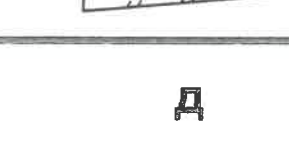
6	а	б	в	г 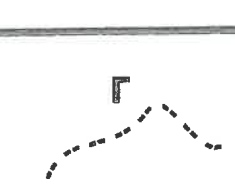	д
7	а	б	в	г 	д
8	а 	б	в 	г	д 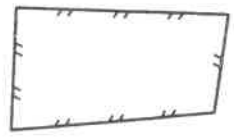
9	а	б	в	г	д
10	а	б 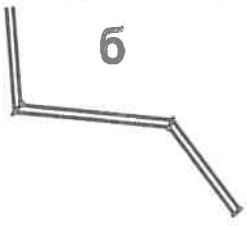	в	г	д

Тест 10

Где стоит контрольный пункт?

1



а) восточная полянка

б) северная полянка

в) южная полянка

2

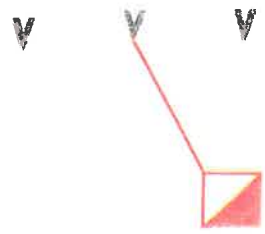

а) средняя ямка

б) средняя воронка

в) восточная воронка

3

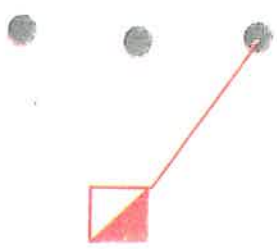

а) западный микробугорок

б) западный камень

в) восточный микробугорок

4

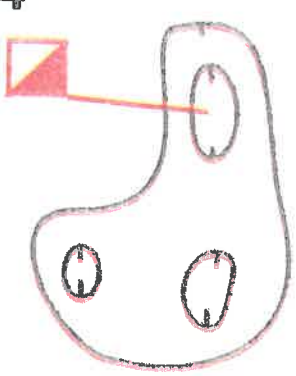

а) южная яма

б) западная яма

в) северная яма

5



а) восточное болото

б) западный край болота

в) восточный край болота

6

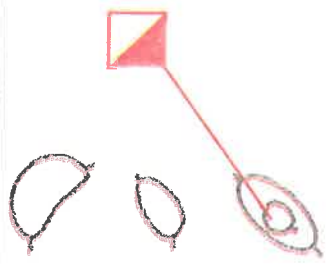

а) западная ямка

б) восточная горка

в) западная горка

7



а) юго-западная постройка

б) юго-западный угол дома

в) юго-восточный угол дома

8



а) средний внемасштабный искусственный объект

б) западный внемасштабный искусственный объект

в) восточный внемасштабный искусственный объект

9

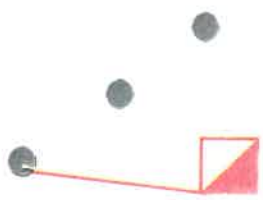

а) юго-западный камень

б) юго-восточный микробугорок

в) юго-восточный камень

10



а) северо-восточная горка

б) северо-западный край горы

в) северо-западная горка

Тест 11

Что означает этот символ?

1

а) нечеткая канава с водой

б) проселочная дорога

в) исчезающая тропа

2

а) канава

б) непреодолимая река

в) ручей

3

а) выступ горы

б) промоина

в) лощина

4



а) открытая узкая просека

б) шоссе

в) широкая открытая просека

5

а) заболоченность

б) болото

в) непреодолимое болото

6

а) камень

б) группа камней

в) каменная россыпь

7

а) воронка

б) яма

в) маленькая яма

8

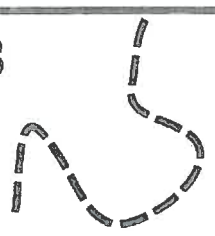

а) улучшенная дорога

б) проселочная дорога

в) узкая просека

9

а) скальная воронка

б) пещера

в) камень

10



а) поселок

б) запретная территория для бега

в) труднопреодолимое болото

Где находится КП?

11 Какой КП находится на пересечении тропинок?

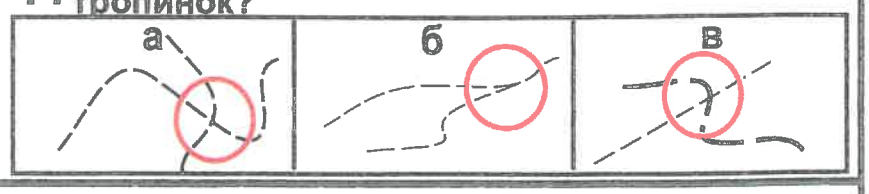

12 Какой КП находится на стыке канав?

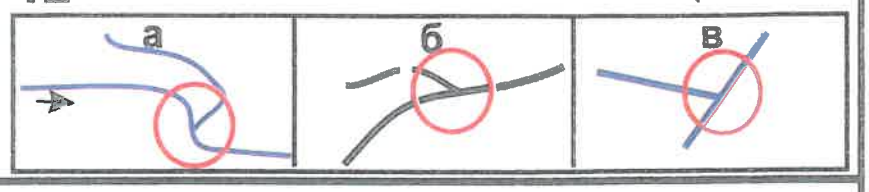

13 Какой КП находится на развилке дорог?

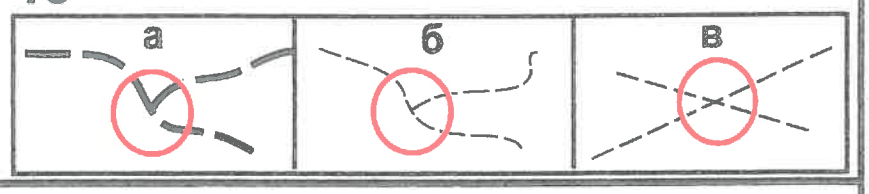

14 Какой КП находится на изгибе ручья?



15 Какой КП находится в конце просеки?



16 Какой КП находится у дома?

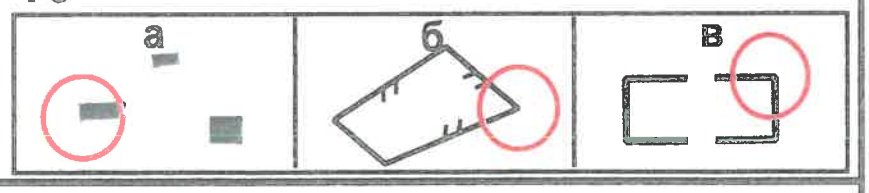

17 Какой КП находится у камня?



18 Какой КП находится у туннеля?

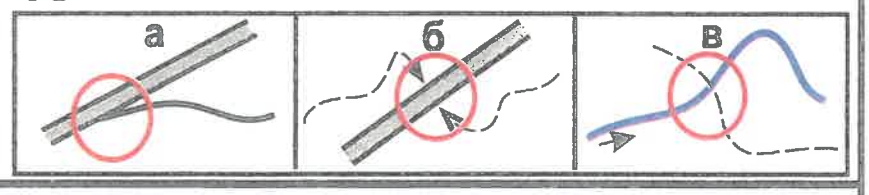

19 Какой КП находится на повороте дороги?



20 Какой КП находится у кормушки?



Тест 12

На чем стоит КП?

1

а) восточный камень

б) западный камень

в) восточная группа камней

2

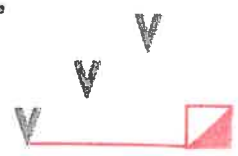

а) юго-восточная воронка

б) юго-западная ямка

в) юго-западная воронка

3

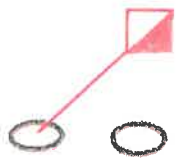

а) восточная горка

б) западная горка

в) западная яма

4



а) южное болотце

б) южный край болота

в) северное болотце

5

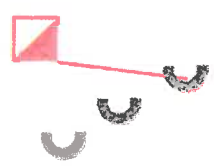

а) северо-западная внемасштабная яма

б) северо-восточная внемасштабная яма

в) северо-восточная воронка

6

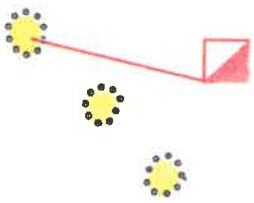

а) северо-западный край поляны

б) северо-восточная полянка

в) северо-западная полянка

7

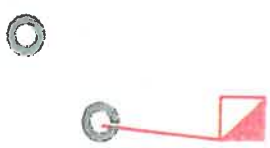

а) юго-восточная группа деревьев

б) юго-западная группа деревьев

в) юго-восточный родник

8

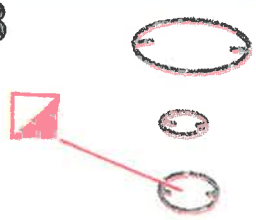

а) южная горка

б) северная ямка

в) южная ямка

9



а) средняя внемасштабная яма

б) западная внемасштабная яма

в) западная воронка

10

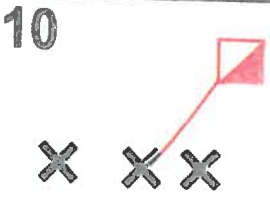

а) средний внемасштабный искусственный объект

б) средняя группа камней

в) восточный внемасштабный искусственный объект

Где находится КП?

11 Какой КП находится на западном углу непреодолимой ограды?

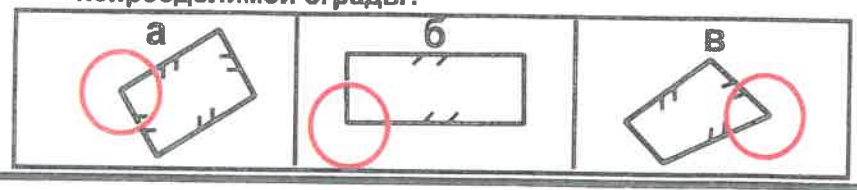

12 Какой КП находится у восточного подножия?

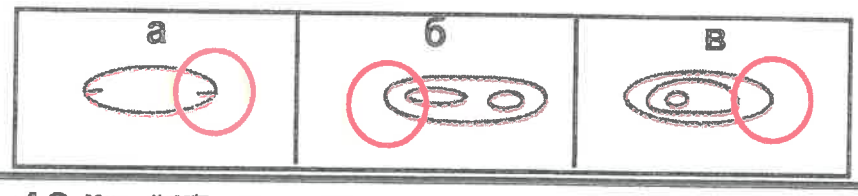

13 Какой КП находится на юго-восточном краю непреодолимого болота?

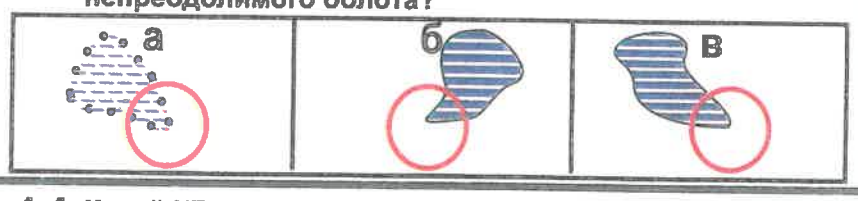

14 Какой КП находится на северном углу фруктового сада?



15 Какой КП находится на северо-восточном углу застроенной территории?

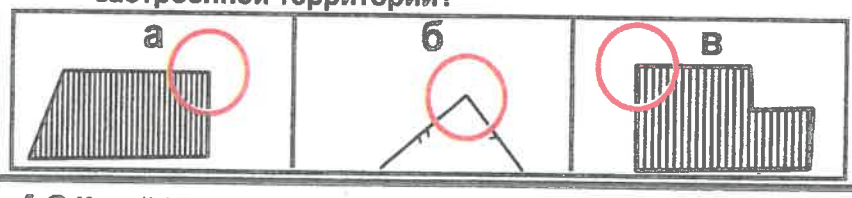

16 Какой КП находится на восточной развилке тропинок?

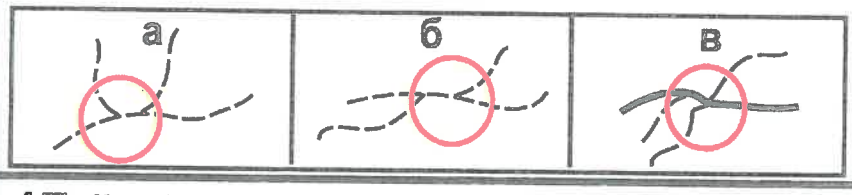

17 Какой КП находится на северо-западном углу поляны?

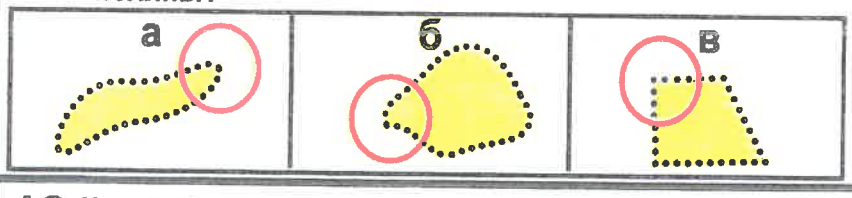

18 Какой КП находится на юго-западном углу дома?



19 Какой КП находится на южном краю озера?

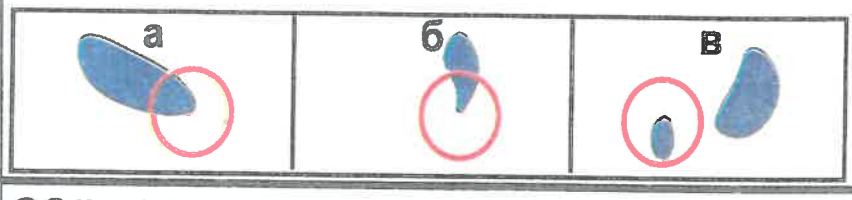

20 Какой КП находится на северо-восточном краю ямы?

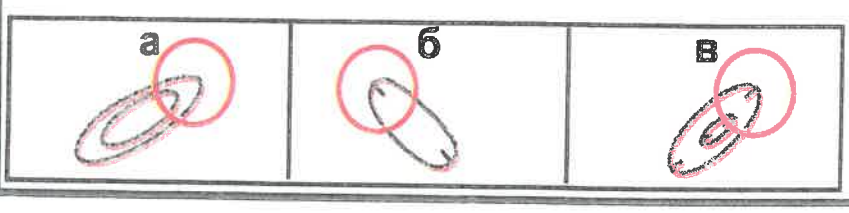

Тест 13

Подберите к описанию один из КП.

1 Какой КП находится на северном пересечении троп?

а 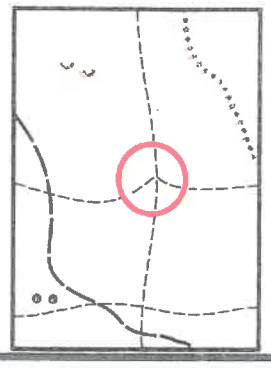

б 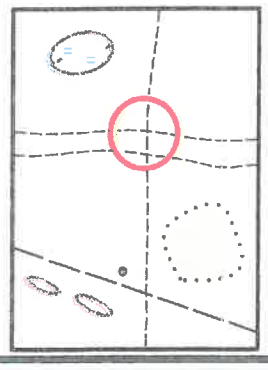

в

2 Какой КП стоит на среднем камне?

а 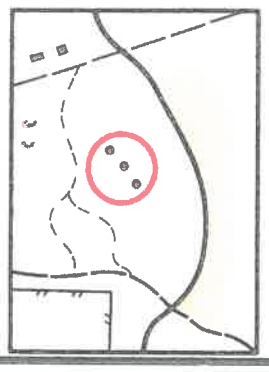

б 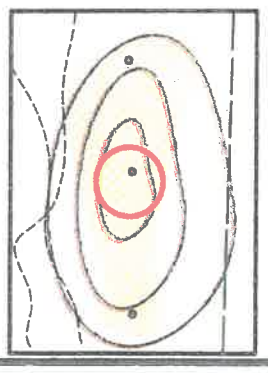

в 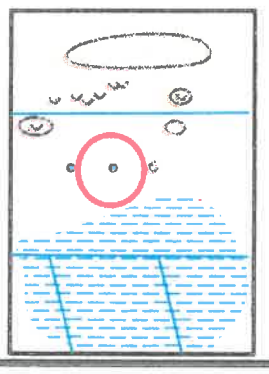

3 Какой КП стоит на южной развилке дорог?

а 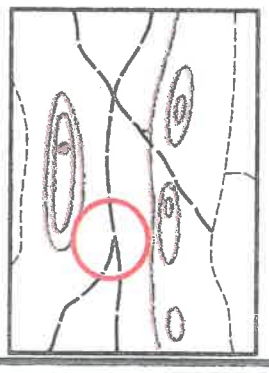

б 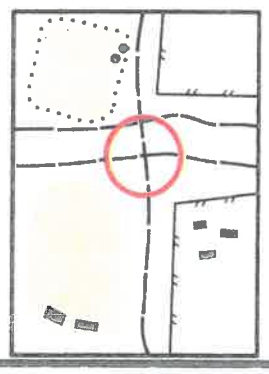

в 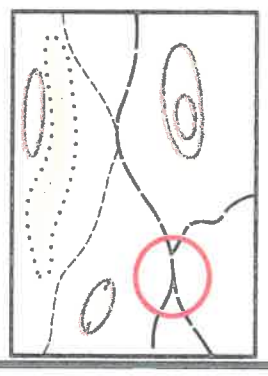

4 Какой КП стоит на северо-восточной горке?

а 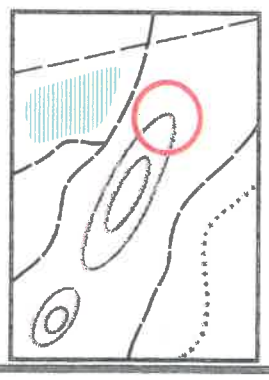

б 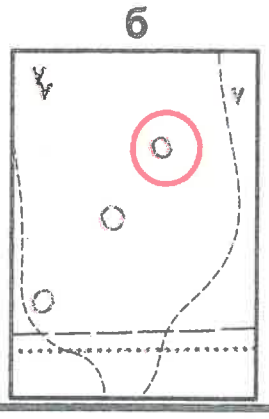

в 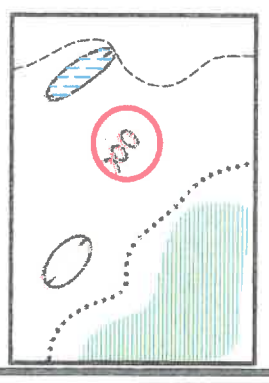

5 Какой КП стоит на юго-западном островке труднопроходимого леса?

а 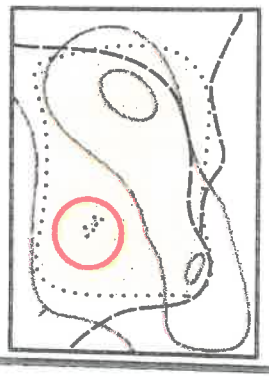

б 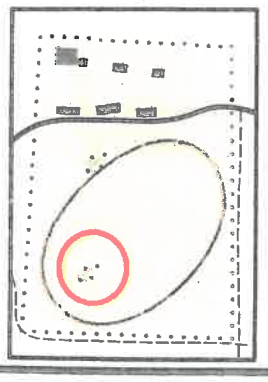

в 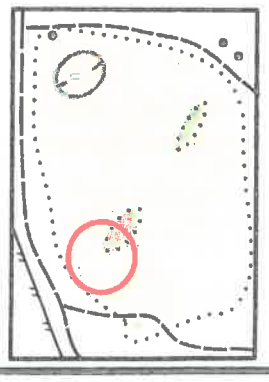

6 Какой КП находится в юго-западной воронке?

а 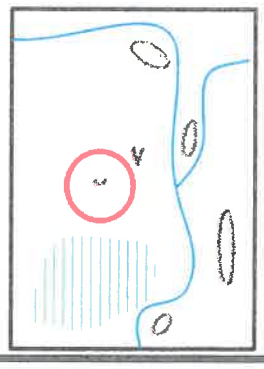

б 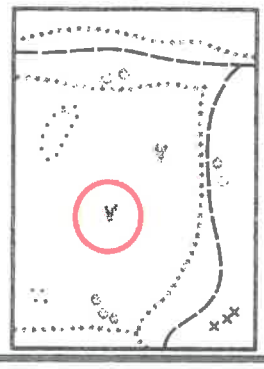

в 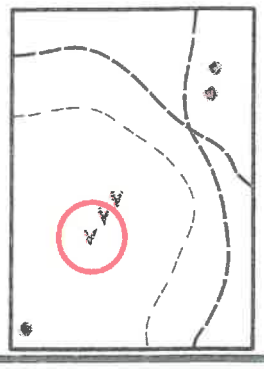

7 Какой КП стоит на западном болотце?

а 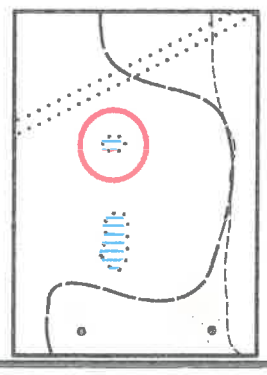

б 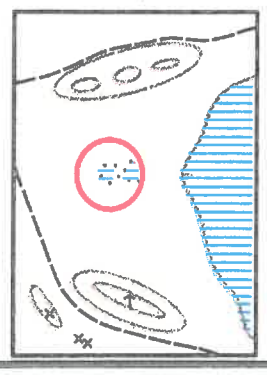

в 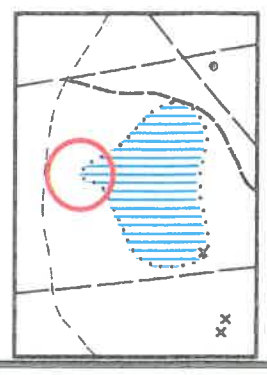

8 Какой КП стоит на северной лощине?

а 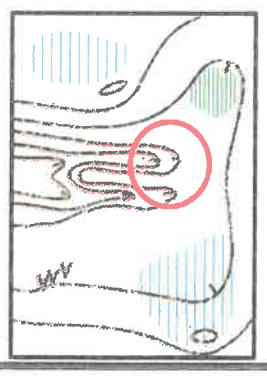

б 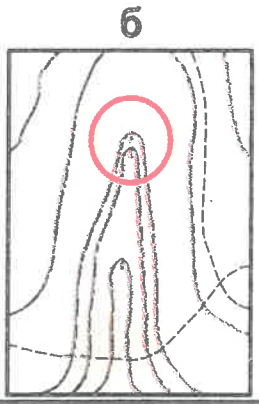

в 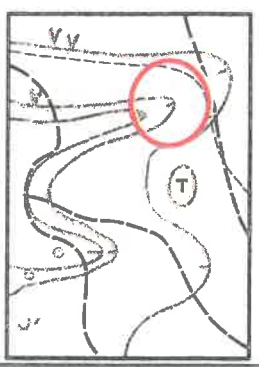

9 Какой КП стоит на северно-восточной поляне?

а 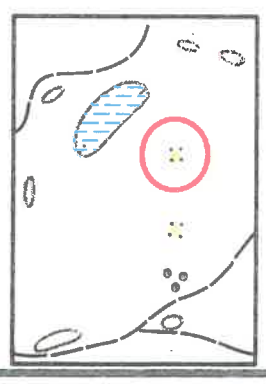

б 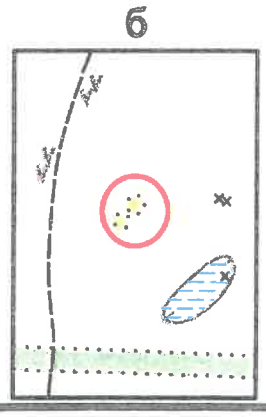

в 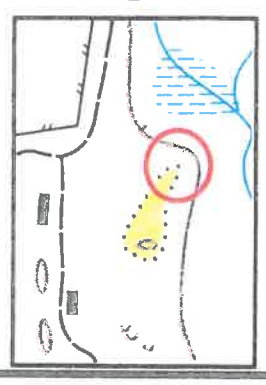

10 Какой КП стоит у восточной постройки?

а 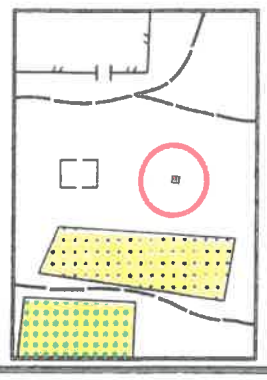

б 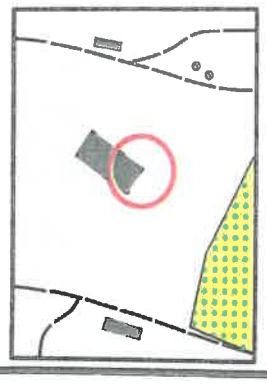

в 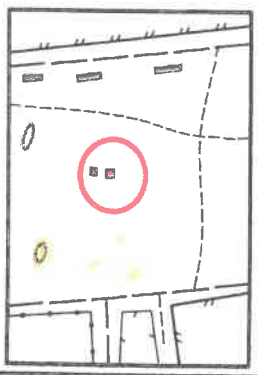

Тест 14

Какой КП стоит неправильно?

Какой КП стоит правильно?

1 а б в

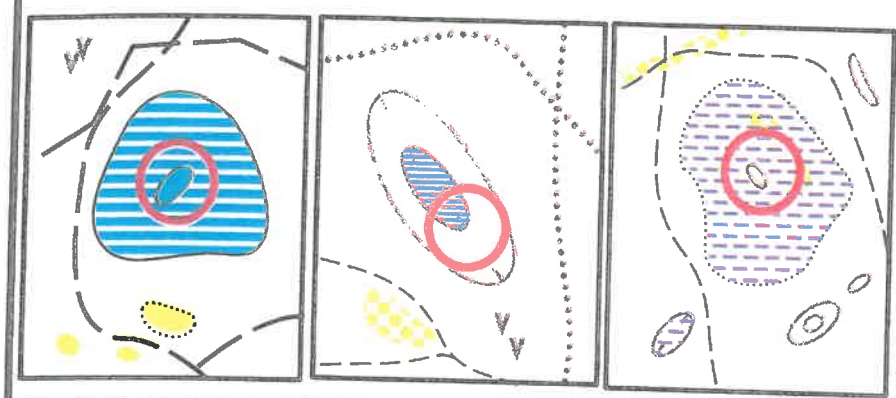

2 а б в

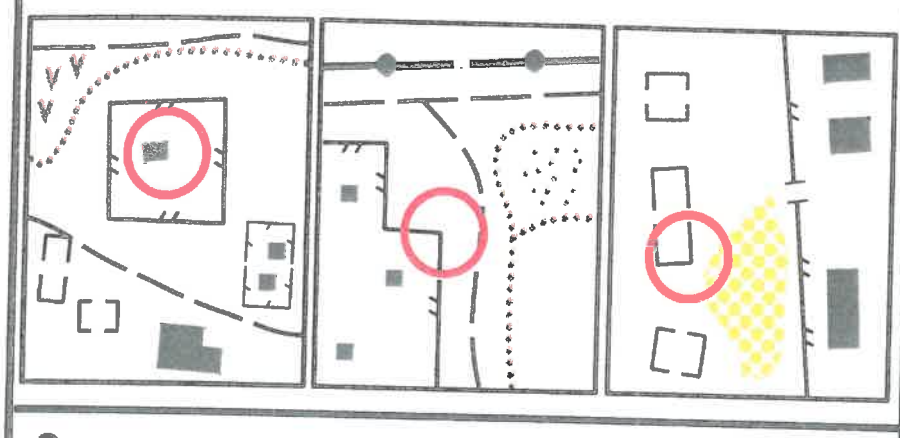

3 а б в

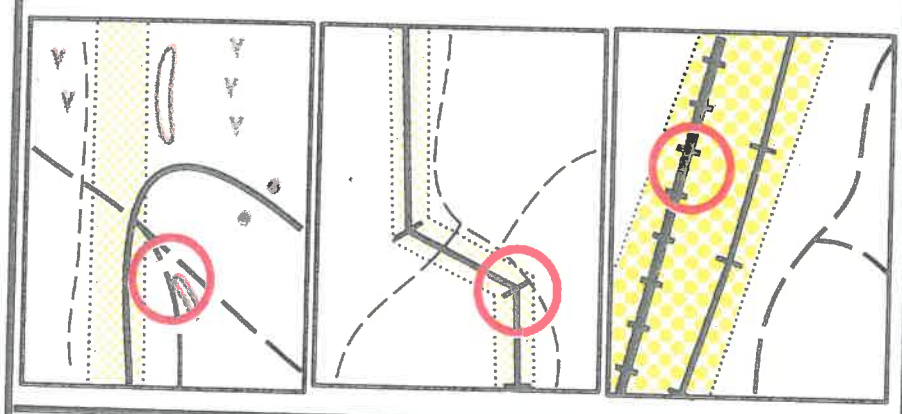

4 а б в

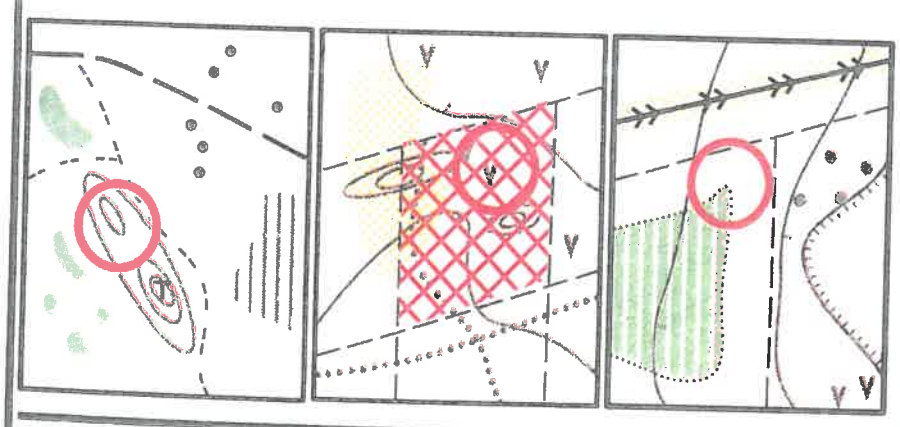

5 а б в

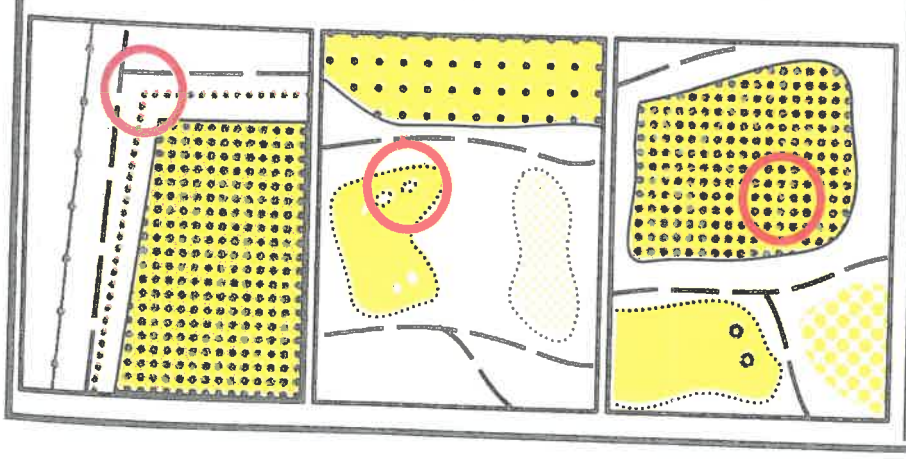

6 а б в

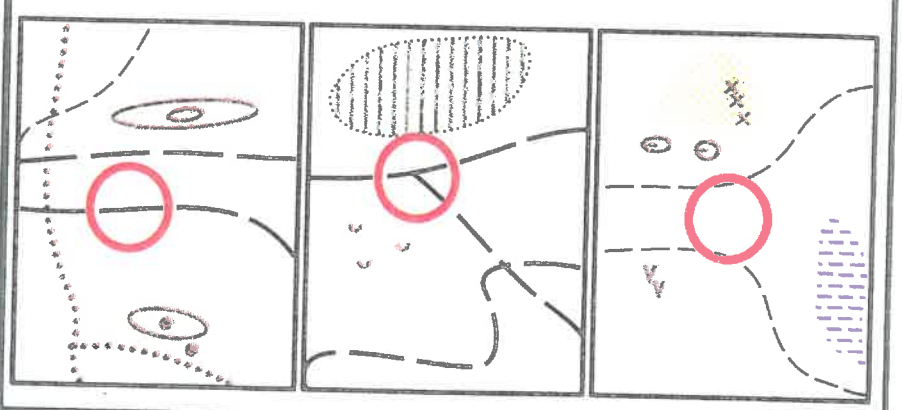

7 а б в

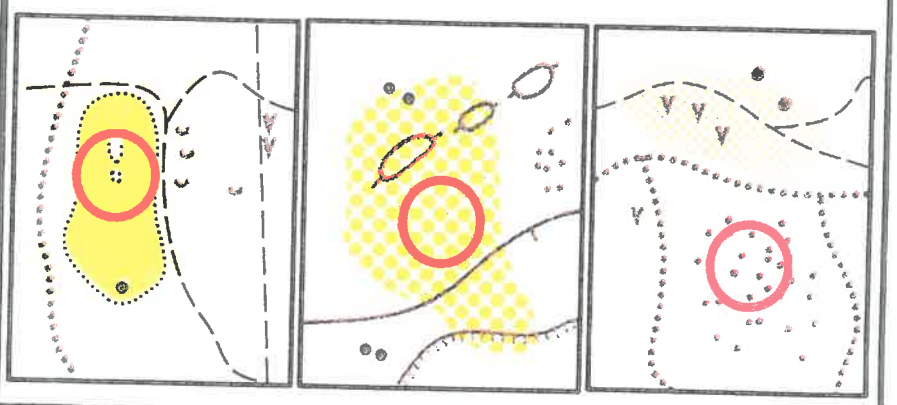

8 а б в

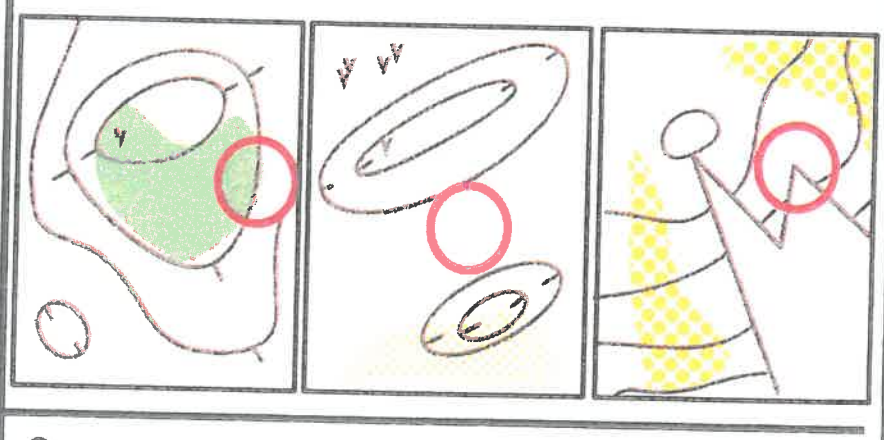

9 а б в

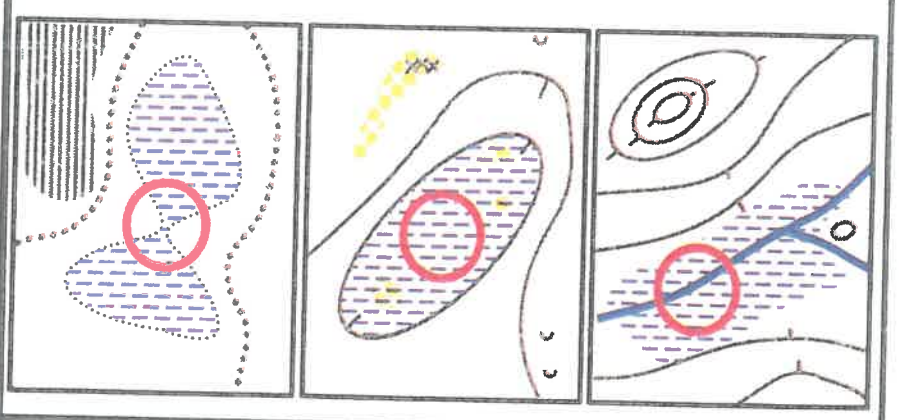

10 а б в

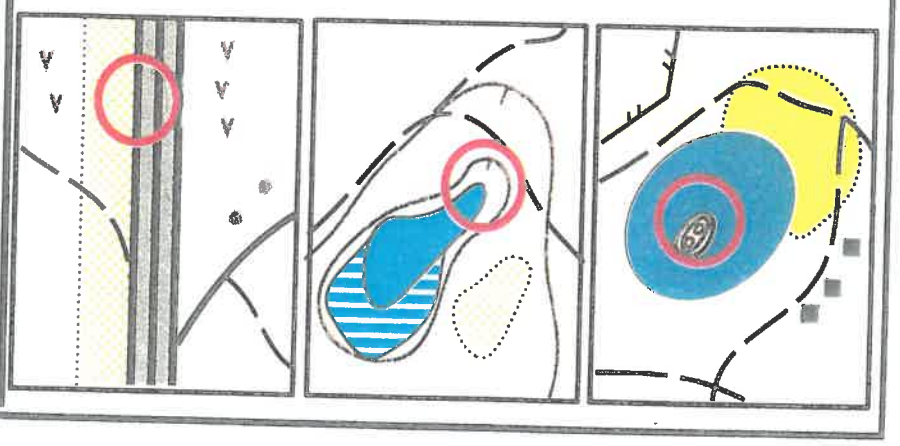

Тест 15

Какая карта сориентирована по компасу?

1

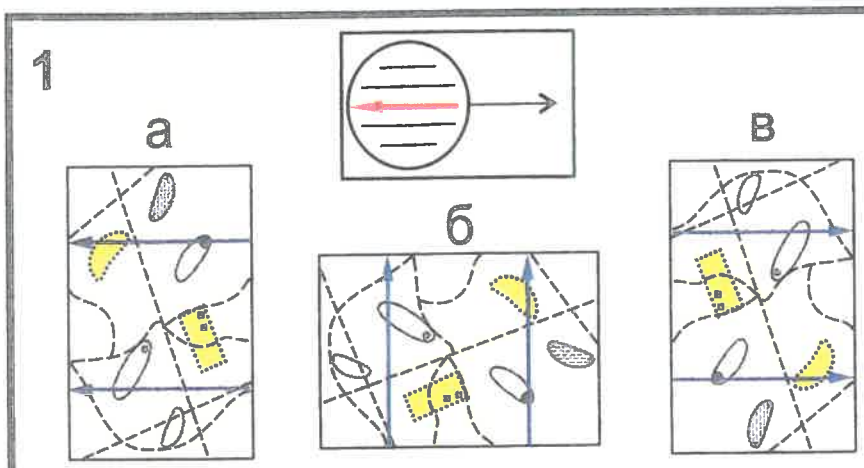

2

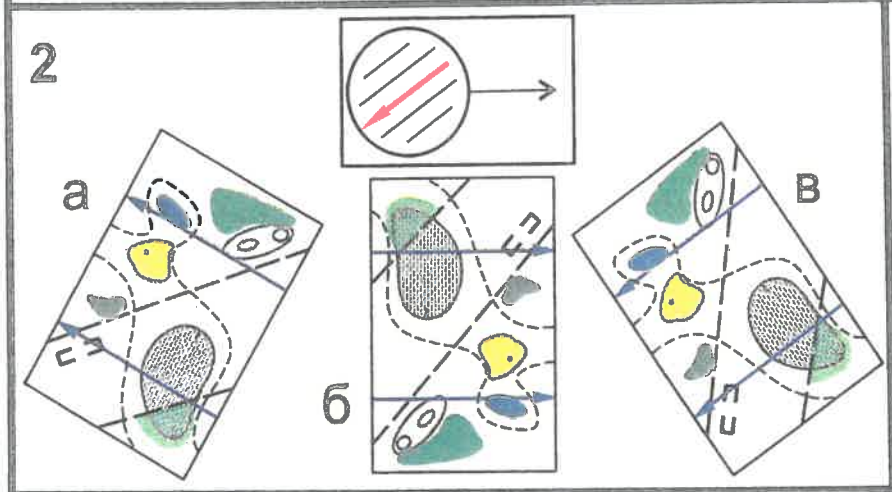

3

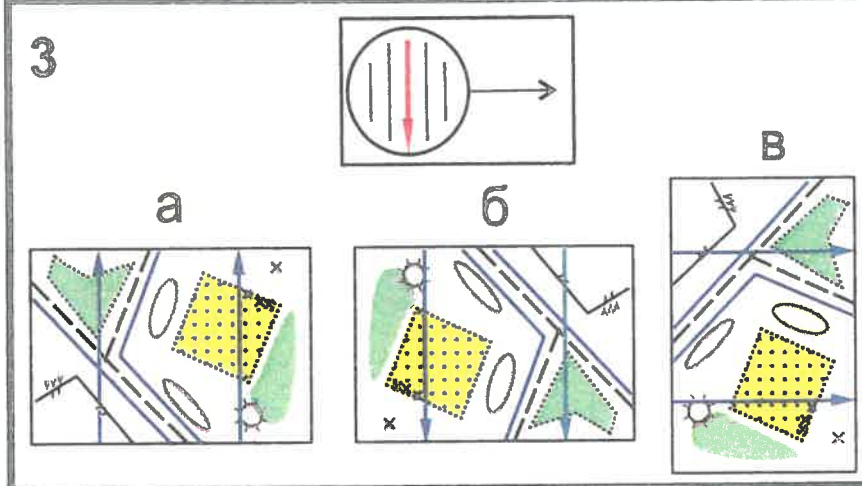

4

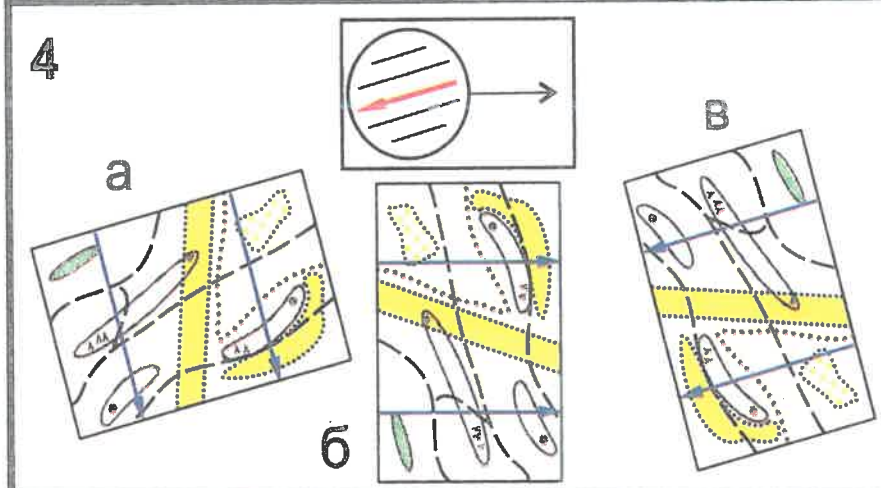

5

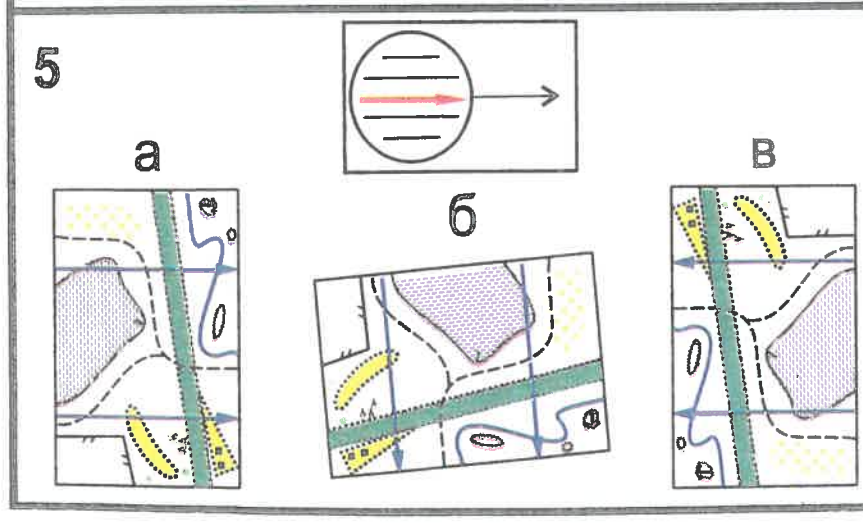

6

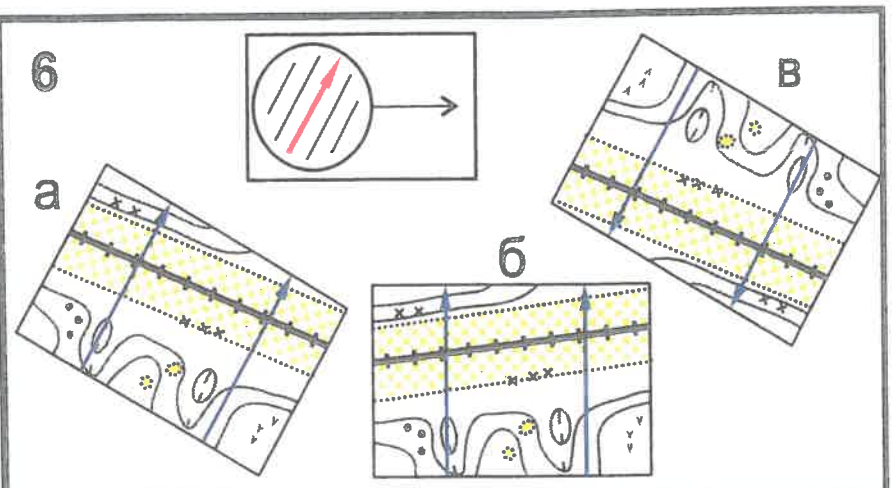

7

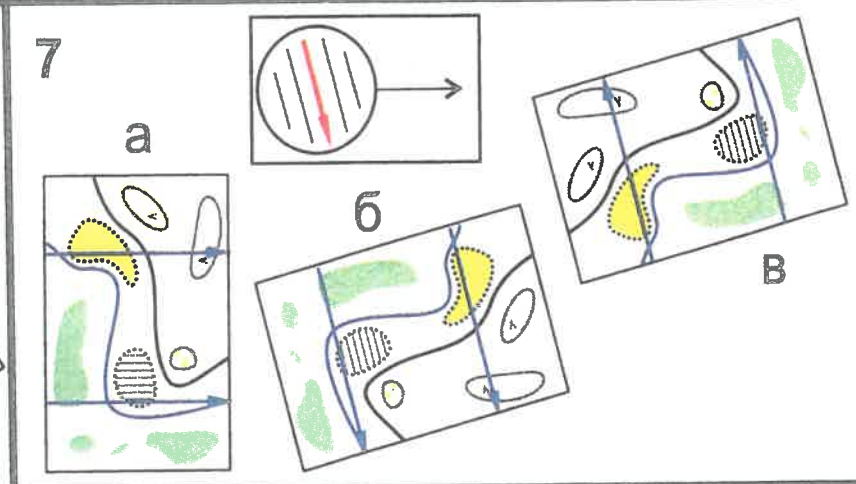

8

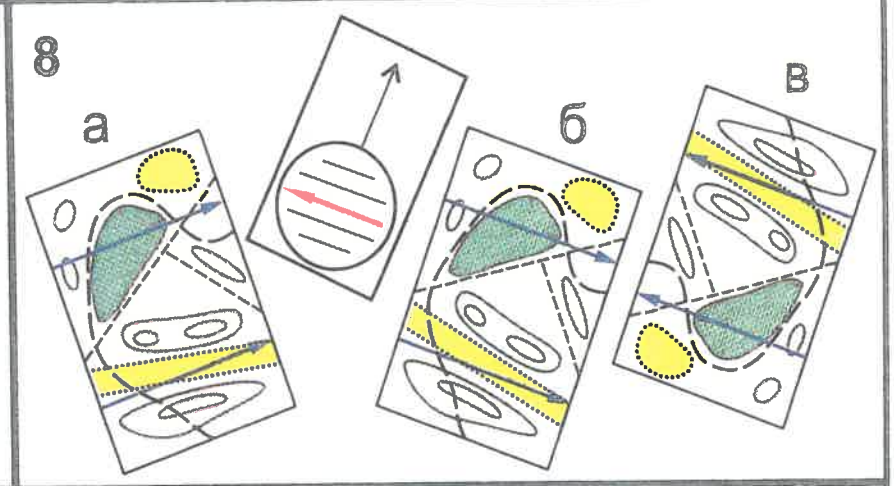

9

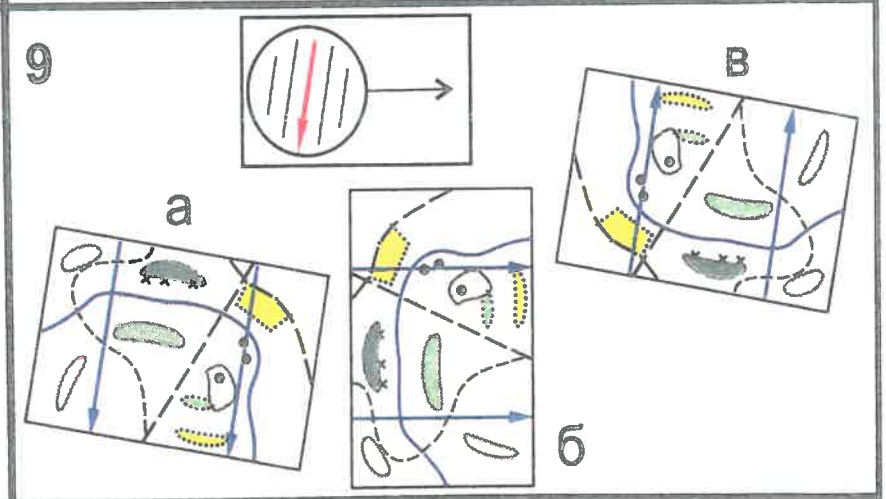

10

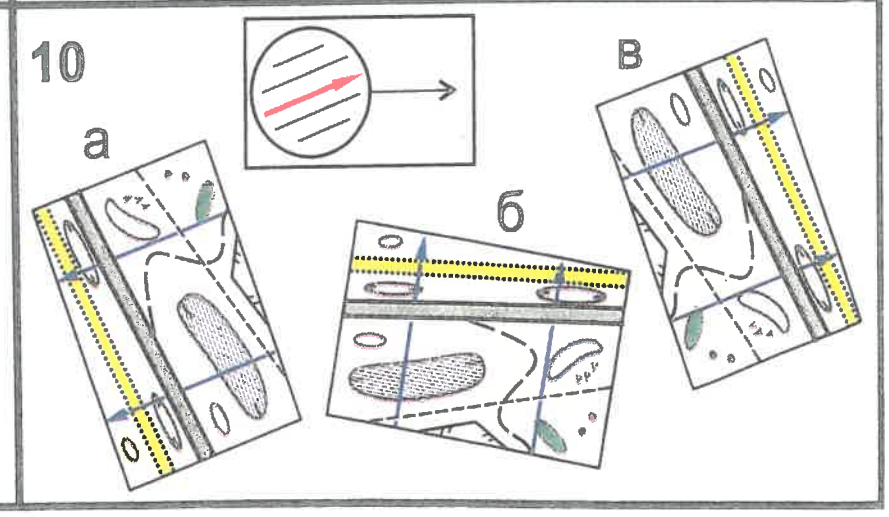

Тест 16

Какая карта сориентирована по компасу?

1

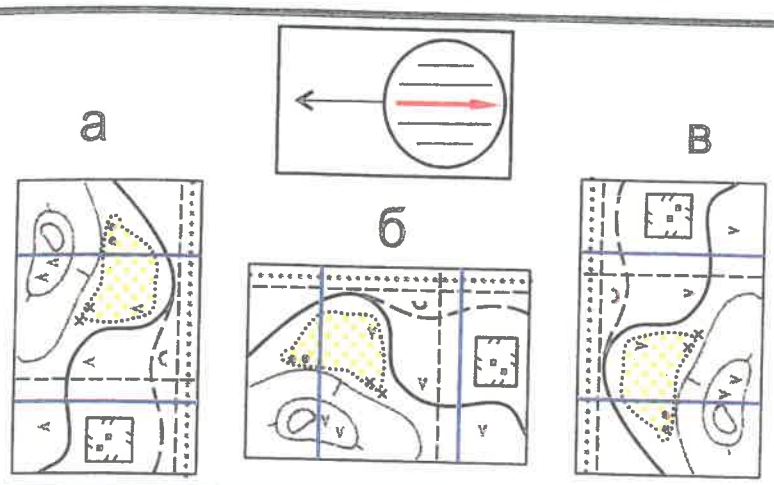

2

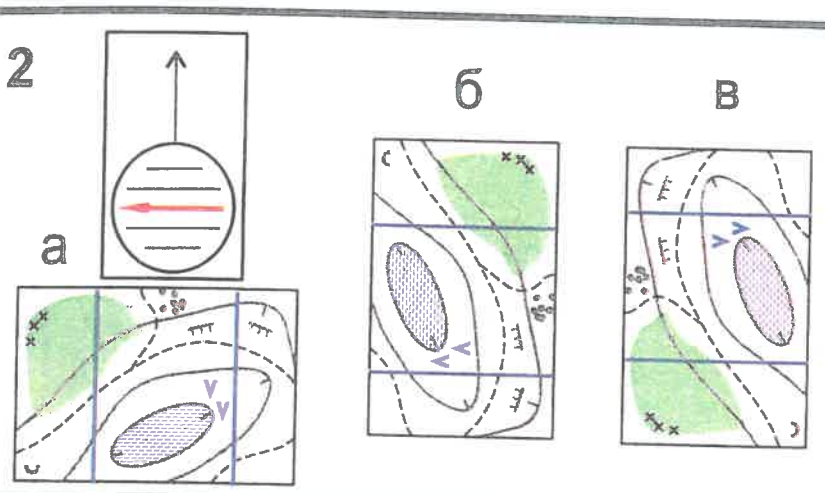

3

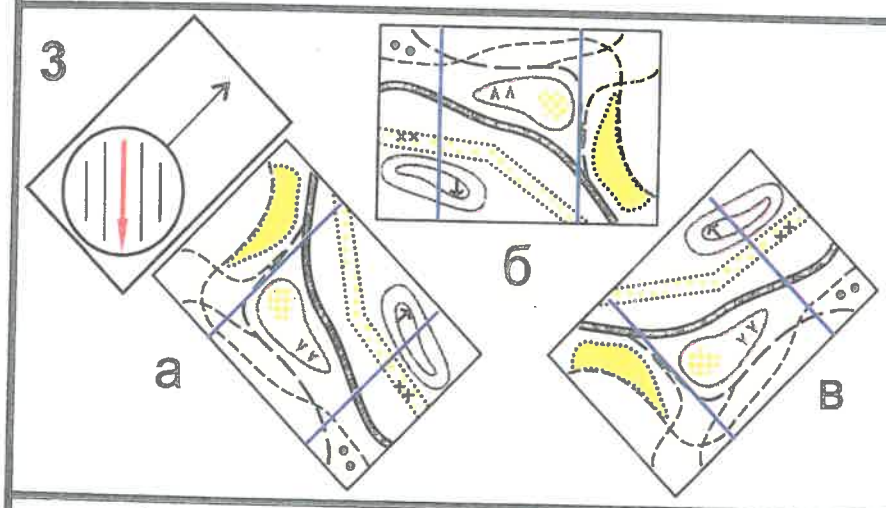

4

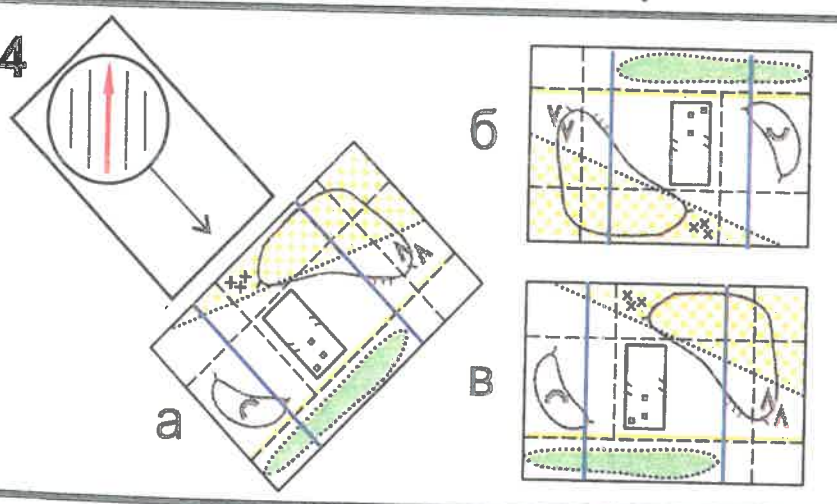

5

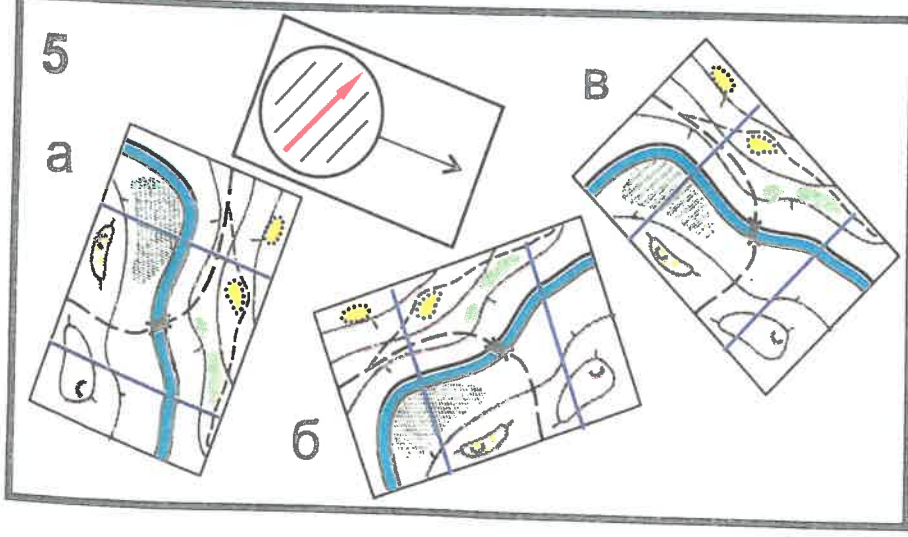

6

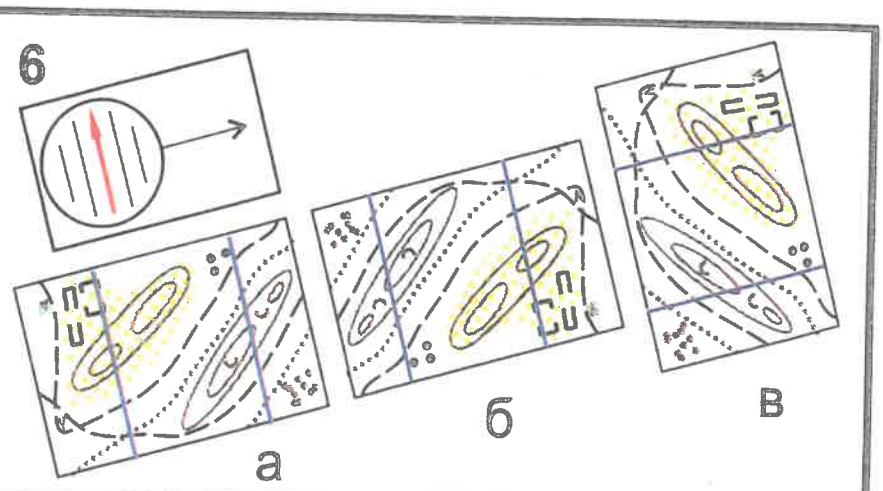

7

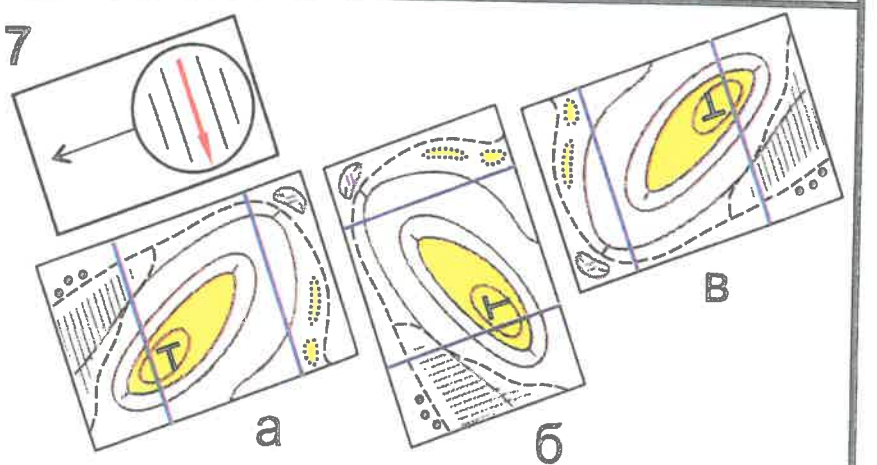

8

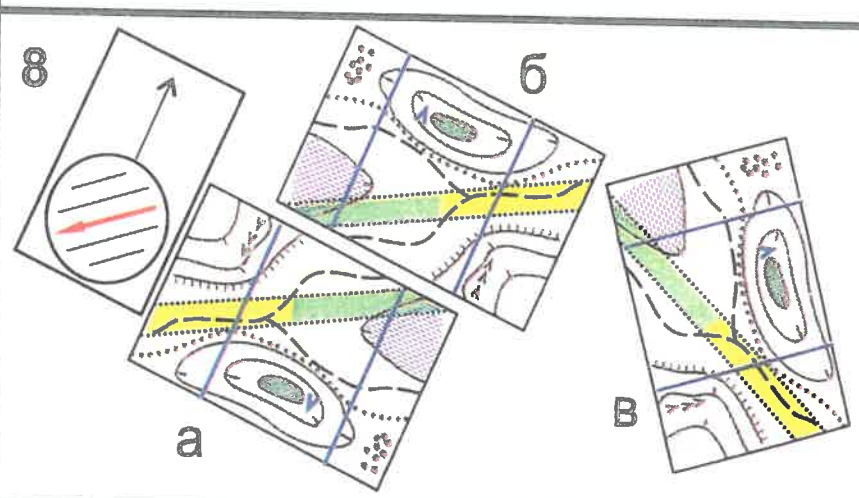

9

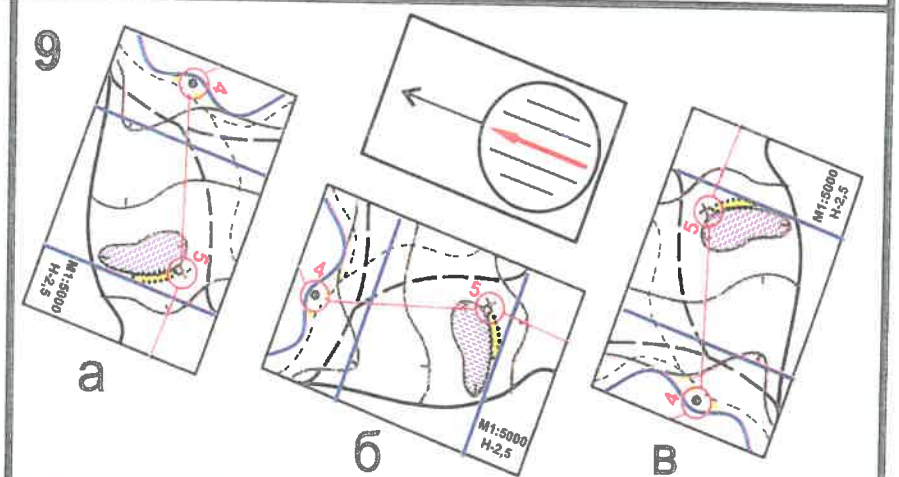

10

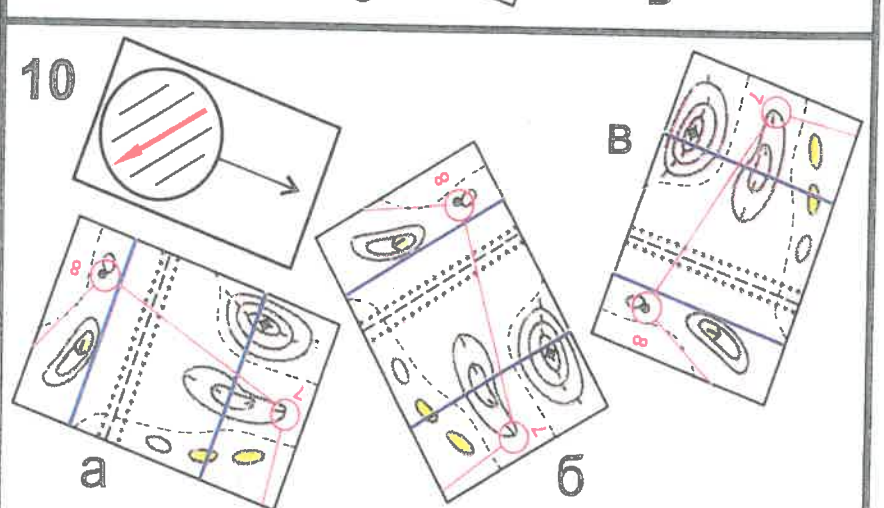

Тест 17

На какой КП придет участник, если со старта будет двигаться:

1 на запад

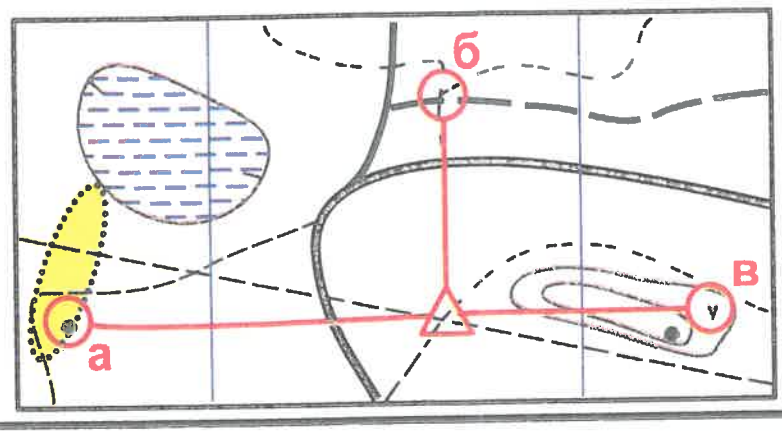

2 на юго-восток

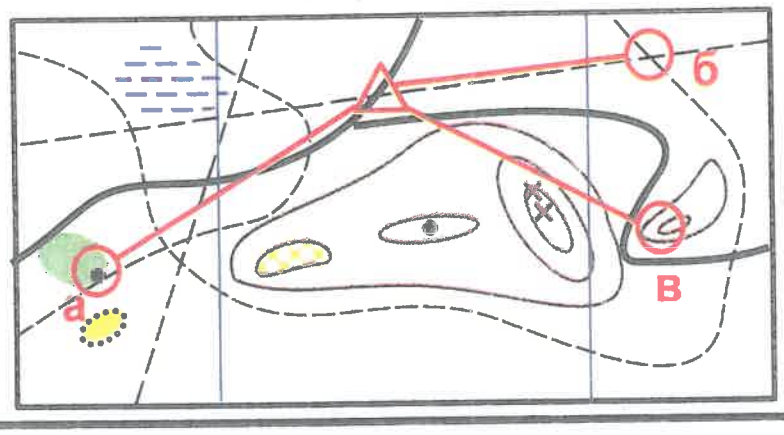

3 на северо-запад

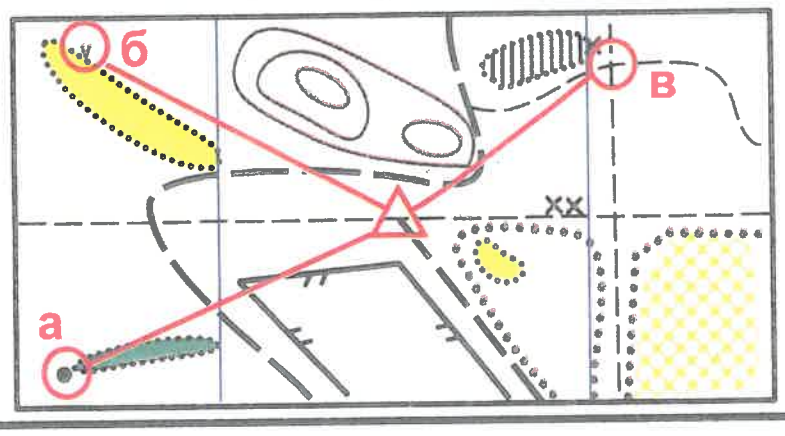

4 на юго-запад

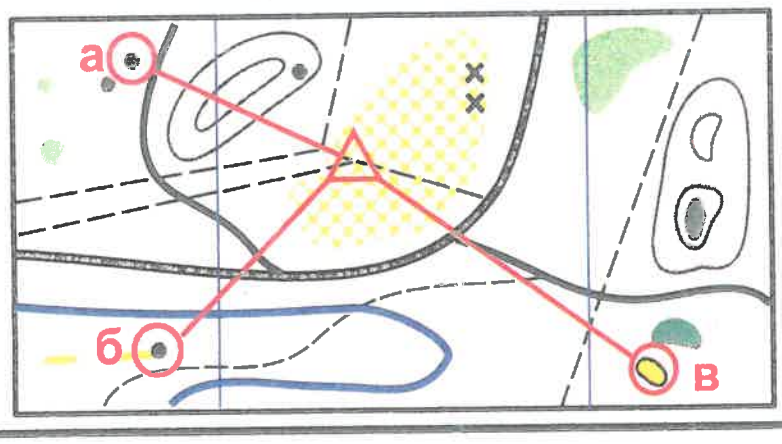

5 на север

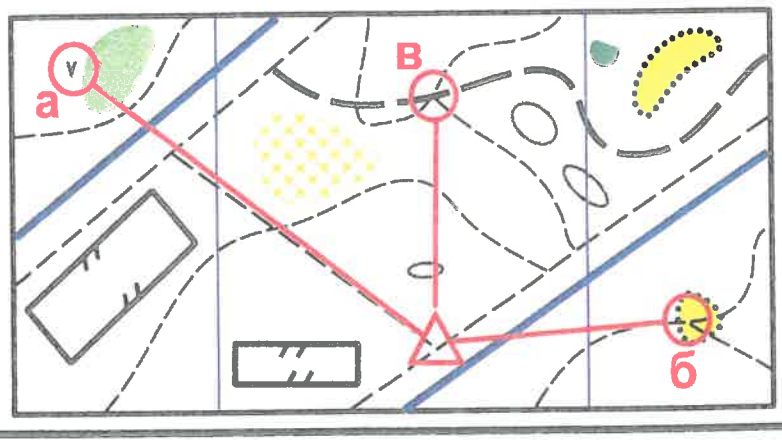

На какой КП придет участник, если будет двигаться:

6 по азимуту 45 градусов

7 по азимуту 180

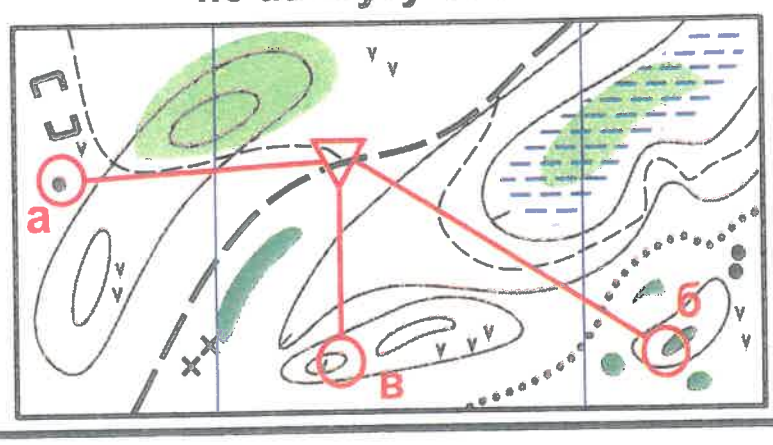

8 по азимуту 90 градусов

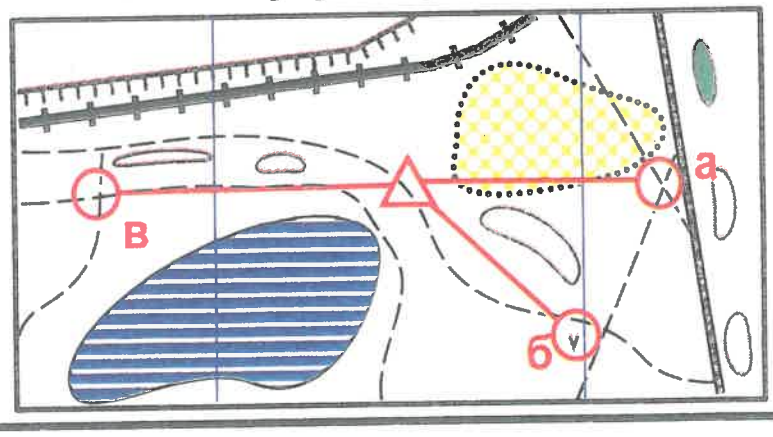

9 по азимуту 270

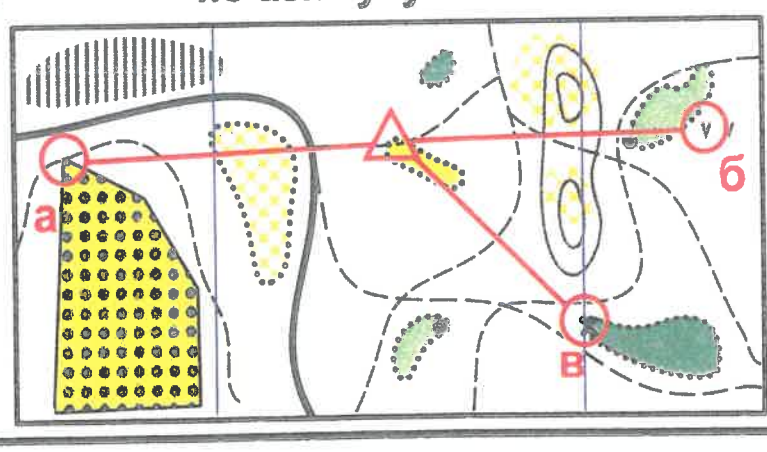

10 по азимуту 360

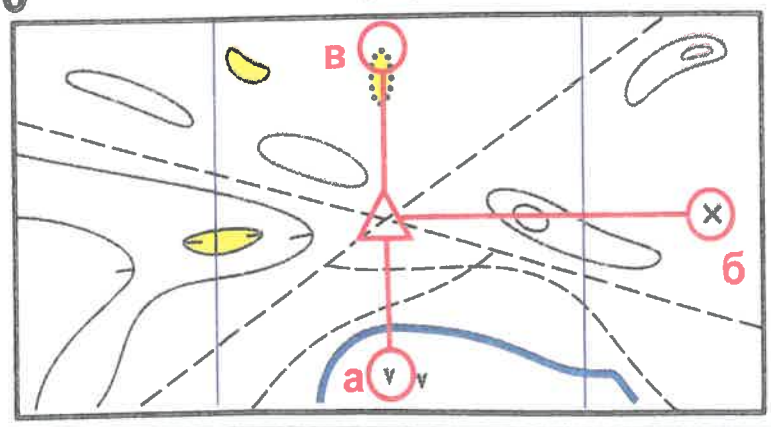

Тест 18

В каком направлении надо двигаться от старта, чтобы прийти на КП?

1

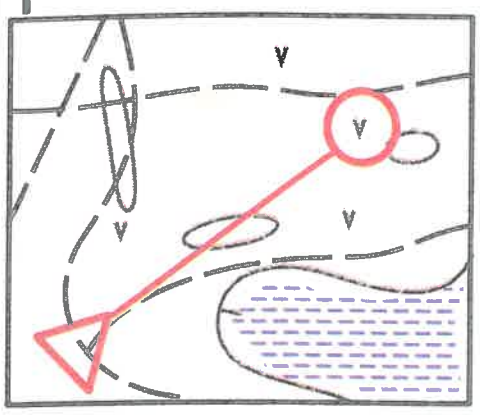

а) на северо-запад

б) на северо-восток

в) на восток

2

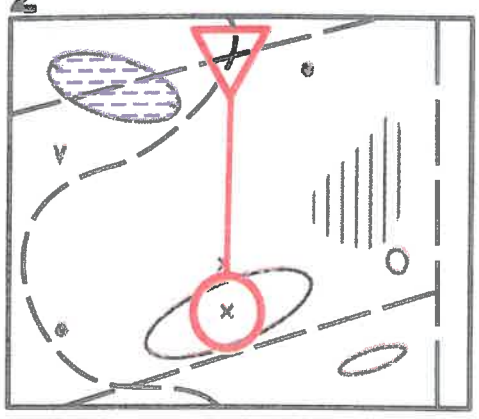

а) на юг

б) на восток

в) на север

3

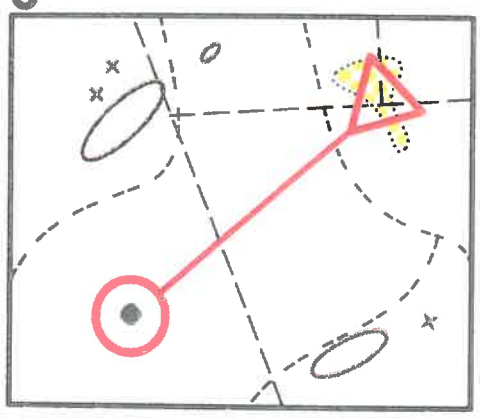

а) на юго-запад

б) на северо-запад

в) на юго-восток

4

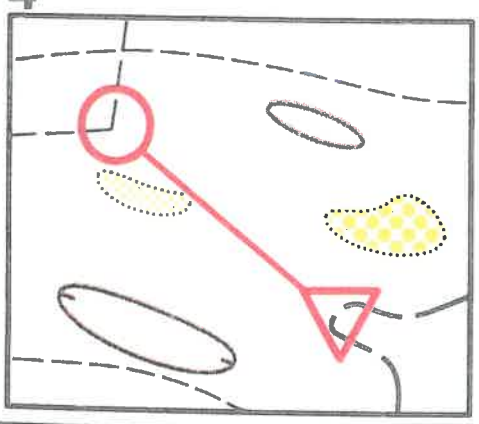

а) на северо-восток

б) на запад

в) на северо-запад

5

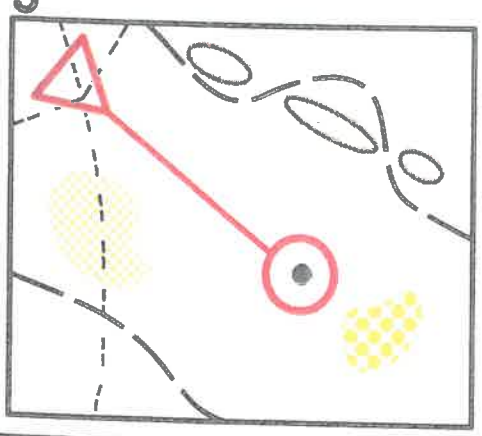

а) на юго-запад

б) на юго-восток

в) на юг

По какому азимуту надо двигаться от старта, чтобы прийти на КП?

6

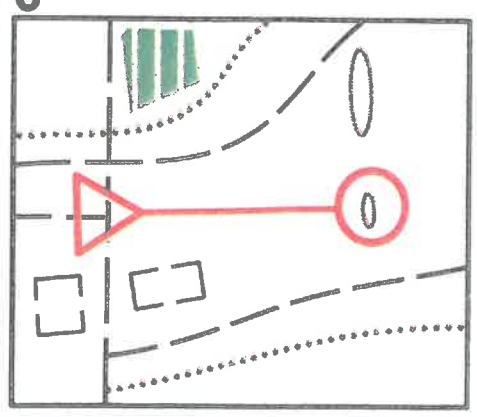

а) 90 градусов

б) 270 градусов

в) 180 градусов

7

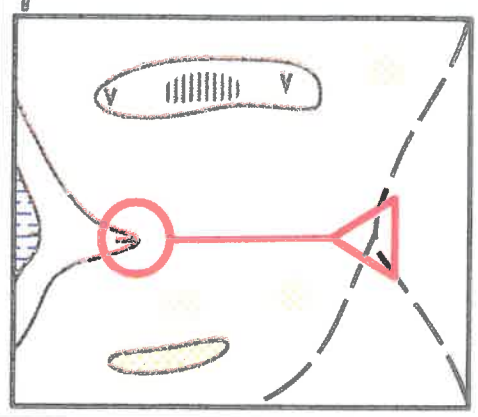

а) 45 градусов

б) 90 градусов

в) 270 градусов

8

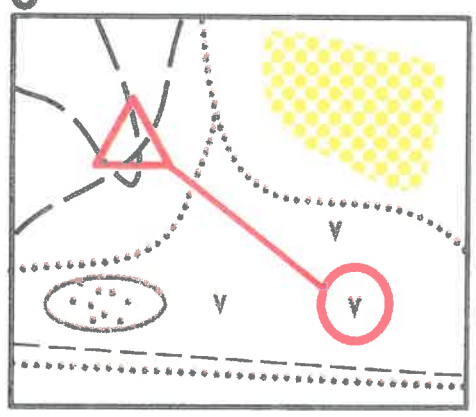

а) 135 градусов

б) 45 градусов

в) 225 градусов

9

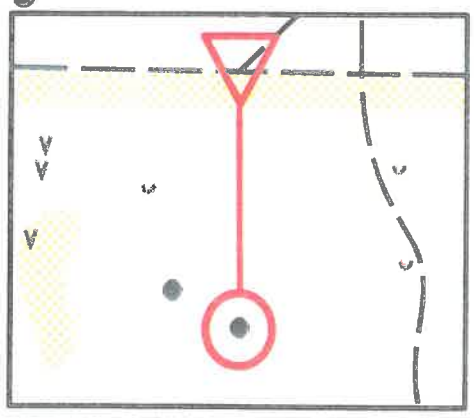

а) 270 градусов

б) 180 градусов

в) 315 градусов

10

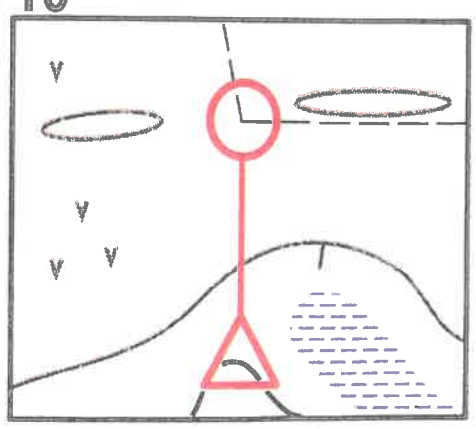

а) 180 градусов

б) 90 градусов

в) 360 градусов

Тест 19

На какой КП придет участник, если со старта будет двигаться:

1 на запад

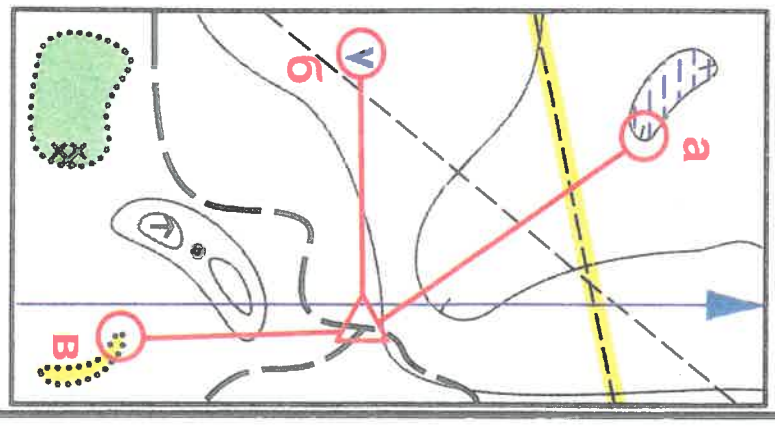

2 на восток

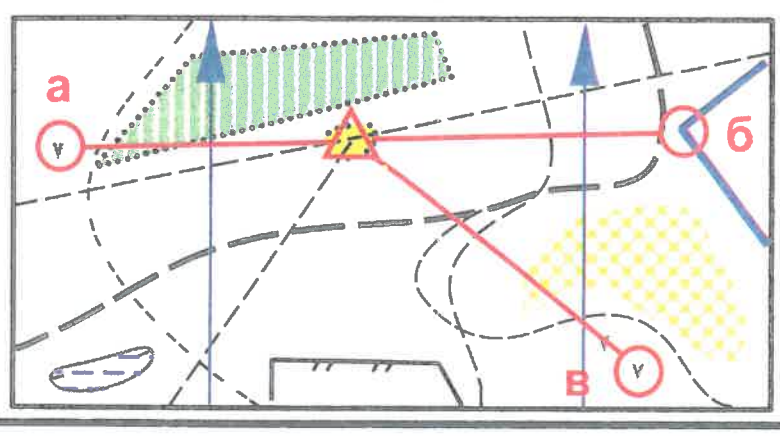

3 на север

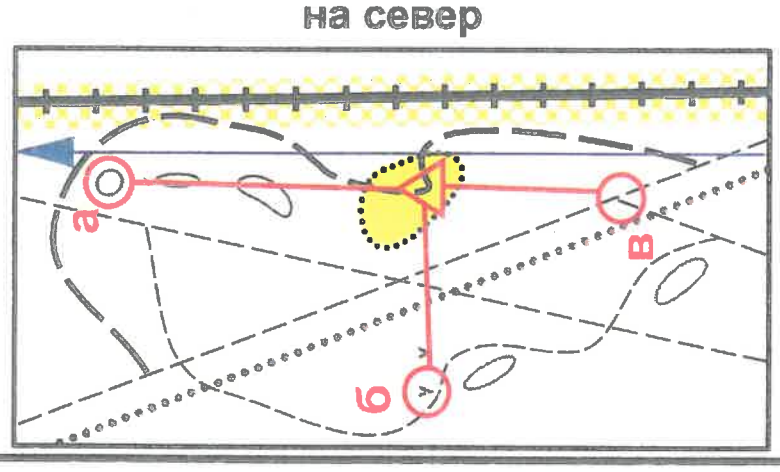

4 на юго-запад

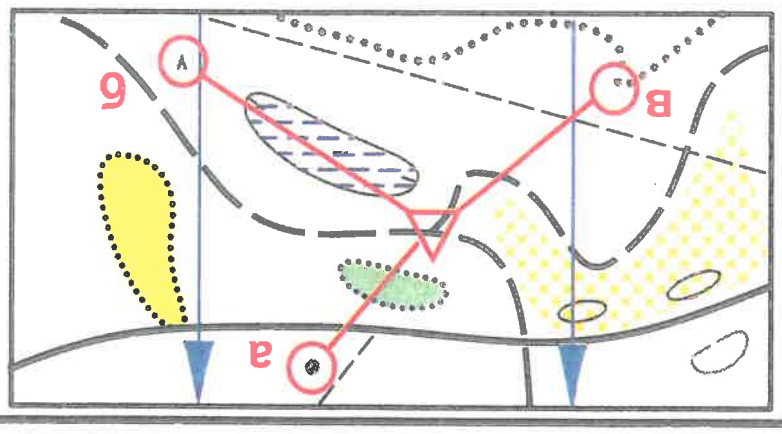

5 на северо-восток

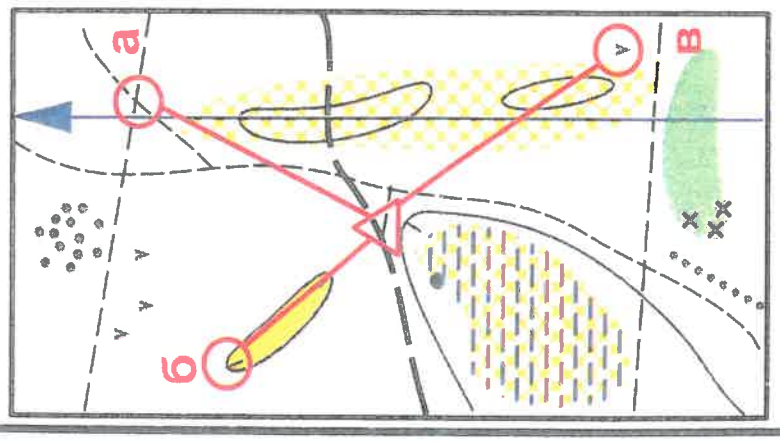

На какой КП придет участник, если будет двигаться:

6 по азимуту 180

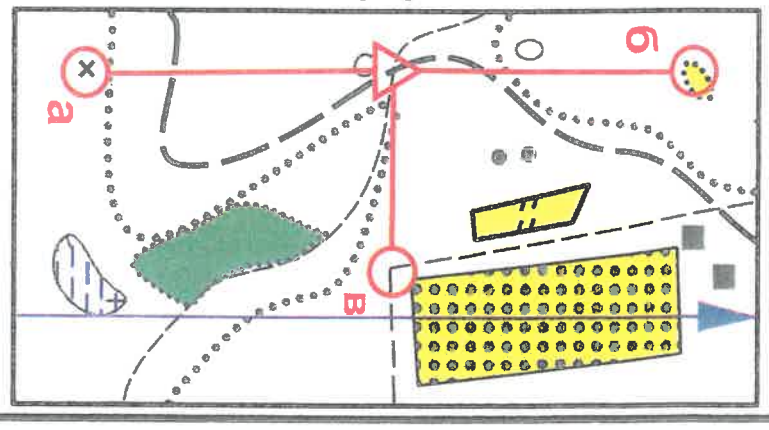

7 по азимуту 45 градусов

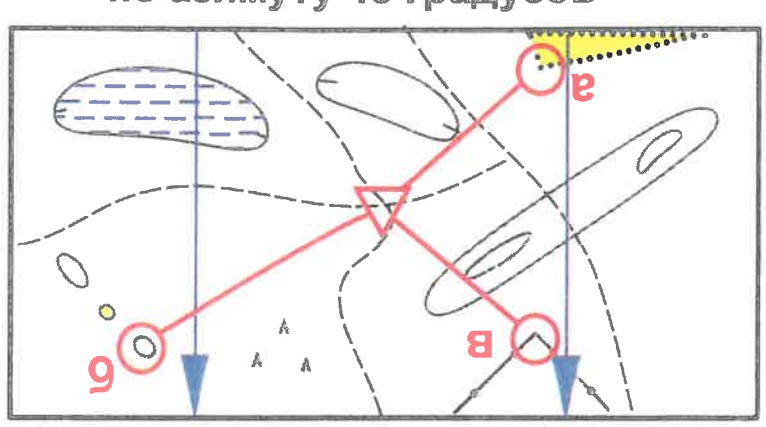

8 по азимуту 270

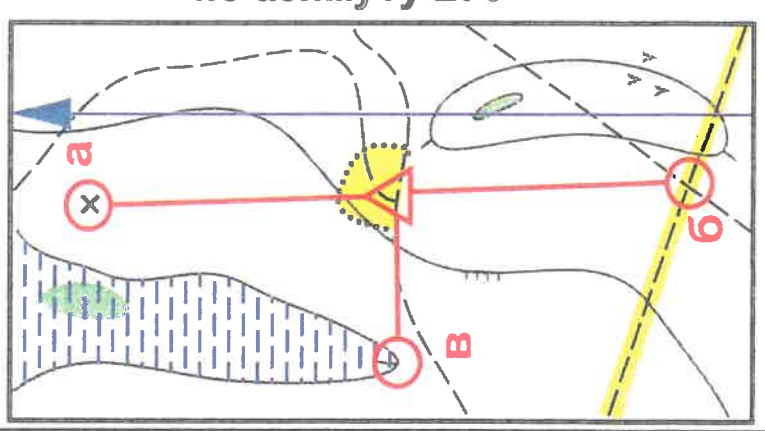

9 по азимуту 135

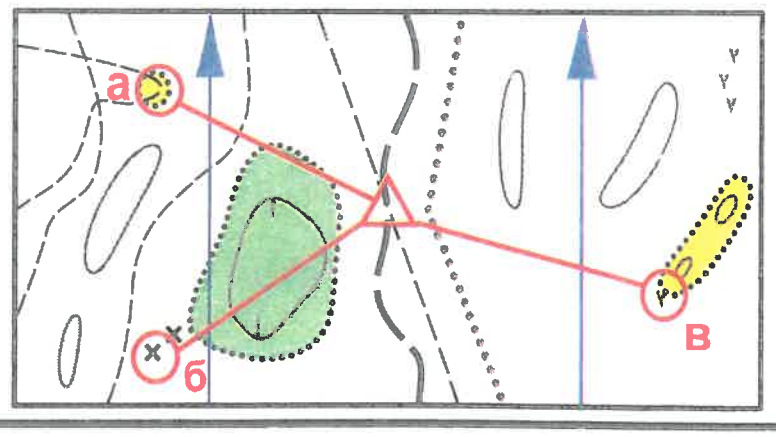

10 по азимуту 90 градусов

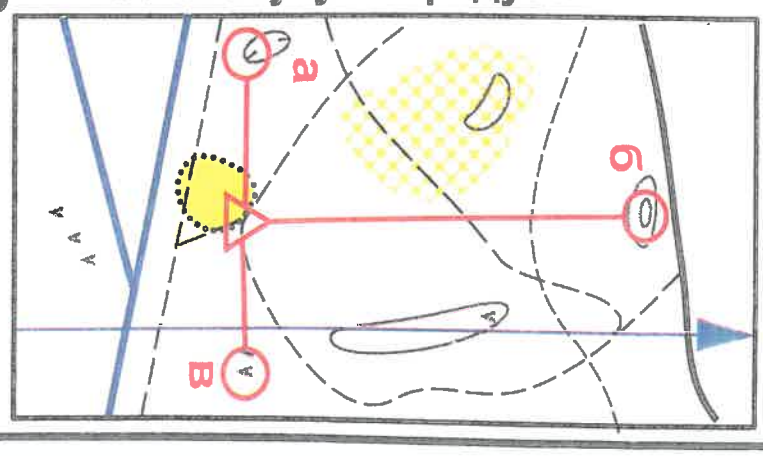

Тест 20

На какой КП придет участник, если со старта будет двигаться:

1 на север

а 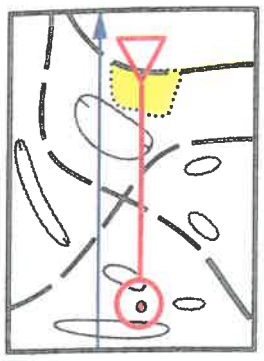

б 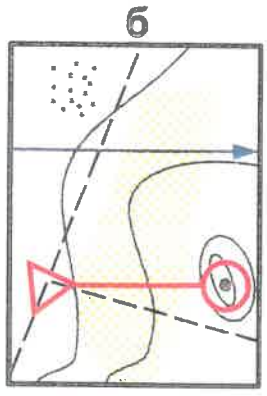

в 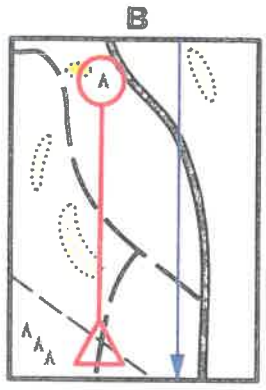

2 на запад

а

б 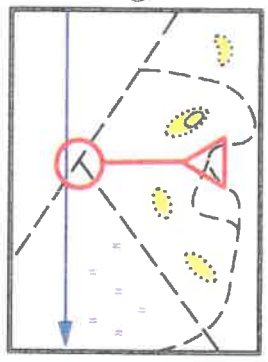

в 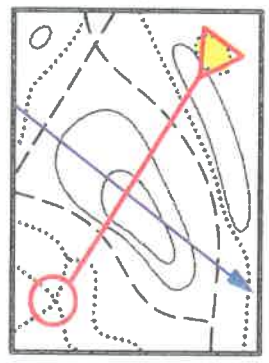

3 на юго-восток

а 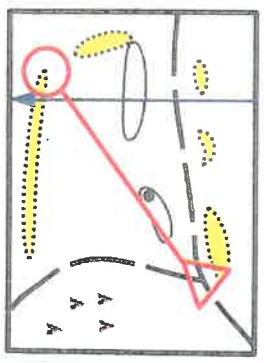

б 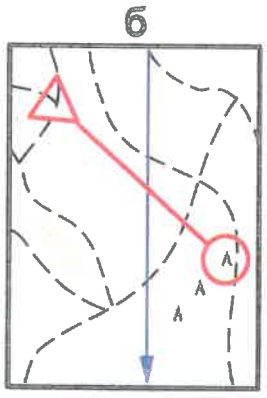

в 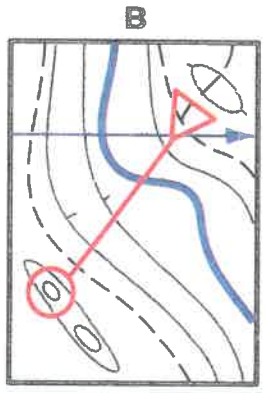

4 на северо-запад

а 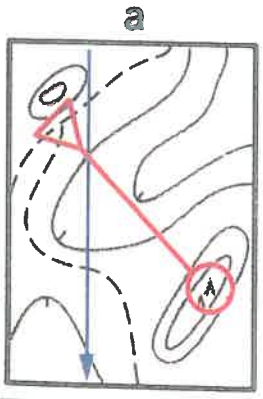

б 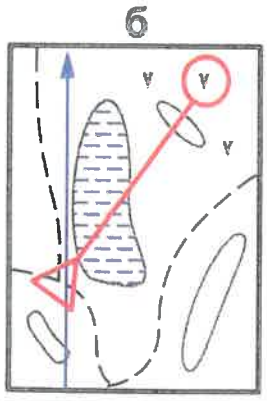

в 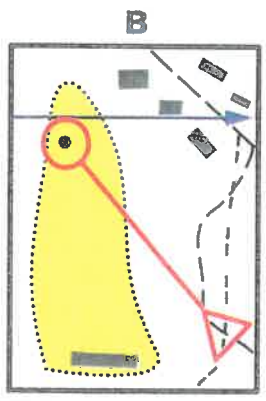

5 на юг

а 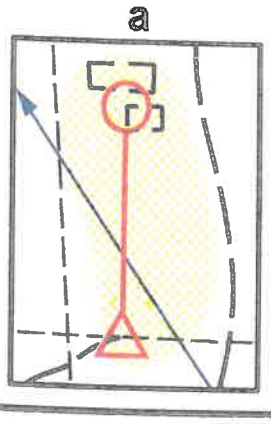

б 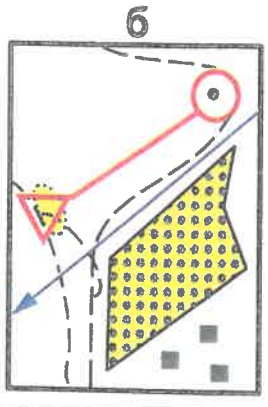

в 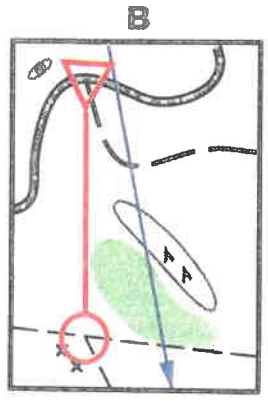

На какой КП придет участник, если будет двигаться:

6 по азимуту 180

а 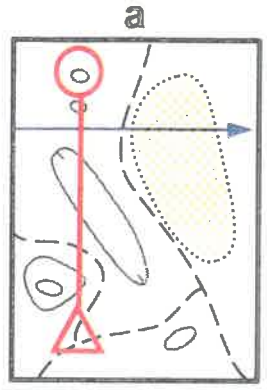

б 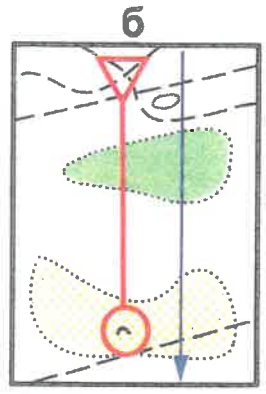

в 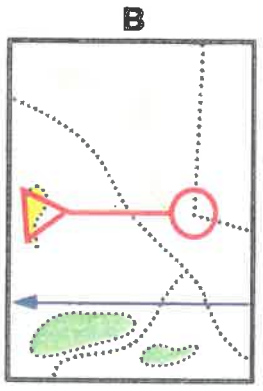

7 по азимуту 225

а 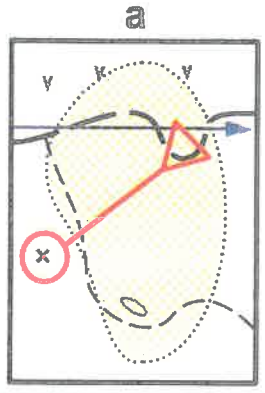

б 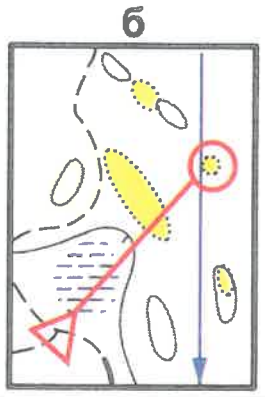

в 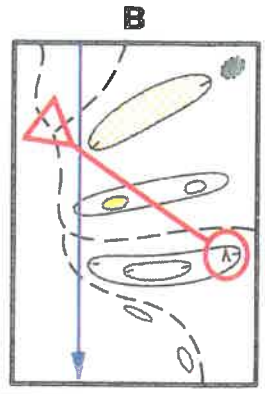

8 по азимуту 45 градусов

а 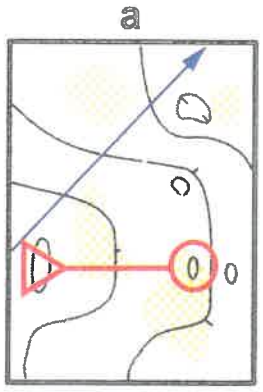

б 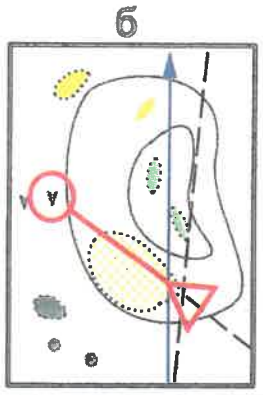

в 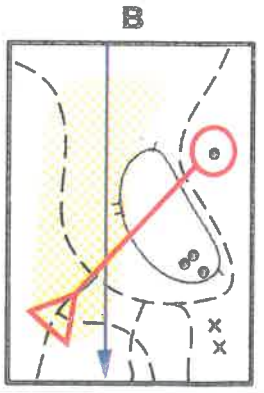

9 по азимуту 360

а 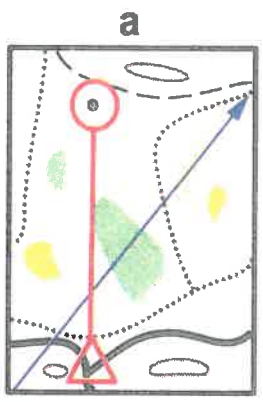

б 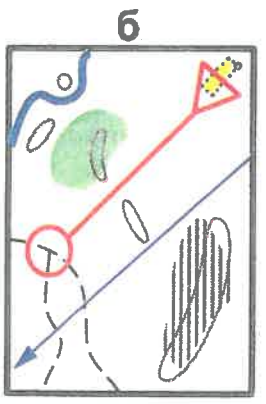

в 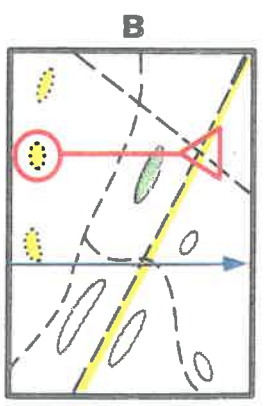

10 по азимуту 315

а 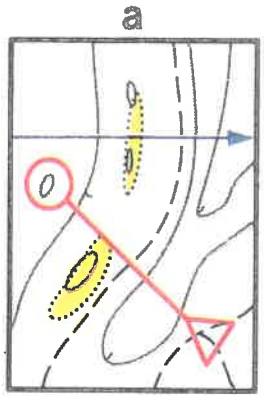

б 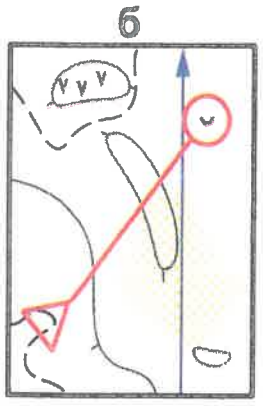

в 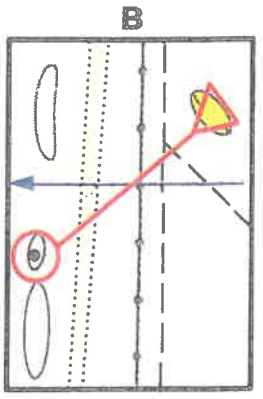

Тест 21

В каком направлении надо двигаться от старта, чтобы прийти на КП?

По какому азимуту надо двигаться от старта, чтобы прийти на КП?

1

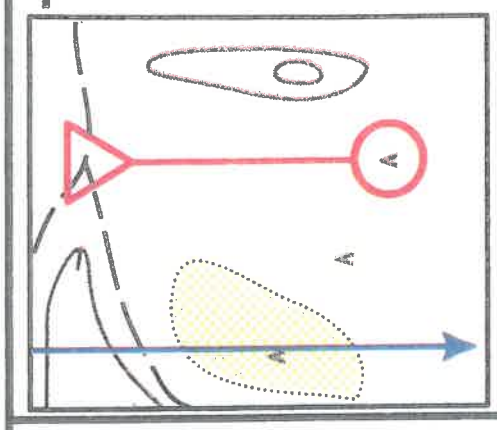

а) на запад

б) на восток

в) на север

2

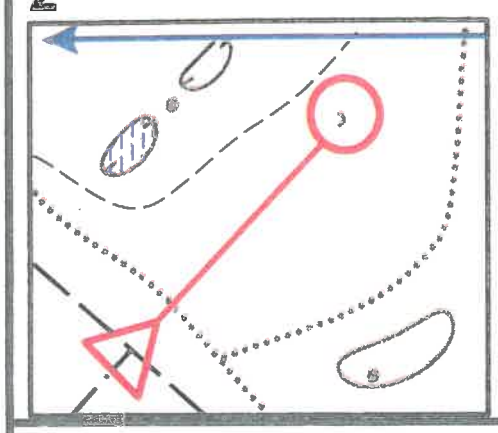

а) на юго-восток

б) на северо-восток

в) на юго-запад

3

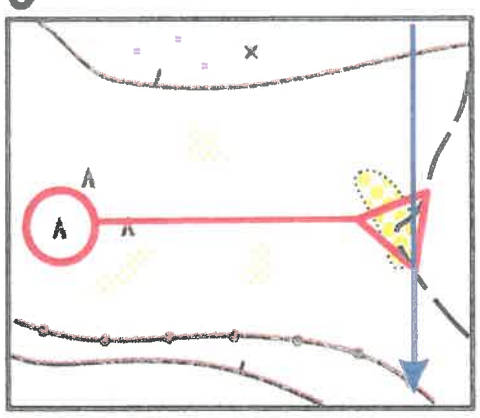

а) на север

б) на восток

в) на запад

4

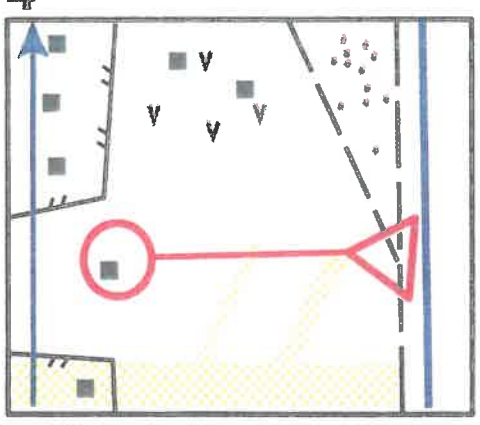

а) на юг

б) на восток

в) на запад

5

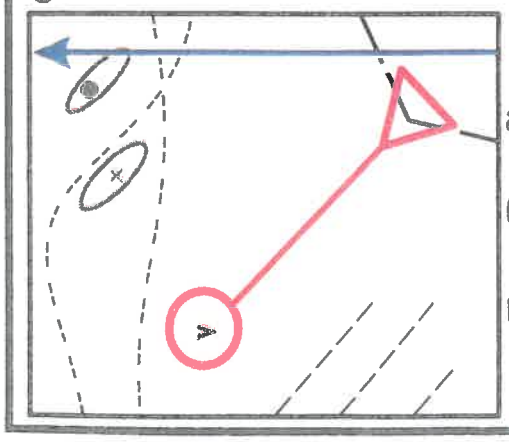

а) на северо-восток

б) на северо-запад

в) на юго-запад

6

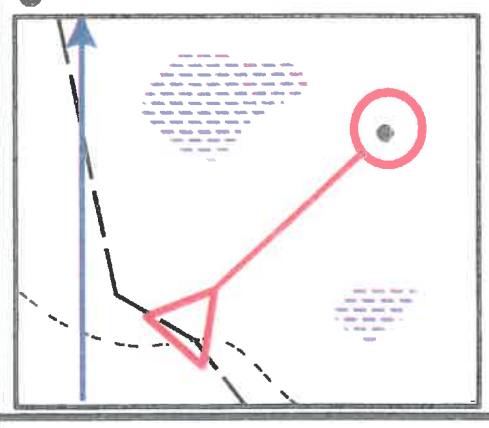

а) 45 градусов

б) 315 градусов

в) 225 градусов

7

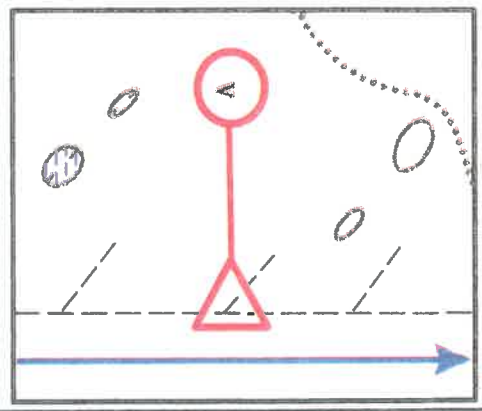

а) 180 градусов

б) 270 градусов

в) 90 градусов

8

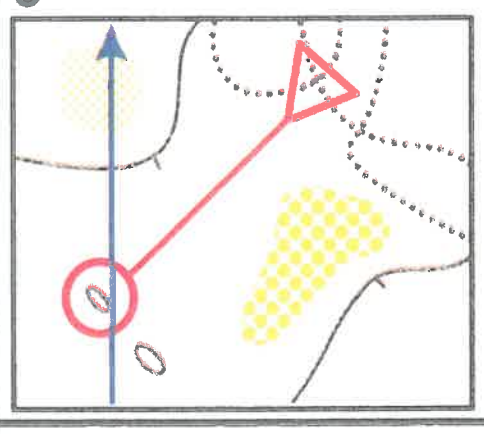

а) 315 градусов

б) 135 градусов

в) 225 градусов

9

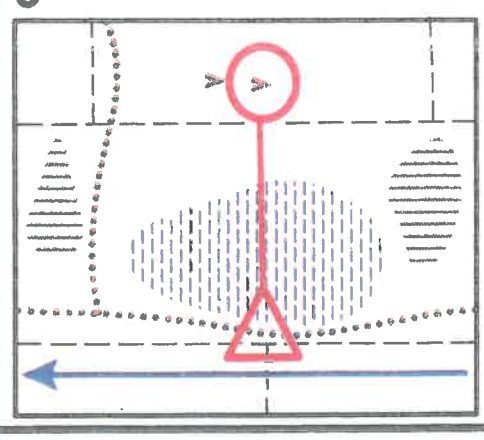

а) 90 градусов

б) 360 градусов

в) 270 градусов

10

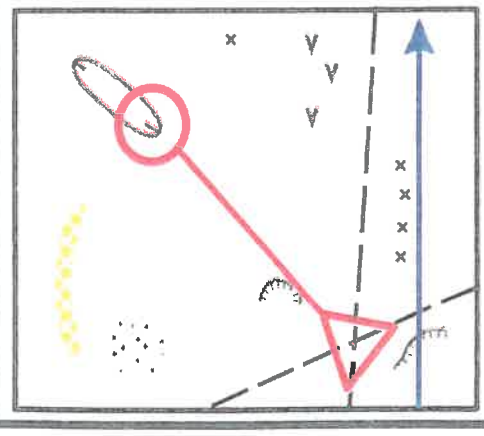

а) 270 градусов

б) 45 градусов

в) 315 градусов

Тест 22

М 1 : 5000

1 Чему равно расстояние на местности, если на карте - 6 см?

а) 600м б) 300 м в) 450 м

2 Сколько примерно метров от старта до КП?

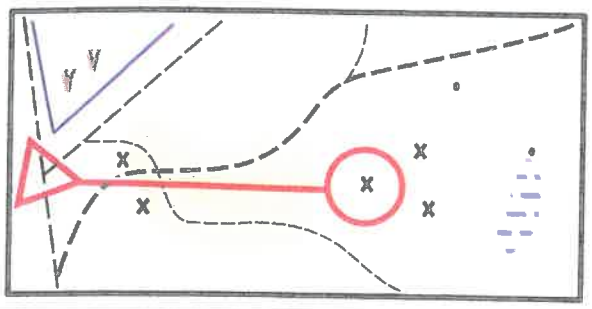

а) 400 м

б) 150 м

в) 800 м

3 Какой КП находится на расстоянии 300 м от старта?

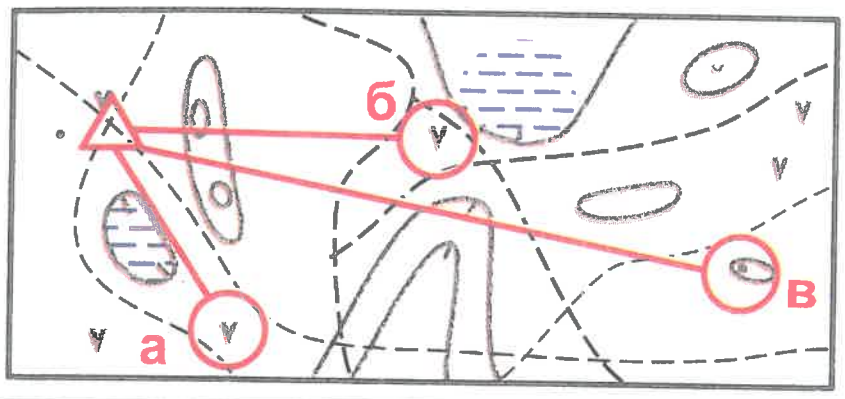

4 Сколько примерно метров вы пройдете до КП, двигаясь от старта на запад?

а) 600м б) 300 м в) 150 м

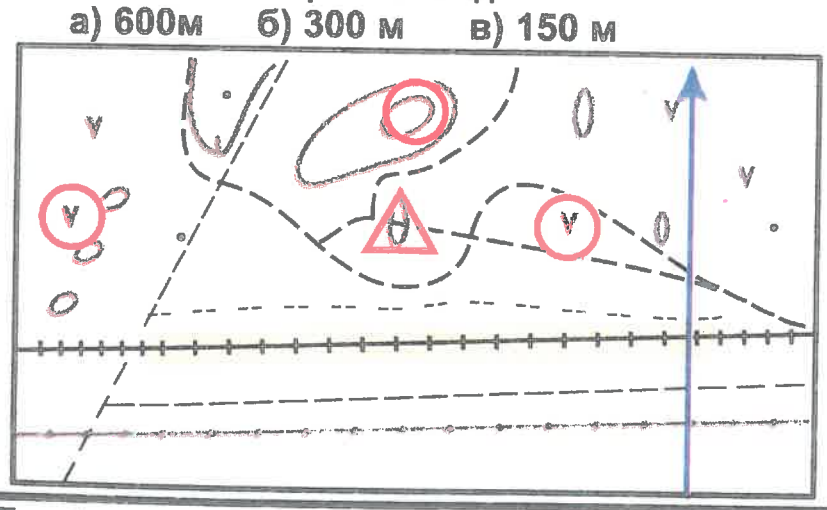

5 Между какими КП расстояние 200м?

а

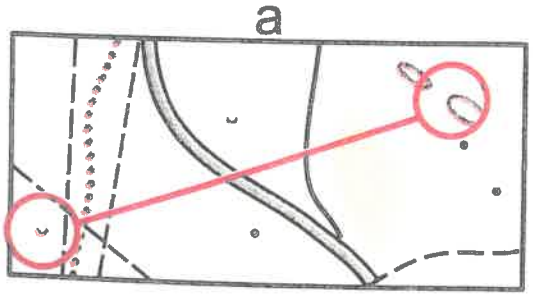

в

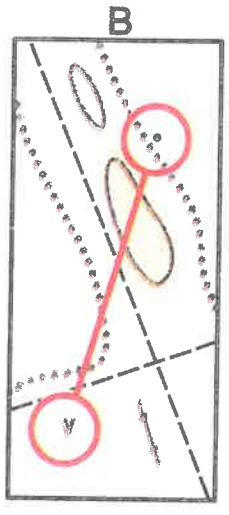

б

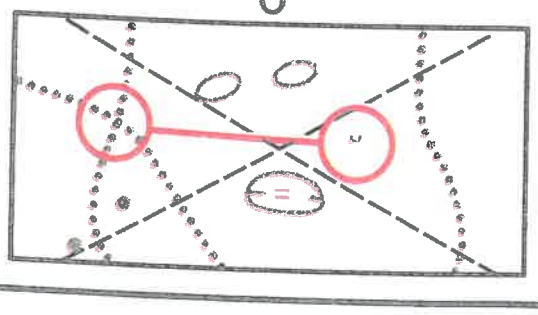

М 1 : 7500

6 Чему равно расстояние на местности, если на карте - 10 см?

а) 350 м б) 75 м в) 750 м

7 Измерьте расстояние между КП?

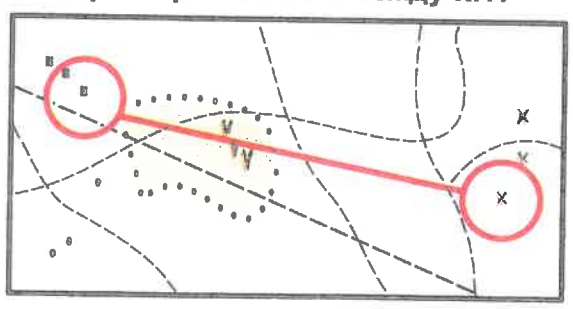

а) 300 м

б) 200 м

в) 400 м

8 Какой КП находится на расстоянии 450 м от старта?

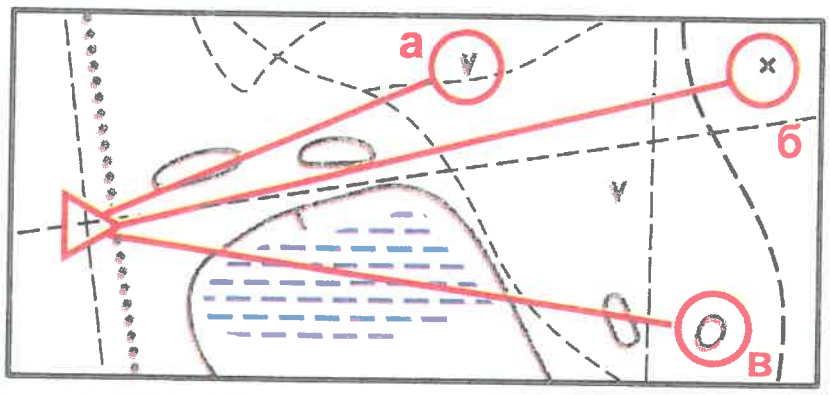

9 Сколько метров до КП, который находится в юго-западном направлении от старта?

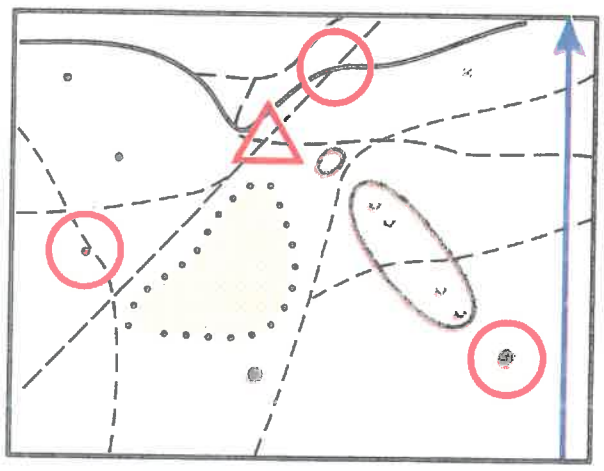

а) 150м

б) 300 м

в) 75 м

10 Между какими КП расстояние 300м?

а

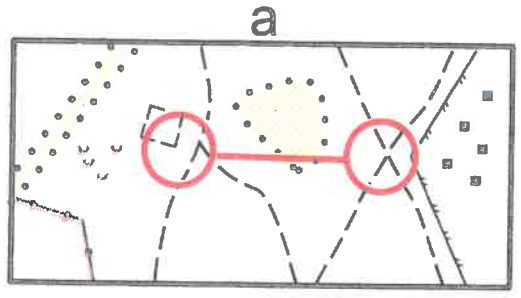

в

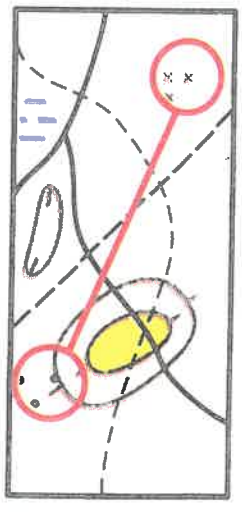

б

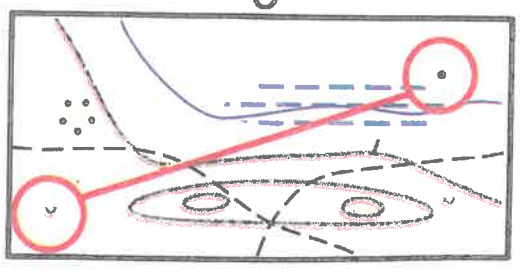

Тест 23

М 1 : 10000

1 Чему равно расстояние между КП?

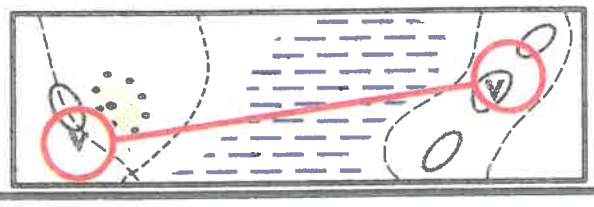

а) 800м

б) 600 м

в) 400 м

2 Какой КП находится на расстоянии 400 м от старта?

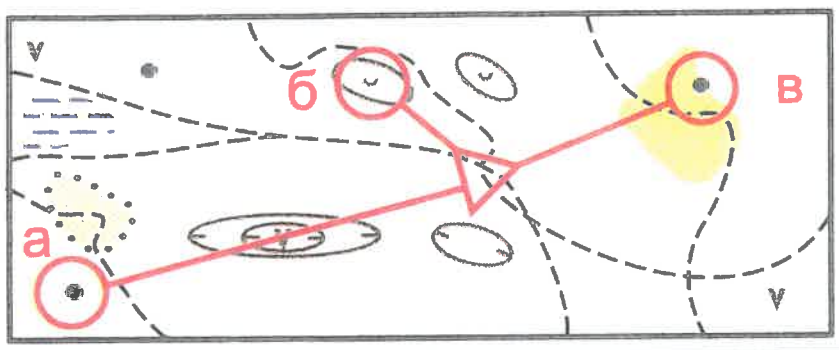

3 Сколько примерно метров вы пройдете от старта до КП, двигаясь по просеке?

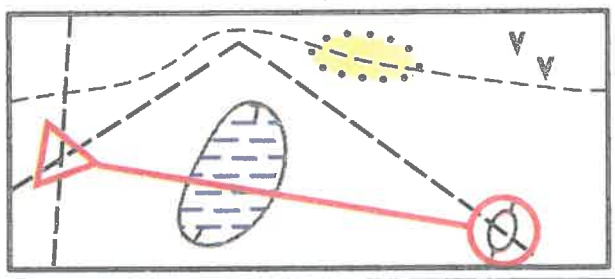

а) 1000м

б) 750 м

в) 500 м

4 Сколько метров вы пройдете до КП, двигаясь от старта на северо-восток?

а) 250м

б) 375 м

в) 200 м

5 Сколько примерно метров длина дистанции от старта до финиша?

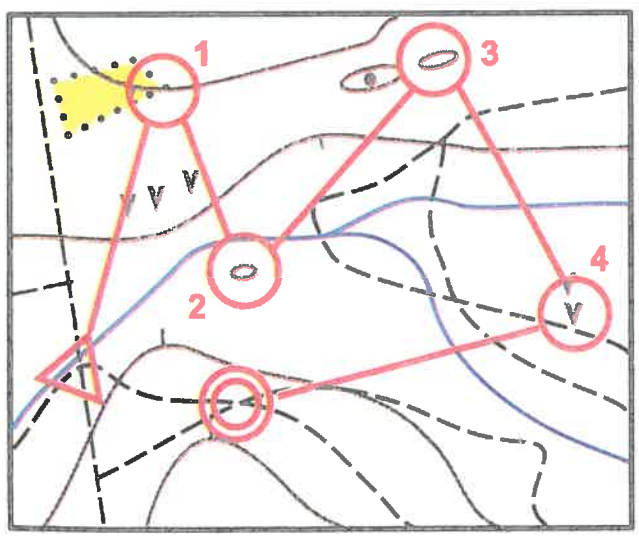

а) 1850 м

б) 2600 м

в) 1300 м

М 1 : 15000

6 Чему равно расстояние между КП?

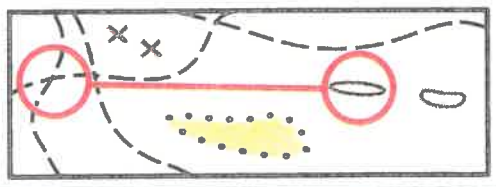

а) 300м

б) 450 м

в) 600 м

7 Между какими КП расстояние 300 м?

8 Сколько примерно метров вы пройдете от старта до КП, двигаясь по просеке?

а) 500 м

б) 750 м

в) 250 м

9 Сколько метров вы пройдете до КП, двигаясь от старта на юго-восток?

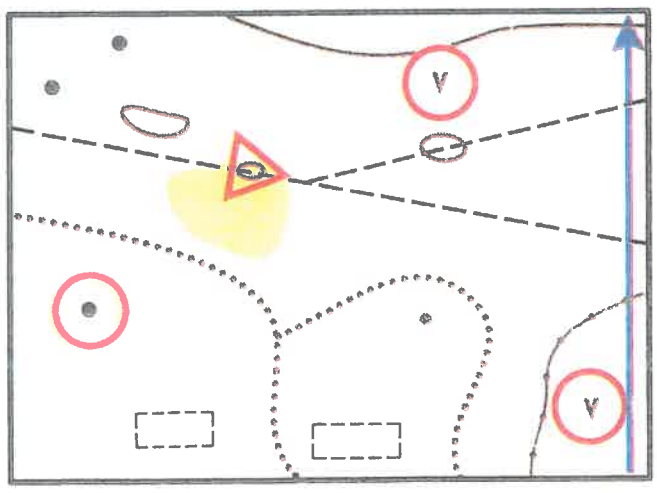

а) 600 м

б) 300 м

в) 400 м

10 Сколько метров протяженность дистанции от старта до финиша?

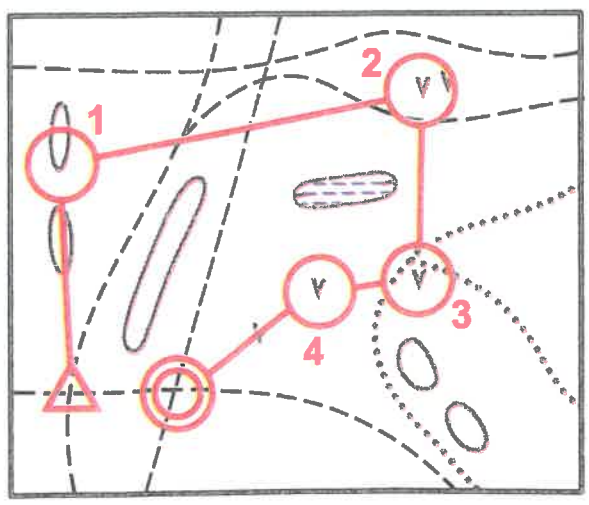

а) 1000 м

б) 1500 м

в) 2000 м

Тест 24

1 Какой масштаб карты, если расстояние между КП составляет 500м?

а) М 1:5000 б) М 1:10000 в) М 1:15000

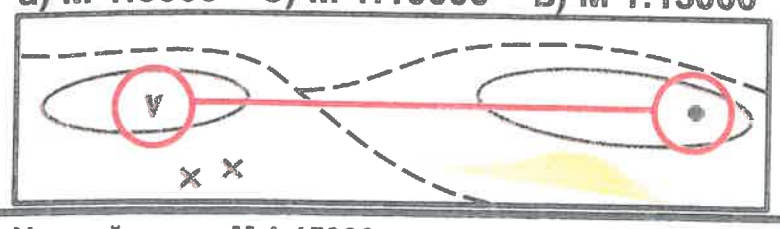

2 У какой карты М 1:15000, если расстояние между пунктами примерно 300м?

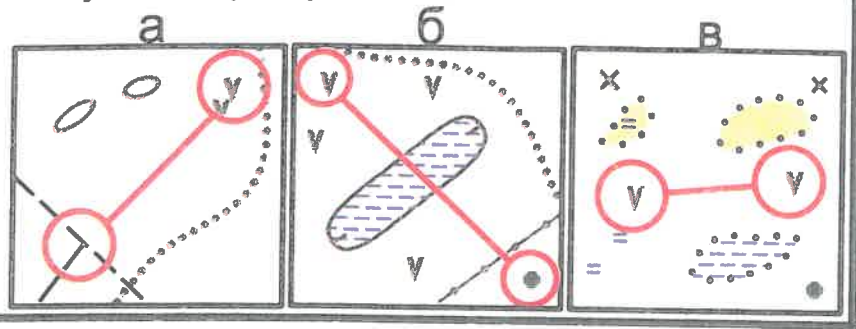

3 Какой КП находится в юго-восточном направлении на расстоянии 400м, если М 1:10000?

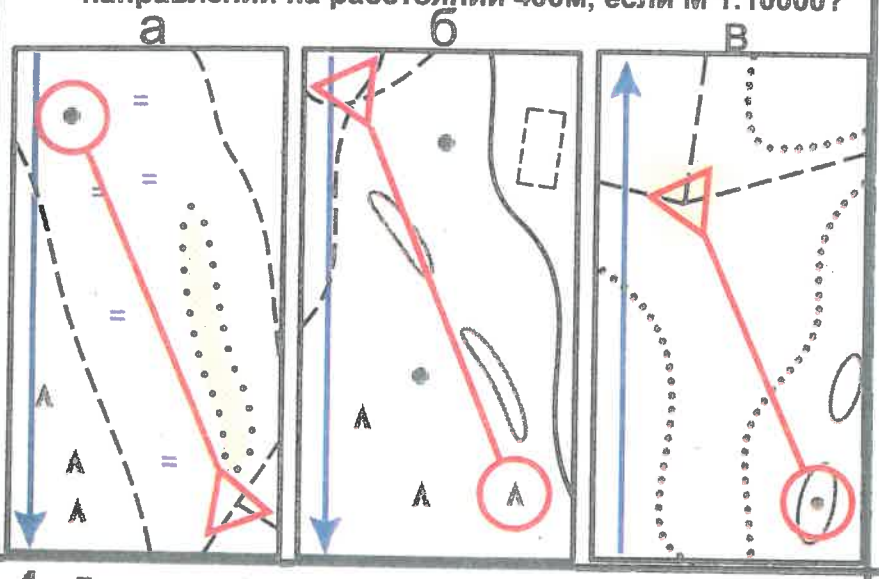

4 До какого КП расстояние от старта 750м, если М 1:15000?

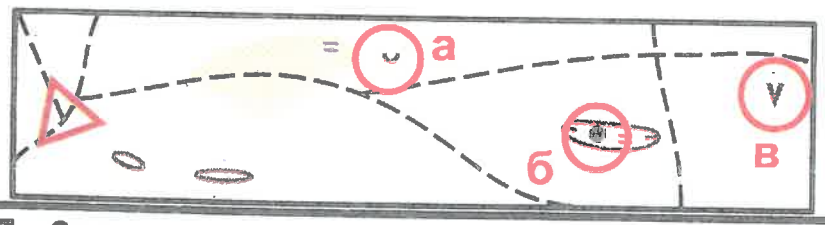

5 Сколько примерно метров вы пройдете от старта до КП, двигаясь по азимуту 225 градусов, если М 1: 5000?

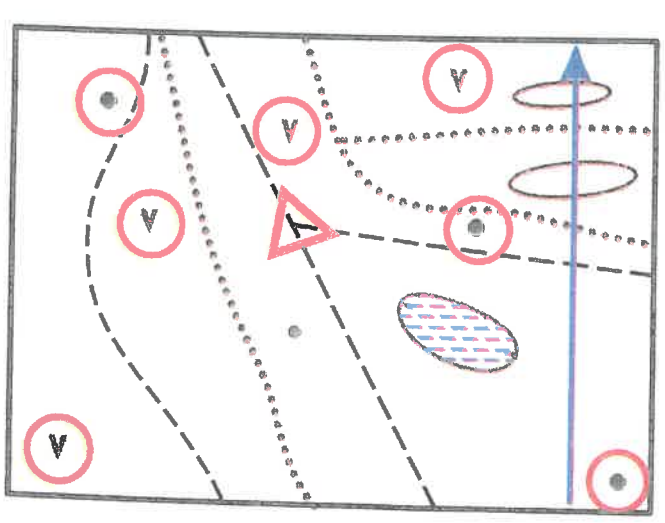

а) 300м

б) 450 м

в) 150 м

6 До какого КП расстояние от старта 300м, если М 1:7500?

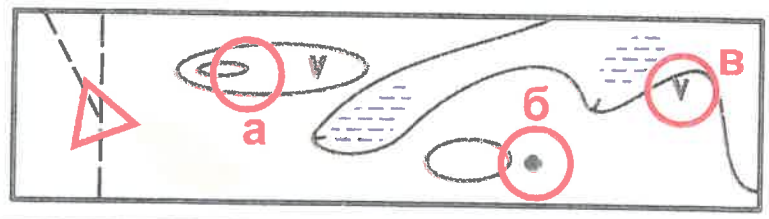

7 Какой КП находится в восточном направлении на расстоянии 300м, если М 1: 15000?

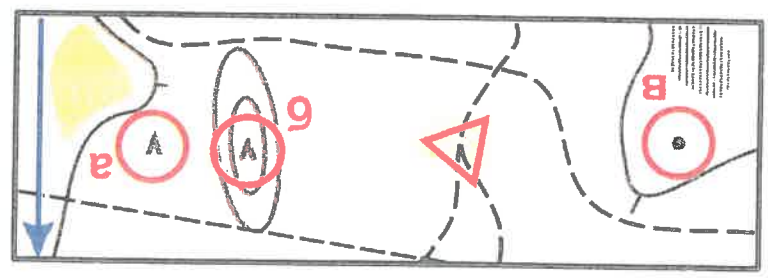

8 Сколько метров от старта до КП, который находится на северо-западе? М 1: 15000

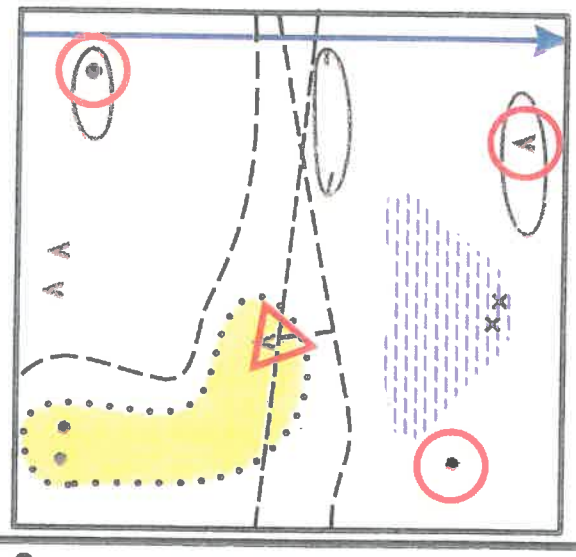

а) 300м

б) 450 м

в) 600 м

9 Сколькопримерно метров вы пройдете от старта до КП, двигаясь по дороге? М 1:10000

а) 250м

б) 750 м

в) 500 м

10 Сколько метров вы пройдете от старта до КП, двигаясь по азимуту 45 градусов, если М 1: 10000?

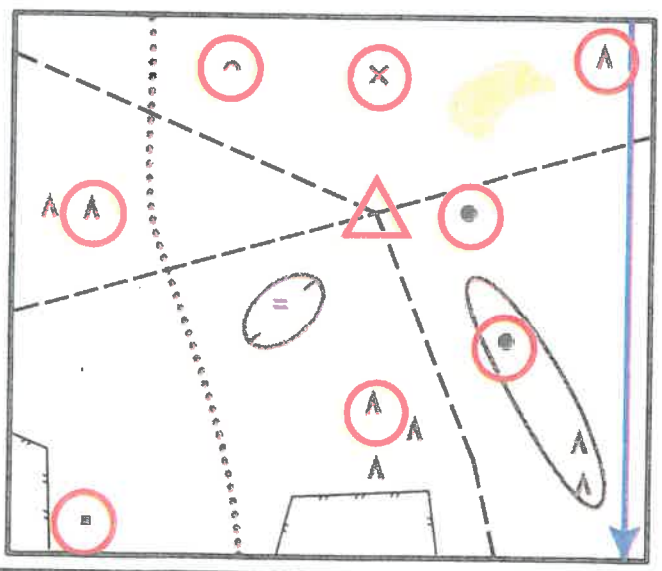

а) 200м

б) 300 м

в) 400 м

Тест 25

Подберите описание к рельефной ситуации.

1



а) яма

б) гора

в) перемычка

2



а) выступ

б) лощина

в) ступень

3

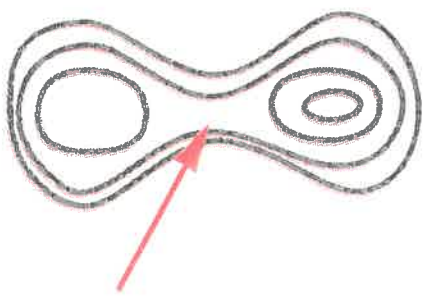

а) гряда

б) выступ

в) седловина

4

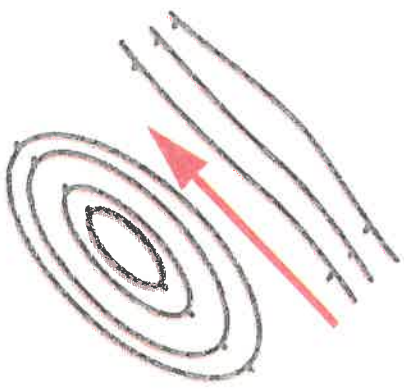

а) перемычка

б) ребро

в) проход

5

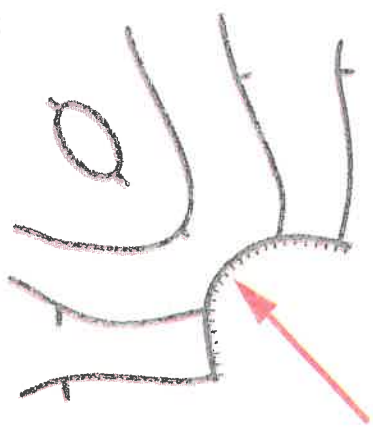

а) обрыв

б) терраса

в) проход

6

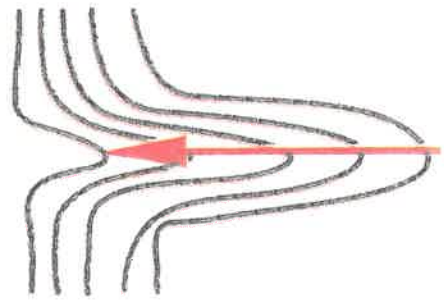

а) проход

б) лощина

в) ребро

7

а) лощина

б) ступень

в) выступ

8



а) яма

б) лощина

в) ступень

9

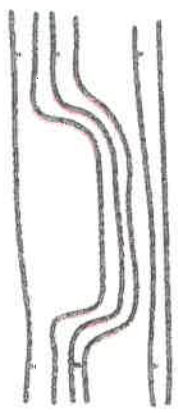

а) лощина

б) терраса

в) промоина

10



а) ребро

б) промоина

в) лощина

Тест 26

Подберите к описанию графическое изображение рельефа.

1 Холм, имеет две вершины. Западная выше. Северный склон пологий.

2 Холм с крутым северным и южным склонами и слабым уклоном на запад и восток.

3 Яма с крутым подъемом на северо-запад.

4 Яма, вытянута в направлении запад-восток. Северный склон крутой.

5 Холм, вытянут в направлении север-юг, восточный склон крутой.

6 Холм,вытянут в направлении север-юг. Имеет две вершины, восточный склон крутой.

7 Яма вытянута в направлении север-юг, восточный склон крутой, на дне - воронка.

8 Холм вытянут в направлении запад-восток. Имеет две вершины. Западная ниже.

9 Яма вытянута в направлении запад-восток. Южный склон пологий, на северном - две воронки.

10 Холм с двумя вершинами, крутой с запада и пологий с востока.

а

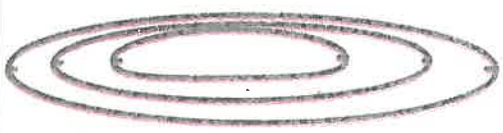

б



в



г

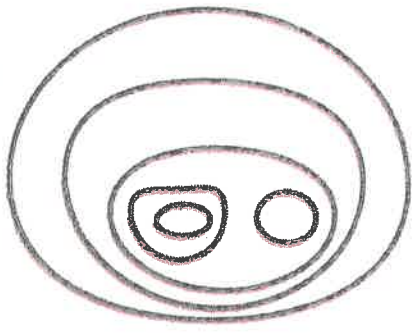

д



а



б



в



г

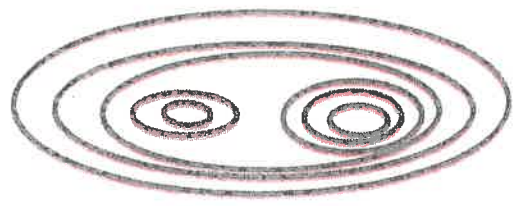

д



Тест 27

Подберите к описанию рельефную ситуацию.

1 Холм, вытянут в направлении запад-восток. Имеет две вершины.

а 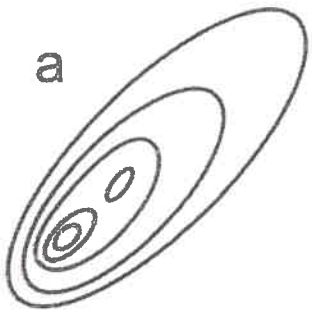 б

в

2 Холм с крутым северным склоном.

а 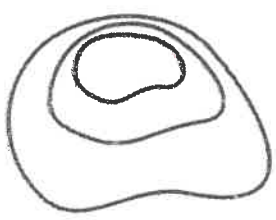 б 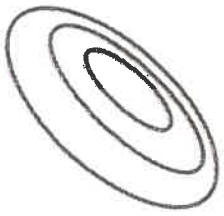 в 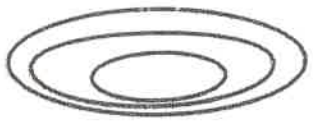

3 Холм, вытянут в направлении север-юг. Южная вершина выше.

а 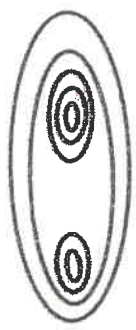 б в 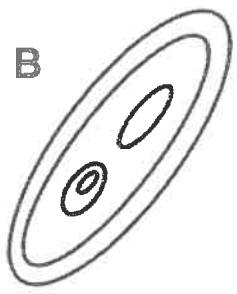

4 Яма с крутым подъемом на северо-запад.

а 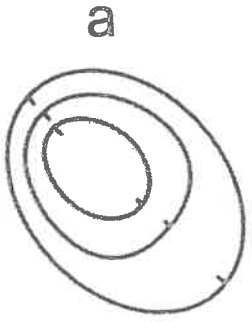 б 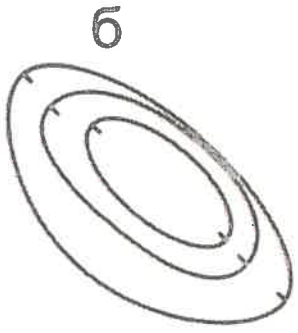 в 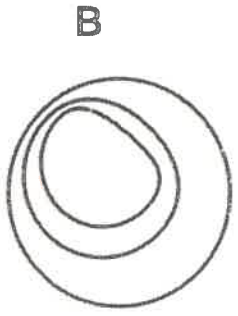

5 Яма , вытянута в направлении север-юг. Восточный склон крутой.

а 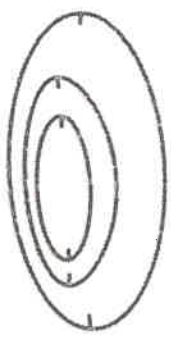 б 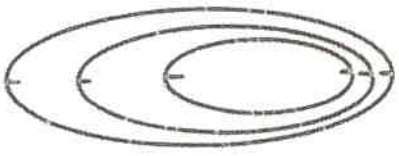 в 

6 Холм, вытянут в направлении запад-восток. Северный склон крутой. Восточная вершина выше.

а 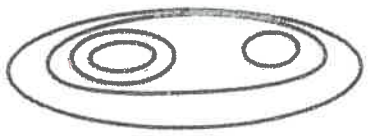 в

б 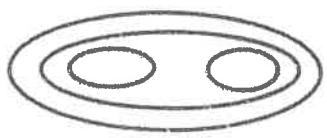

7 Яма, вытянута в направлении запад-восток. Северный склон пологий.

а 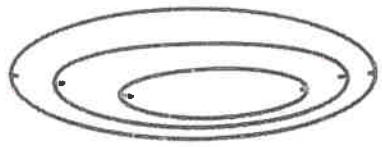 в 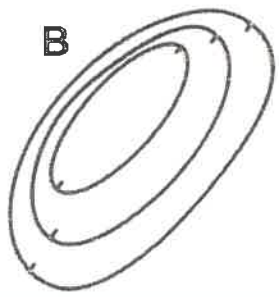

б

8 Холм с крутым юго-западным склоном. Южная вершина выше.

а  б 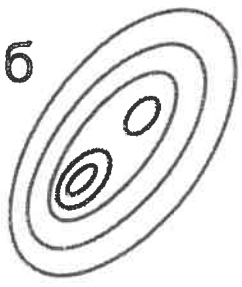 в 

9 Холм с двумя вершинами. Пологий с севера и юга, крутой с запада и востока.

а 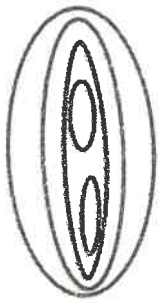 б 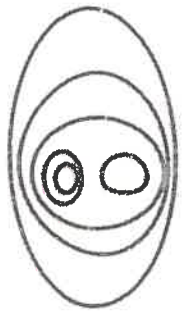 в 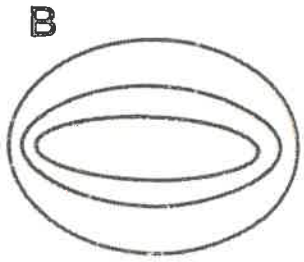

10 Седловина с высокой южной горой.

а 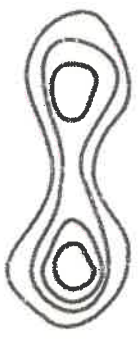 б 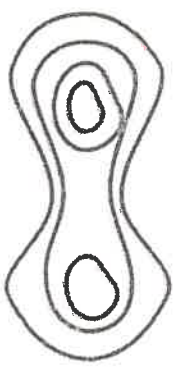 в 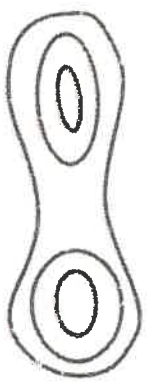

Тест 28

Подберите описание к графическому изображению рельефа.

1

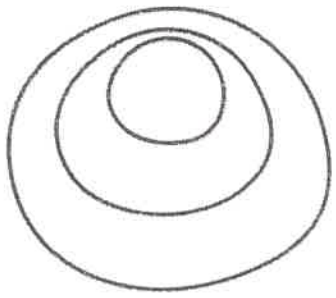

а) холм с крутым южным склоном

б) холм, почти круглый, крутой с севера и пологий с юга

в) яма с крутым северным склоном

2



а) холм вытянут в направлении запад-восток и круче с востока

б) яма с крутым восточным склоном

в) холм с крутым западным склоном

3

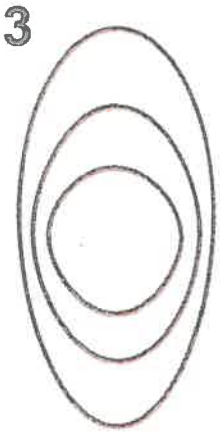

а) холм с отвесным склоном на север

б) яма с пологими западным и восточным склонами

в) холм с крутыми западным и восточным склонами и имеющий слабый уклон на север и юг

4



а) холм с крутым северо-восточным склоном

б) яма с крутым северо-западным склоном

в) яма с крутым северо-восточным склоном

5

а) яма вытянута в направлении запад-восток, северный склон крутой

б) гора с крутым северным склоном

в) яма с пологим северным и крутым южными склонами

6

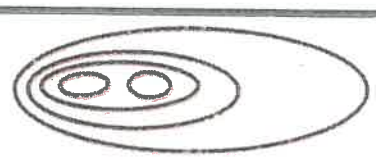

а) холм с двумя вершинами, крутой с запада и пологий с востока

б) яма с крутым западным склоном

в) холм с двумя вершинами, крутой с востока и пологий с запада

7



а) холм с крутым западным склоном

б) яма вытянута в направлении север-юг, восточный склон пологий

в) яма с крутым восточным склоном. Вытянута в направлении север-юг

8



а) яма вытянута в направлении север-юг

б) холм вытянут в направлении север-юг, южная вершина выше

в) холм вытянут в направлении север-юг, северная вершина выше

9



а) яма вытянута в направлении север-юг, юго-западный склон крутой

б) холм с крутым юго-восточным склоном

в) яма вытянута в направлении север-юг. Юго-восточный склон крутой

10

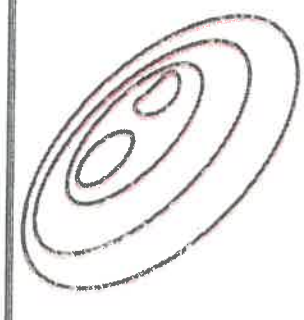

а) холм с двумя вершинами и крутым северо-западным склоном

б) яма с крутым северо-западным склоном

в) холм с крутым северо-восточным склоном. Имеет две одинаковые вершины

Тест 29

Подберите профиль к графическому изображению рельефа.

1



а

б

в

2

а

б

в

3

а

б

в

4

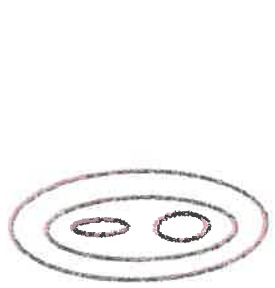

а

б

в

5

а

б

в

6



а

б

в

7

а

б

в

8

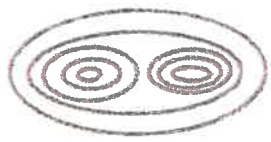

а

б 

в

9

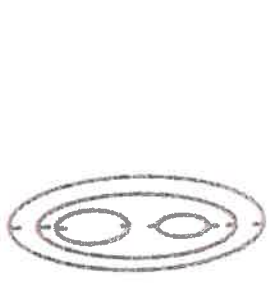

а

б 

в

10



а 

б

в

Тест 30

Подберите графическое изображение рельефа к заданному профилю.

1

а 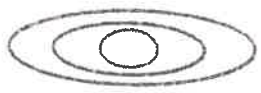

б

в

2

а

б

в 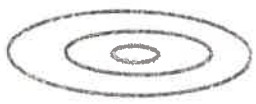

3

а

б 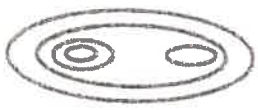

в

4

а

б 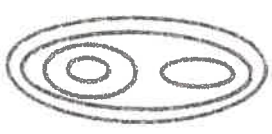

в 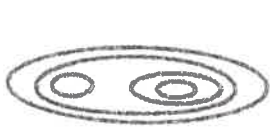

5

а

б

в 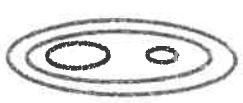

6

а

б

в 

7

а

б 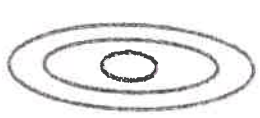

в 

8

а 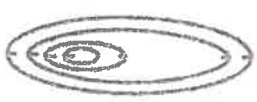

б 

в 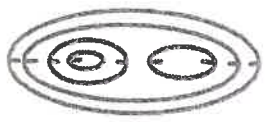

9

а 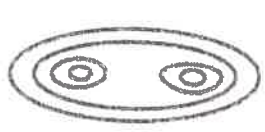

б 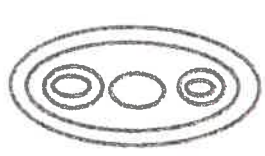

в 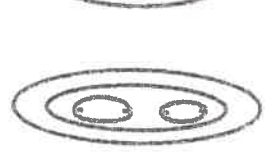

10

а 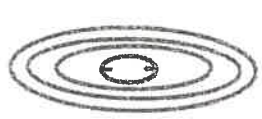

б 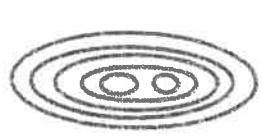

в 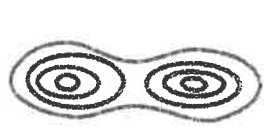

Тест 31

Какая стрелка обозначает "спуск"? ***Какая стрелка обозначает "подъем"?***

1 а б в

2 а б в

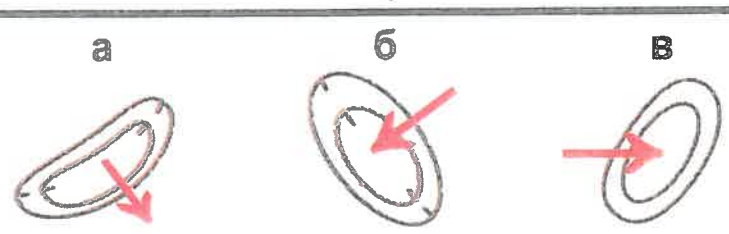

3 а б в

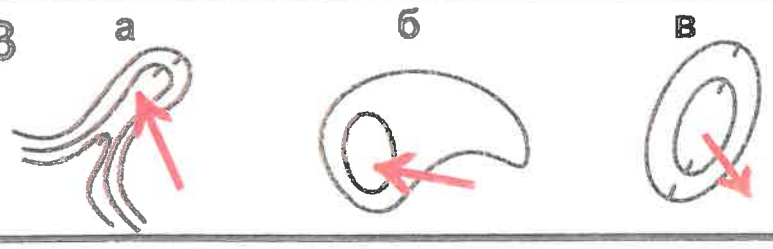

4 а б в

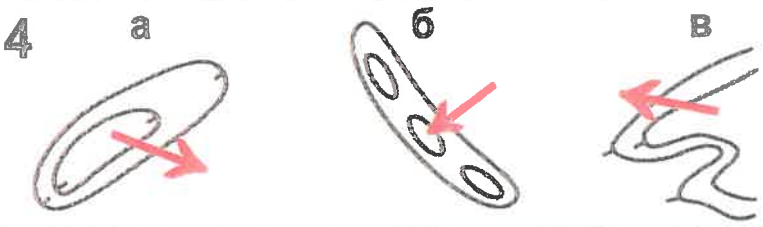

5 а б в

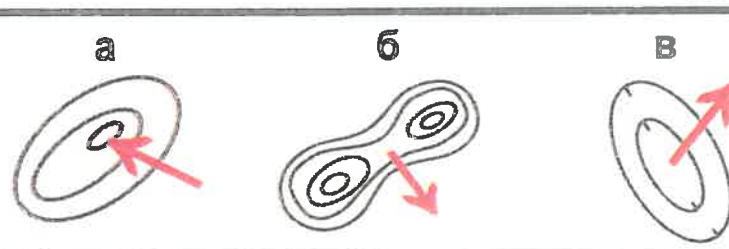

6 а б в

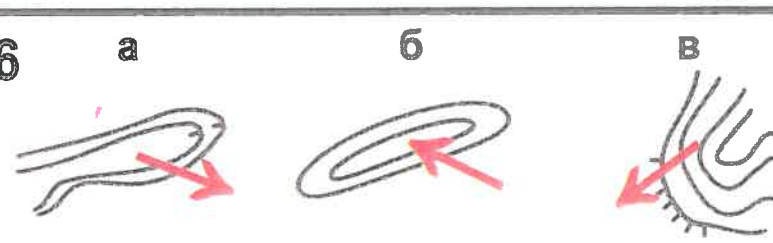

7 а б в

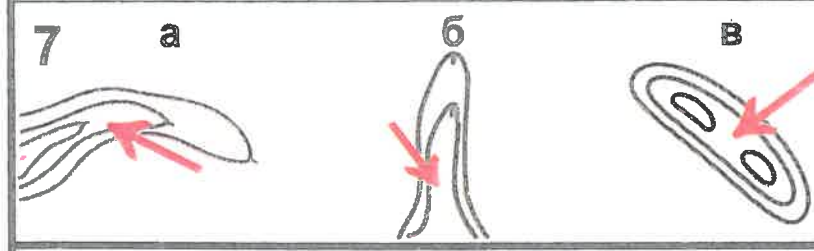

8 а б в

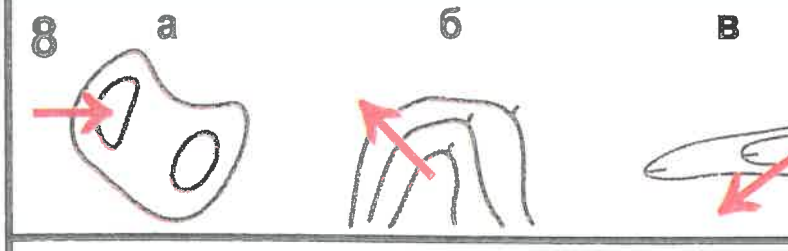

9 а б в

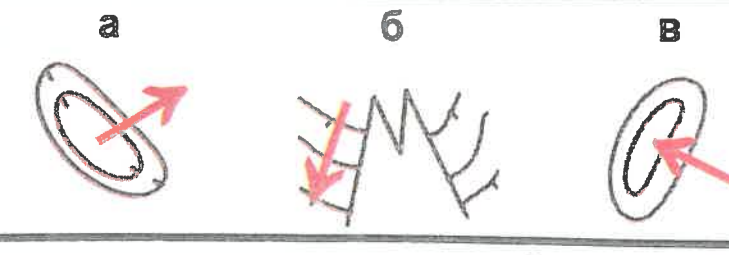

10 а б в



11 а б в



12 а б в

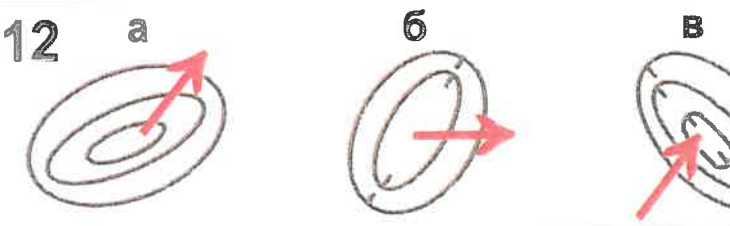

13 а б в

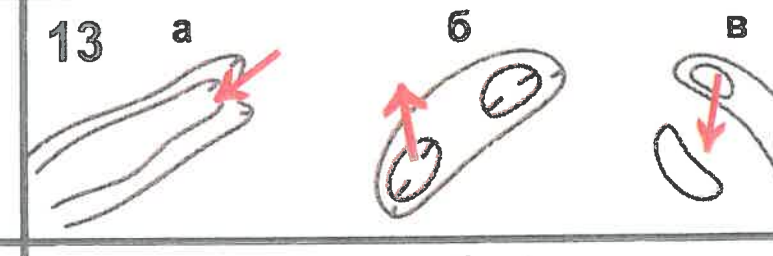

14 а б в

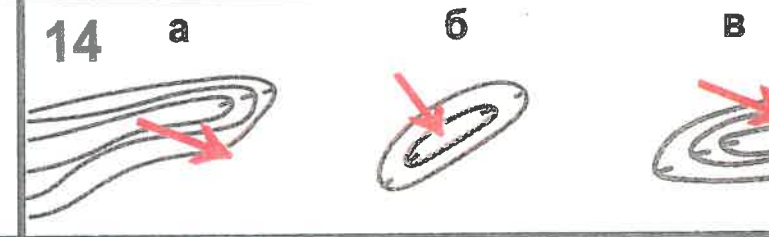

15 а б в

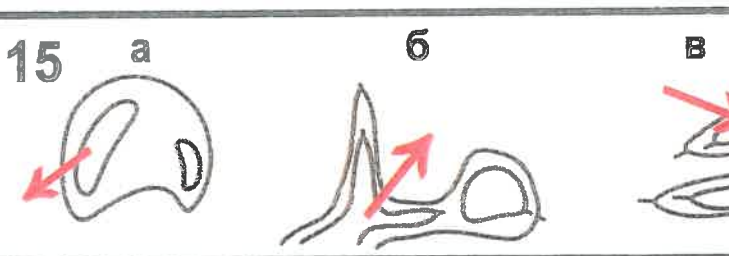

16 а б в

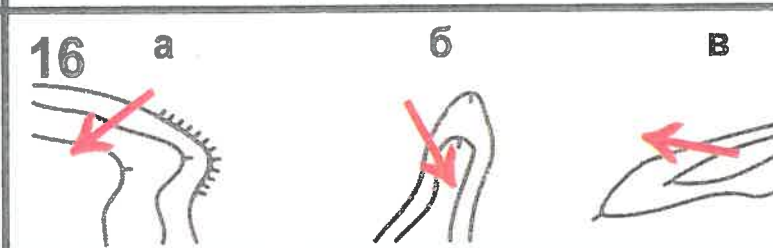

17 а б в

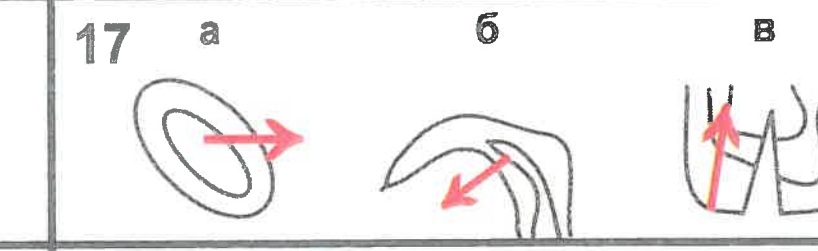

18 а б в

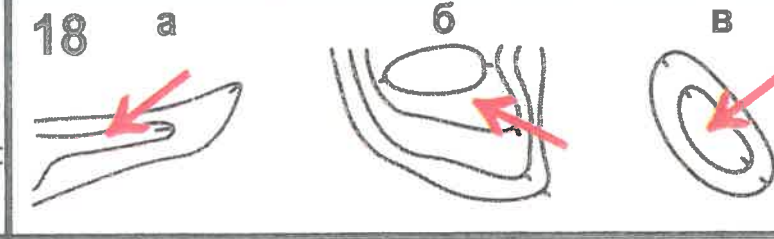

19 а б в

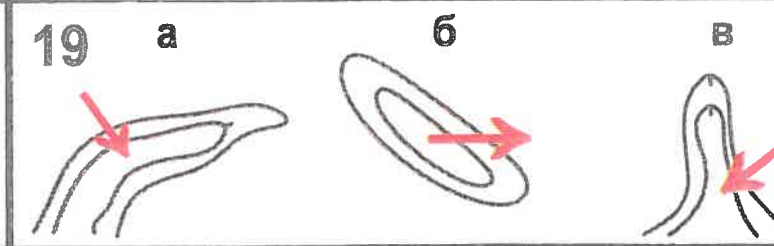

20 а б в

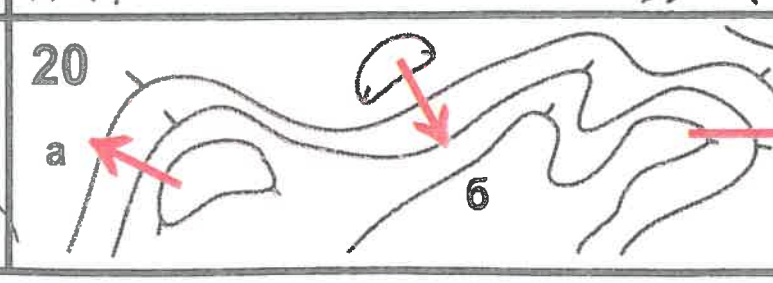

Тест 32

Какой контрольный пункт стоит выше по рельефу?

1

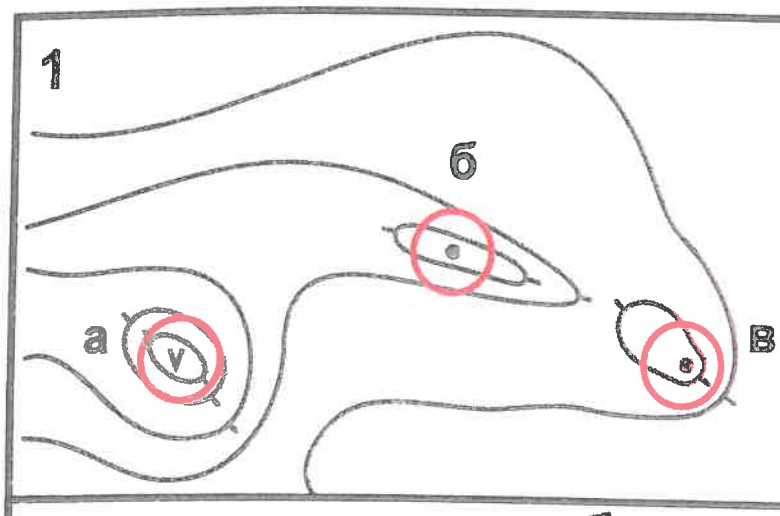

6

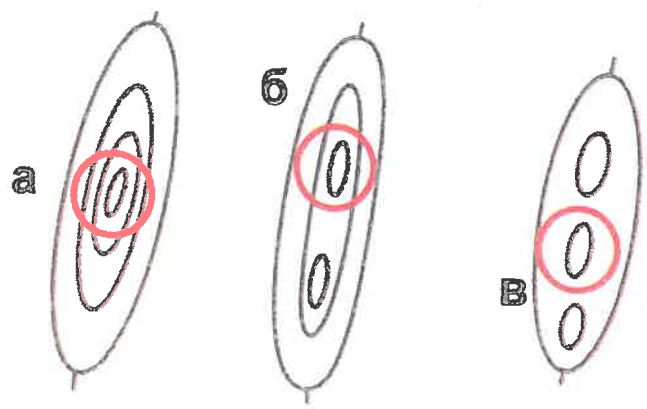

2

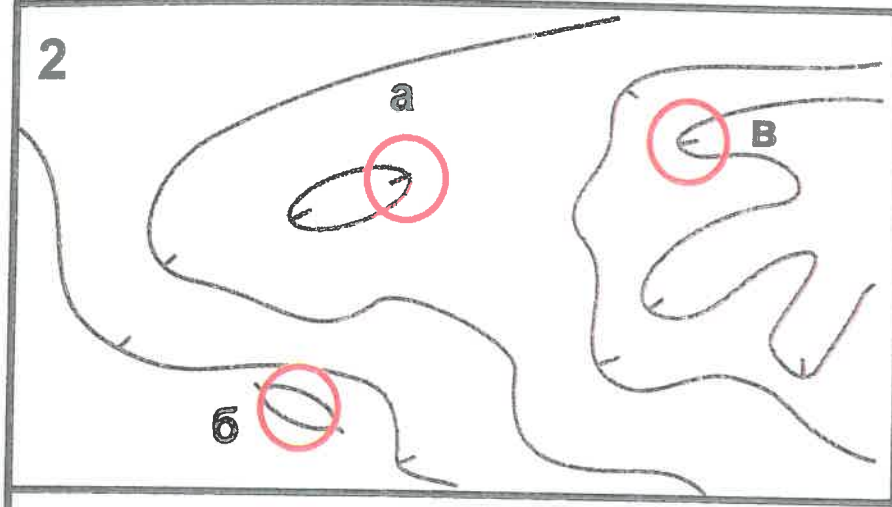

7

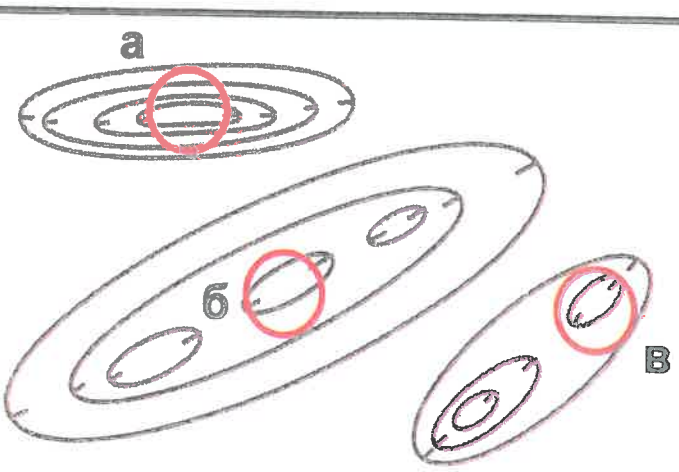

3

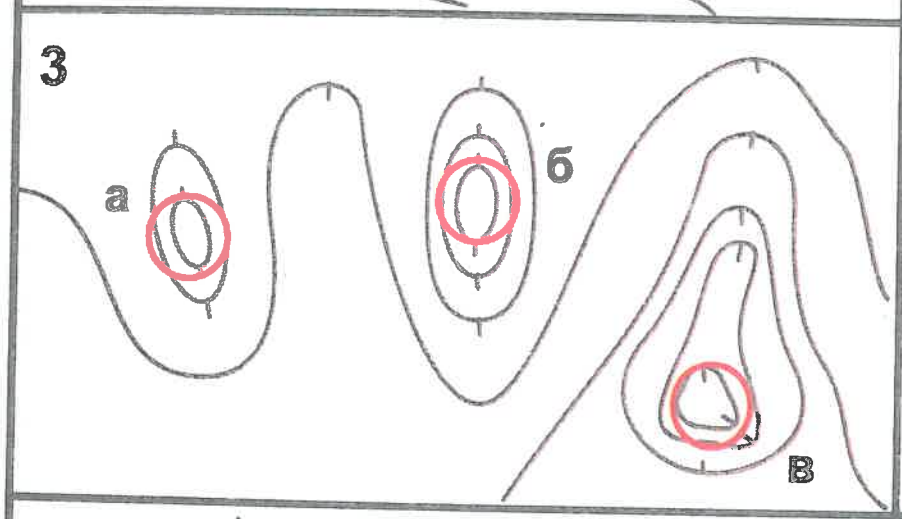

8

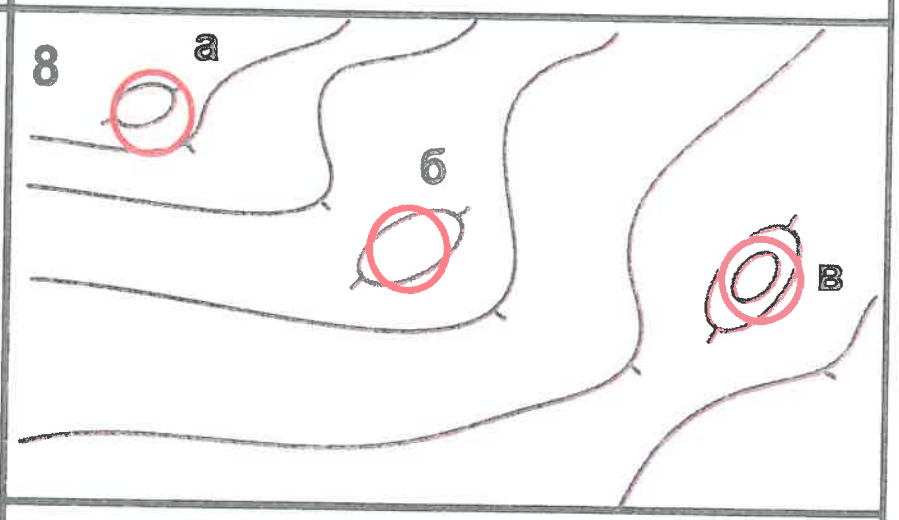

4

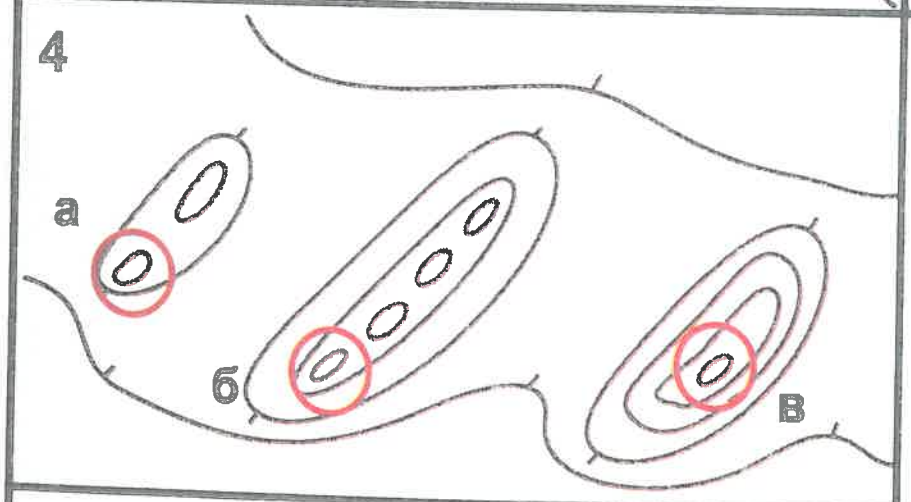

9

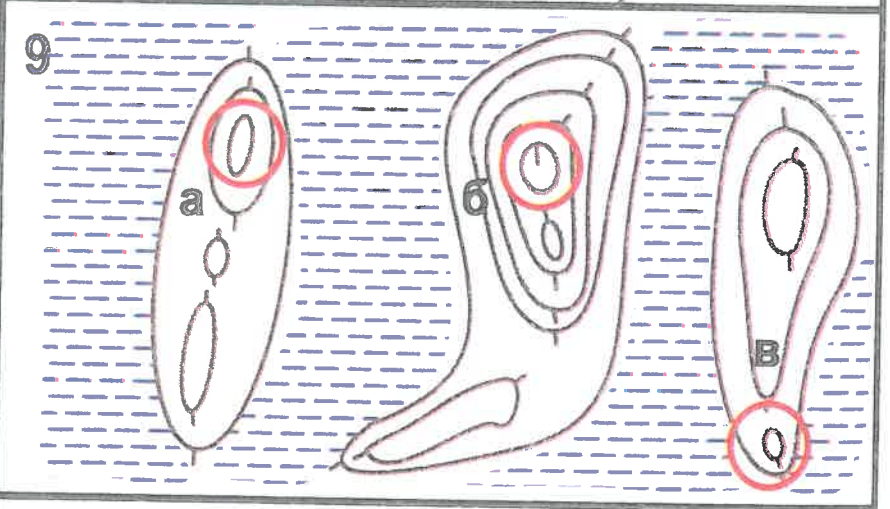

5

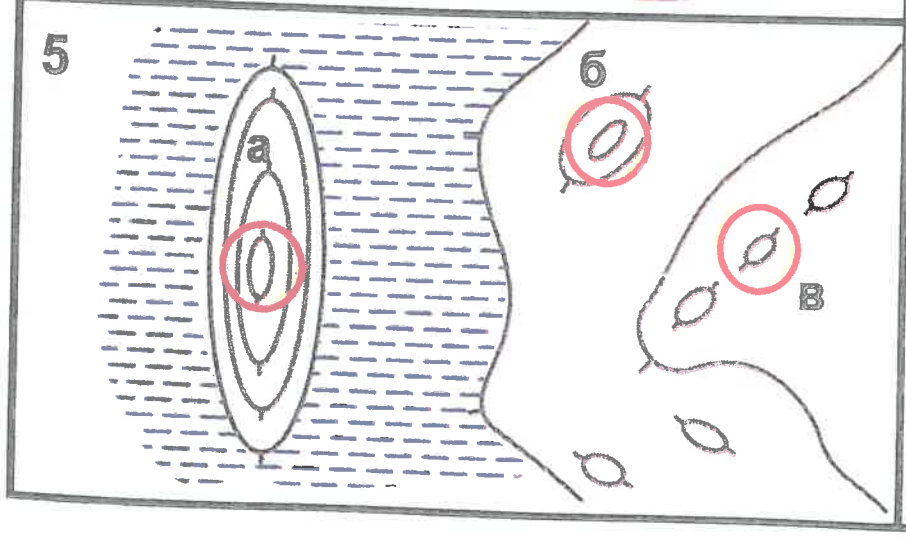

10

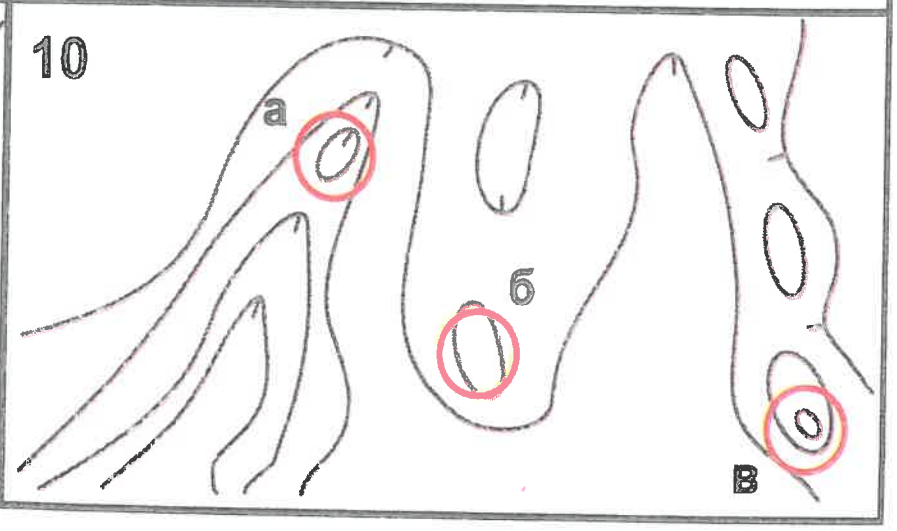

Тест 33

Какой контрольный пункт стоит ниже по рельефу?

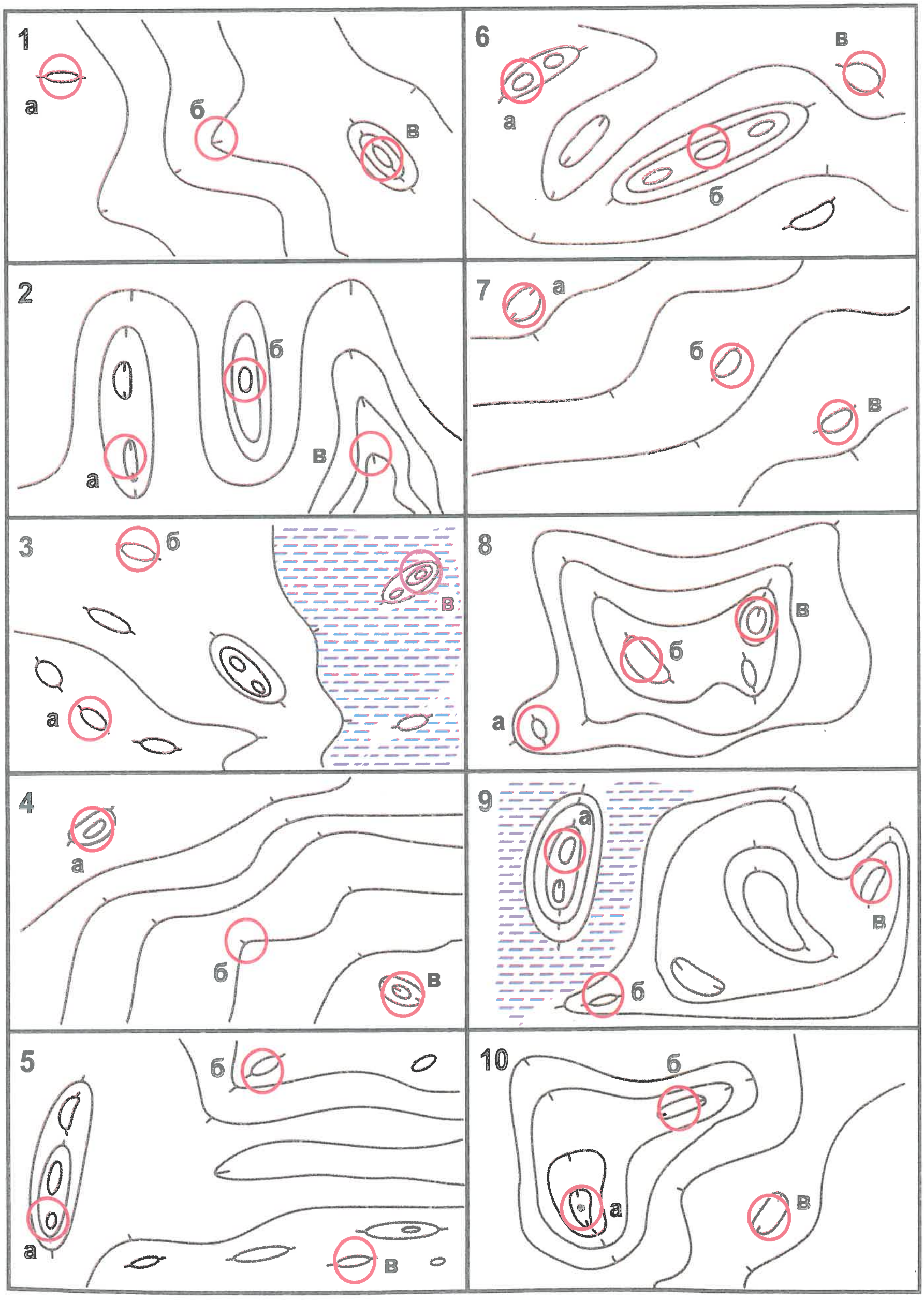

Тест 34

1 Какая гора выше?

а б в

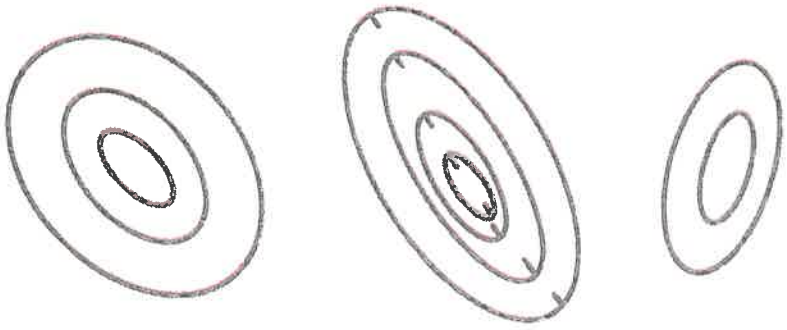

2 Какая яма глубже?

а б в

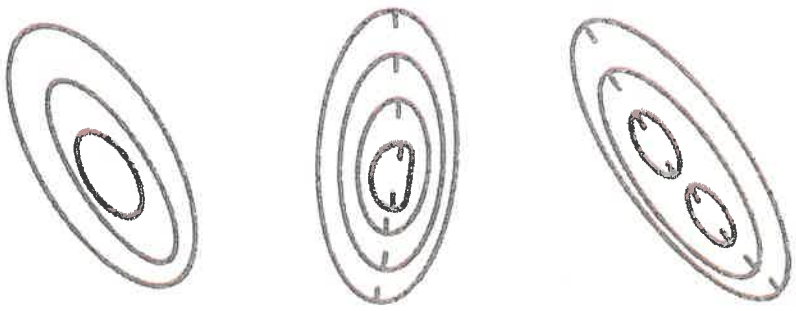

3 Какой склон крутой?



а) восточный

б) западный

в) северный

г) южный

4 У какой ямы северо-восточный склон крутой?

а б в

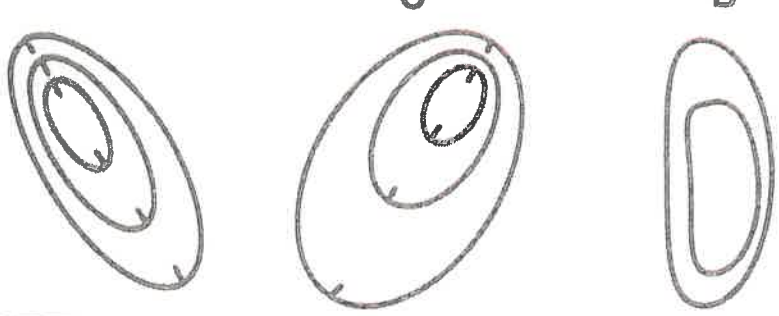

5 У какой горы северный склон пологий, а южный - крутой?

а б в

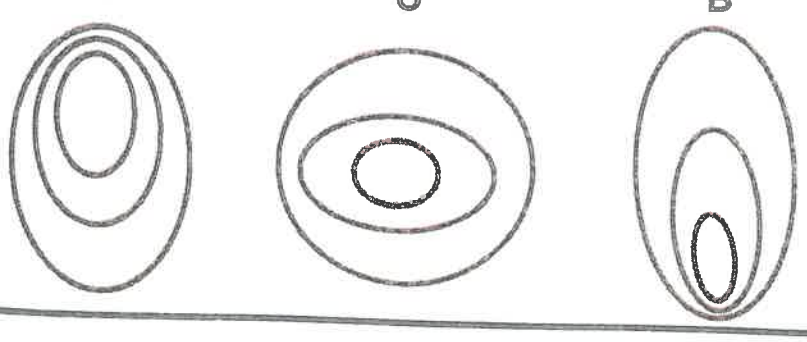

6 У какой ямы восточный склон крутой?

а б в

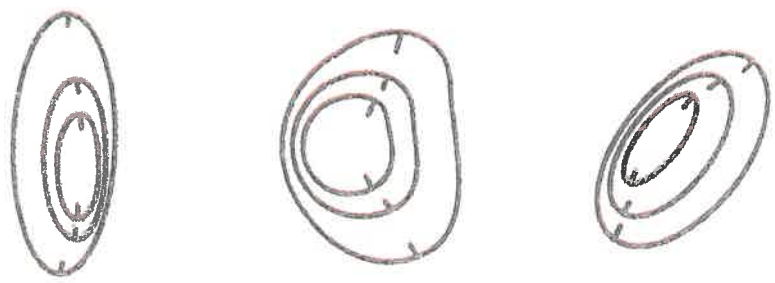

7 Сколько метров высота горы, если первая горизонталь обозначает нулевой уровень?
Высота сечений рельефа - 5 м.

а) от 15 до 20м

б) от 10 до 15 м

в) 20метров

8 Сколько метров глубина ямы?
Высота сечений рельефа - 5 м.

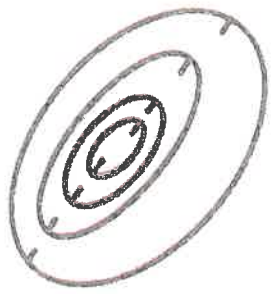

а) 20 метров

б) от 10 до 15 м

в) от 15 до 20 м

9 Высота какой горы около 7 метров?
Высота сечений рельефа - 2,5 м.

а б в

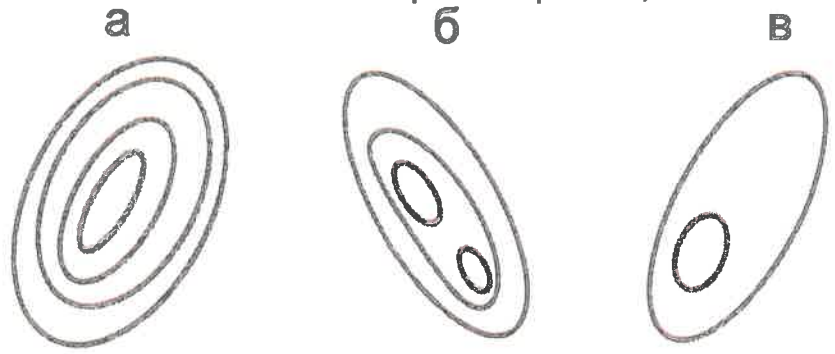

10 Глубина какой ямы около 13 м?
Высота сечений рельефа - 5 м.

а б в

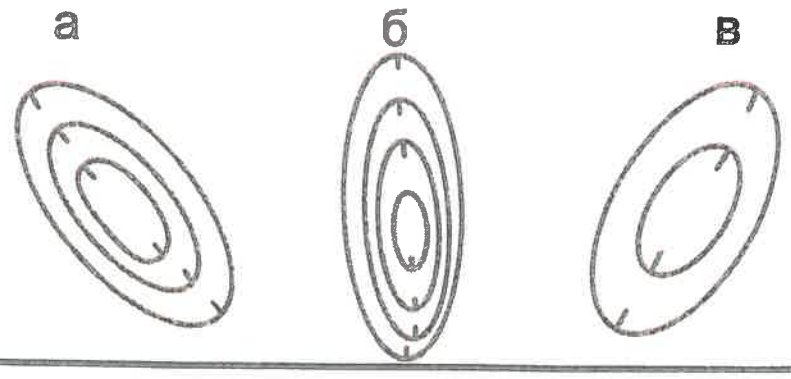

Тест 35

1 Выберите один из двух вариантов и переместитесь в клетку с соответствующим номером, начиная с №2.

2

Яма → 9

Гора → 13

3 Неправильно. Вернитесь к номеру 24.

4 Отлично, дальше:

Колодец → 26

Родник → 17

5 Неправильно. Вернитесь к номеру 20.

6 Правильно, дальше: *начало ориентирования*

→ 8

→ 28

7 Неправильно. Вернитесь к номеру 27.

8 Отлично, дальше:

Стрельбище → 27

Кормушка → 19

9 Неправильно. Вернитесь к номеру 2.

10 Правильно, дальше:

Камень → 14

Группа камней → 22

11 Неправильно. Вернитесь к номеру 22.

12 Неправильно. Вернитесь к номеру 17.

13 Хорошо, дальше: *заболоченность*

→ 16

→ 24

14 Неправильно. Вернитесь к номеру 10.

15 Хорошо, дальше: *широкая просека*

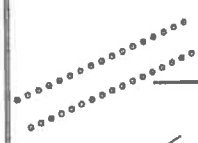

→ 10

→ 23

16 Неправильно. Вернитесь к номеру 13.

17 Хорошо, дальше: *железная дорога*

→ 25

→ 12

18 Хорошо, дальше:

Фруктовый Сад → 30

Поляна → 6

19 Неправильно. Вернитесь к номеру 8.

20 Хорошо, дальше:

Шоссе → 5

Улучшенная дорога → 29

21 Неправильно. Вернитесь к номеру 29.

22 Хорошо, дальше: *непреодолимая ограда*

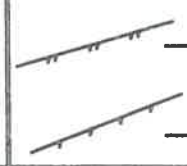

→ 20

→ 11

23 Неправильно. Вернитесь к номеру 15.

24 Хорошо, дальше:

Сухая канава → 15

Насыпь → 3

25 Правильно. Конец задания

26 Неправильно. Вернитесь к номеру 4.

27 Правильно, дальше: *тропа*

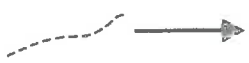

→ 4

→ 7

28 Неправильно. Вернитесь к номеру 6.

29 Отлично, дальше: *постройка*

→ 18

→ 21

30 Неправильно. Вернитесь к номеру 18.

Тест 36

1 Выберите один из двух вариантов и переместитесь в клетку с соответствующим номером, начиная с №2.

2

Яма → 8

Гора → 15

3 Неправильно. Вернитесь к номеру 5.

4 Отлично, дальше: *промоина*

→ 7

→ 20

5 Хорошо, дальше: *холм с крутым северо-восточным склоном*

→ 13

→ 3

6 Неправильно. Вернитесь к номеру 8.

7 Неправильно. Вернитесь к номеру 4.

8 Правильно, дальше: *воронка*

→ 25

→ 6

9 Неправильно. Вернитесь к номеру 25.

10 Неправильно. Вернитесь к номеру 14.

11 Неправильно. Вернитесь к номеру 29.

12 Хорошо, дальше: *Холм, вытянут в направлении запад-восток с крутым южным склоном. Имеет две одинаковые вершины.*

→ 24

→ 16

13 Хорошо, дальше:

Подъем → 21

Спуск → 29

14 Хорошо, дальше: *седловина*

→ 10

→ 30

15 Неправильно. Вернитесь к номеру 2.

16 Хорошо, дальше: *какая гора выше?*

→ 19

→ 18

17 Неправильно. Вернитесь к номеру 19.

18 Неправильно. Вернитесь к номеру 16.

19 Хорошо, дальше:

Подъем → 22

Спуск → 17

20 Правильно, дальше:

Выступ → 5

Ступень → 28

21 Неправильно. Вернитесь к номеру 13.

22 Правильно. Конец задания

23 Неправильно. Вернитесь к номеру 27.

24 Неправильно. Вернитесь к номеру 12.

25 Хорошо, дальше:

Лощина → 14

Выступ → 9

26 Неправильно. Вернитесь к номеру 30.

27 Хорошо, дальше:

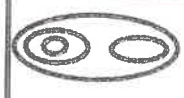 → 12

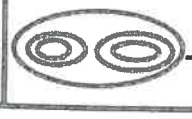 → 23

28 Неправильно. Вернитесь к номеру 20.

29 Отлично, дальше:

→ 11

→ 27

30 Хорошо, дальше:

Проход → 4

Терраса → 26

Тест 37

Подберите описание к данной "легенде".

1 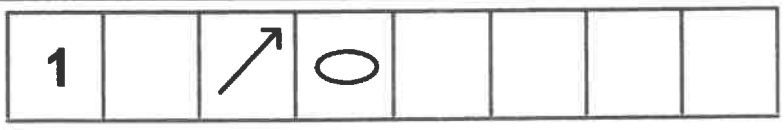

а) северо-восточный край бугра.

б) северо-восточная яма.

в) северо-восточный бугор.

2

а) средняя воронка.

б) микронеровности.

в) средняя промоина.

3 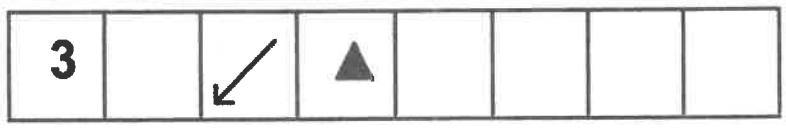

а) юго-западная сторона камня.

б) юго-западный камень.

в) юго-западный угол груды камней.

4 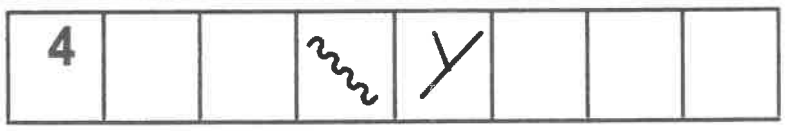

а) развилка ручья.

б) развилка канав с водой.

в) развилка пересыхающих канав.

5 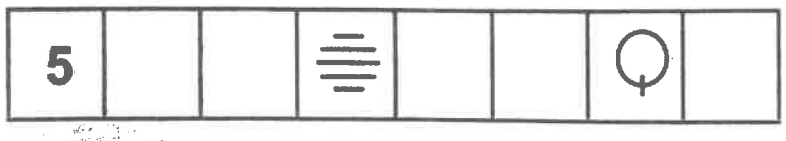

а) южное болото.

б) южный край болота.

в) южный край зарослей.

6 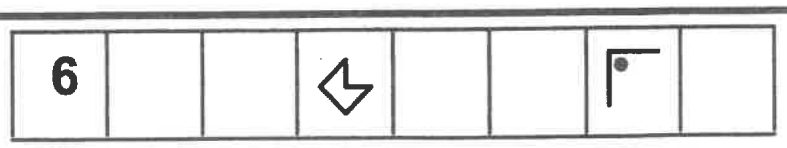

а) северо-восточный угол леса.

б) северо-западный угол поляны.

в) северо-западный угол леса.

7 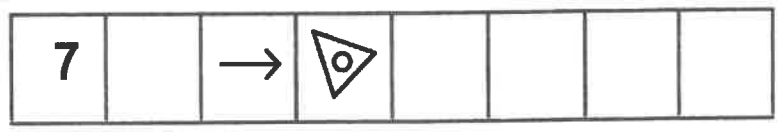

а) восточное отдельно стоящее дерево.

б) восточная группа деревьев.

в) восточный выворотень.

8 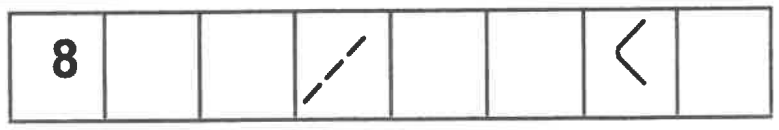

а) изгиб дороги.

б) изгиб тропы.

в) изгиб просеки.

9 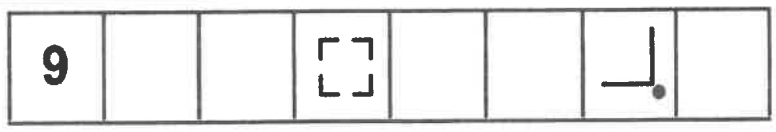

10 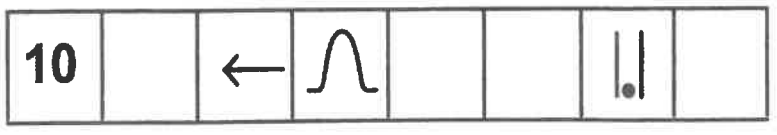

а) западная промоина, внизу.

б) западный выступ, внизу.

в) западная лощина, нижняя часть.

Тест 38

Подберите "легенду".

1 Выступ

А							
Б							
В			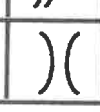				

2 Карьер, наверху

А							
Б							
В							

3 Северо-восточный камень, южная сторона

А							
Б							
В							

4 Пересечение канав с водой

А							
Б							
В							

5 Северный край озера

А							
Б							
В							

6 Родник

А							
Б							
В							

7 Западная поляна

А							
Б							
В							

8 Северо-западный край заболоченной ямы

А							
Б							
В							

9 Юго-восточный угол постройки

А							
Б							
В							

10 Юго-западный конец просеки

А							
Б							
В							

Тест 39

Подберите контрольный пункт к данной “легенде”.

1

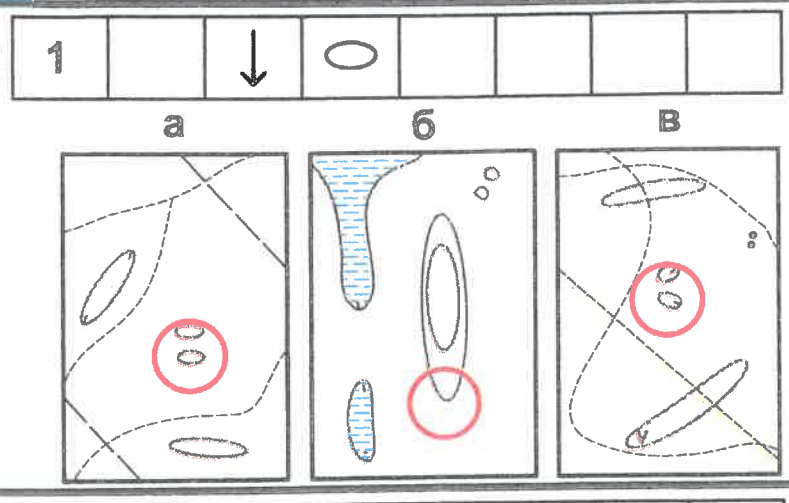

2

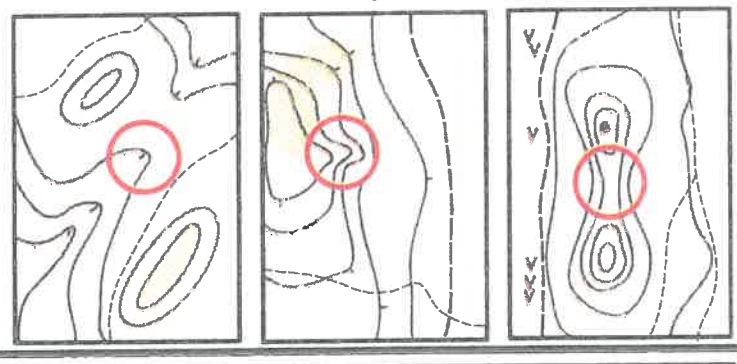

3

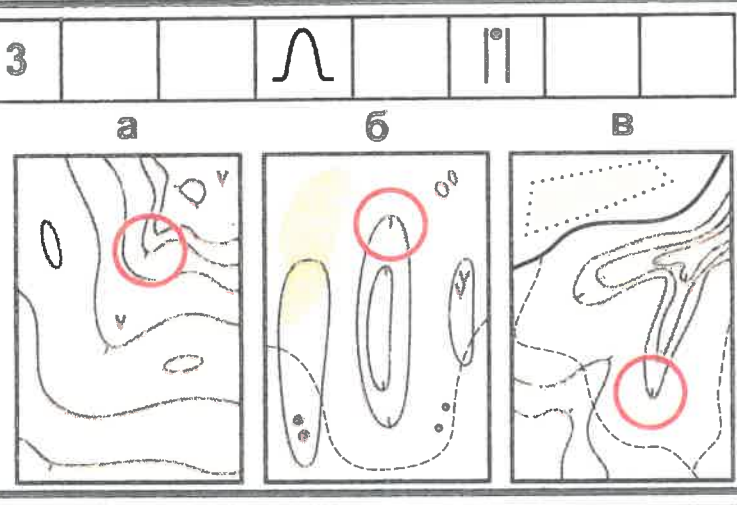

4

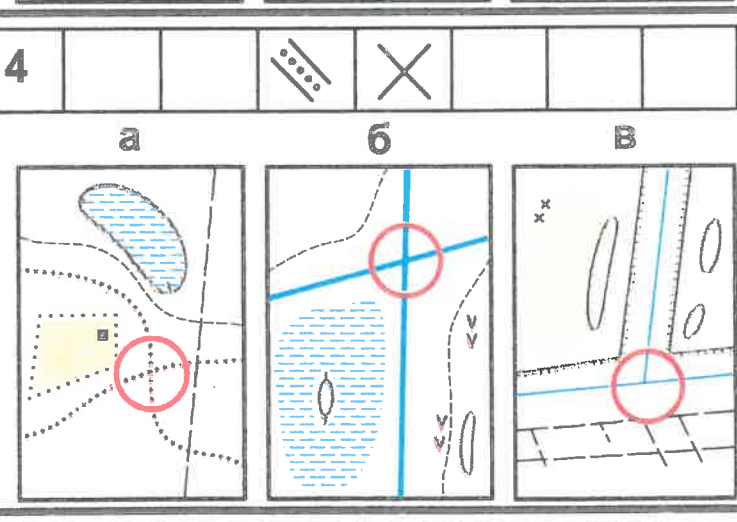

5

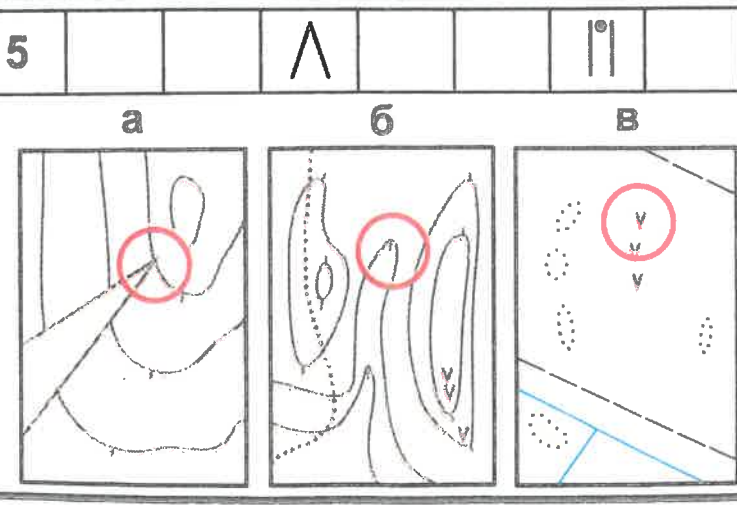

6

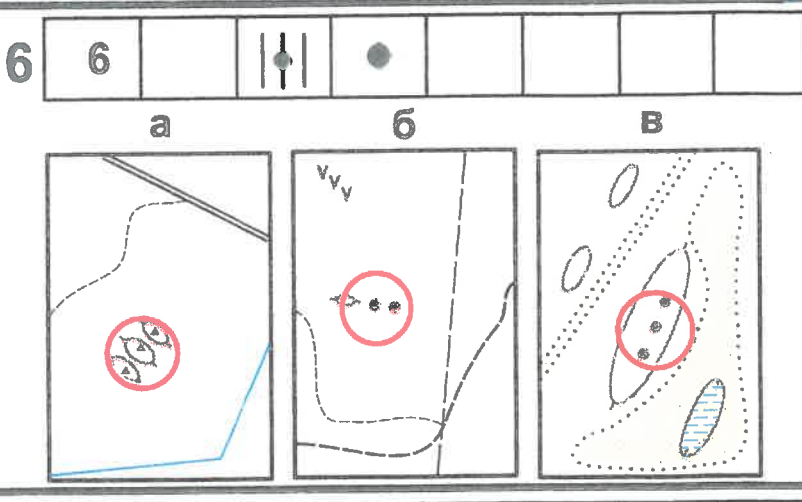

7

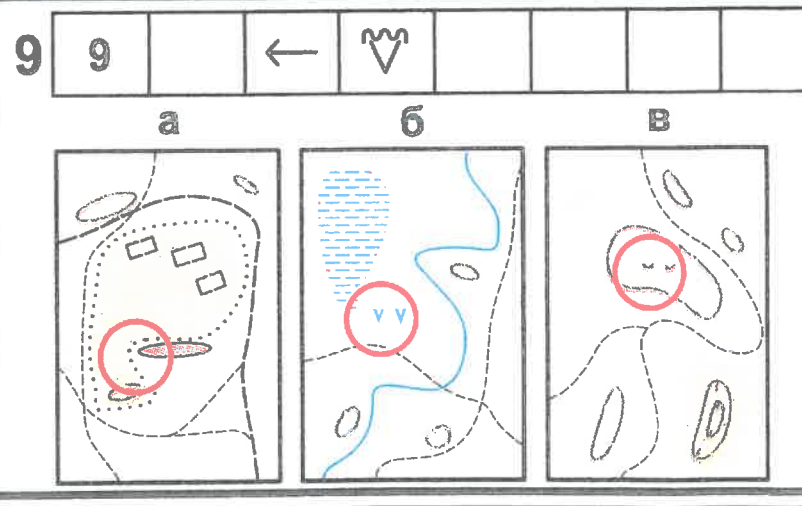

8

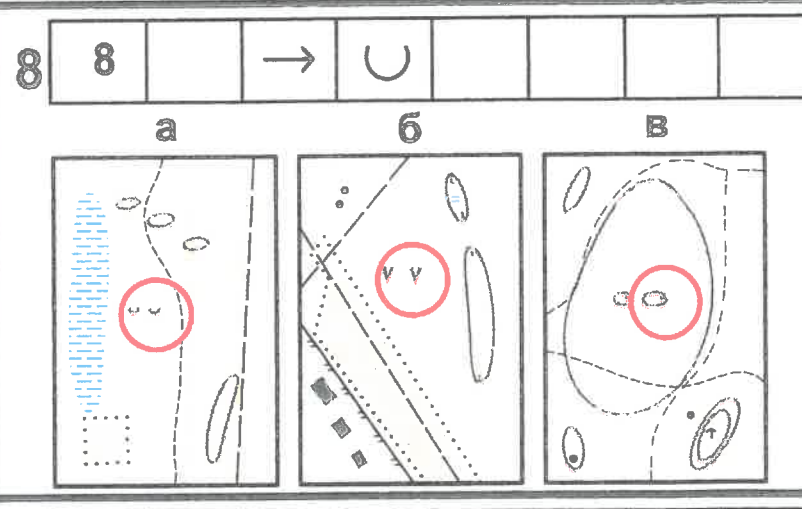

9

10

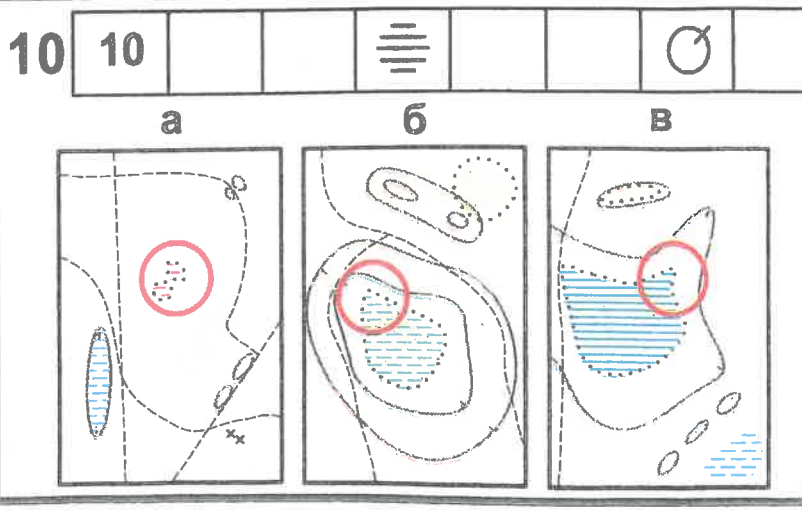

Тест 40

Подберите контрольный пункт к данной “легенде”.



Тест 41

Подберите контрольный пункт к данной "легенде".

1

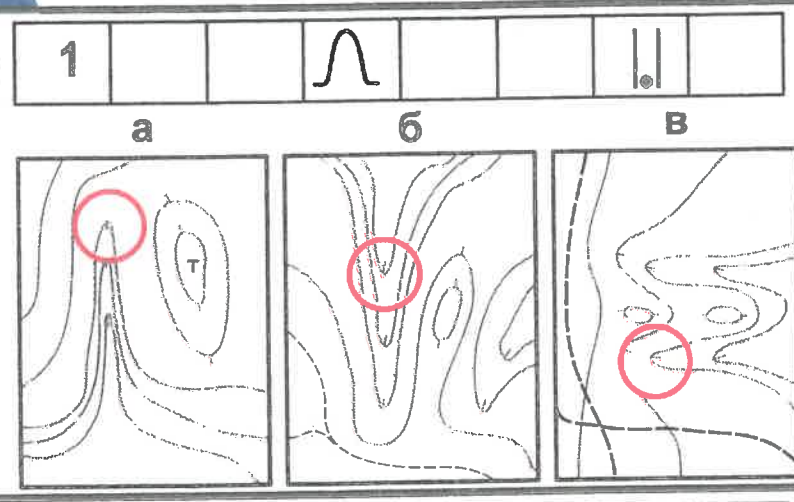

2

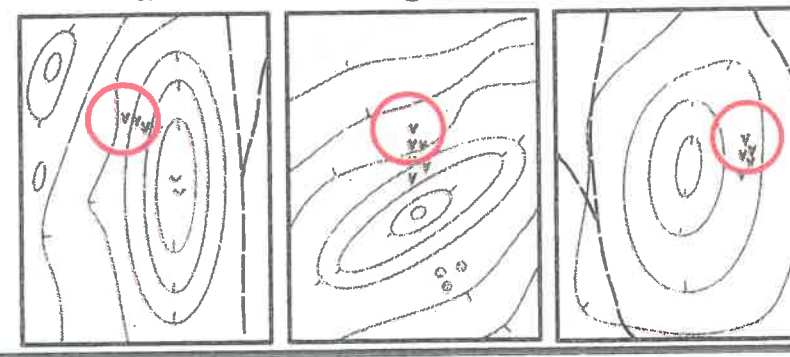

3

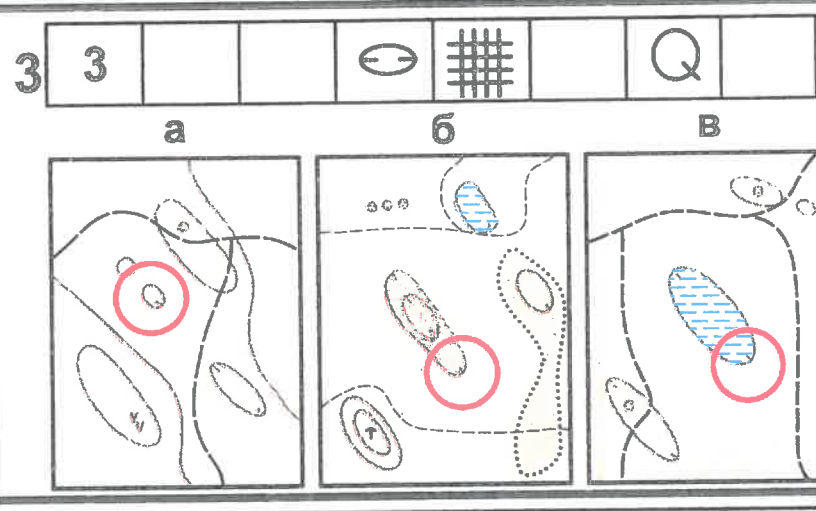

4

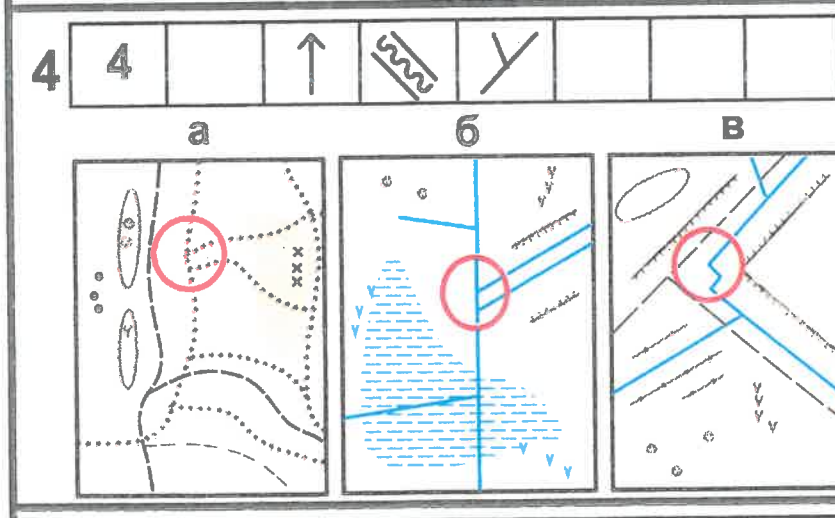

5

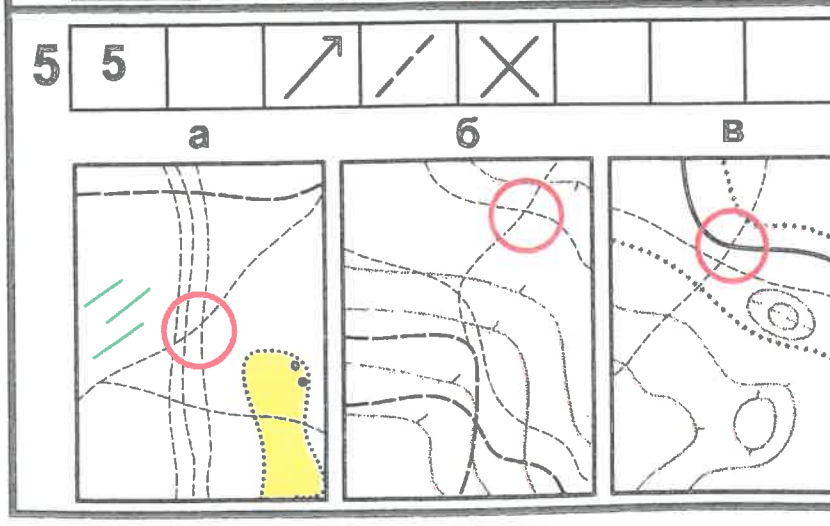

6

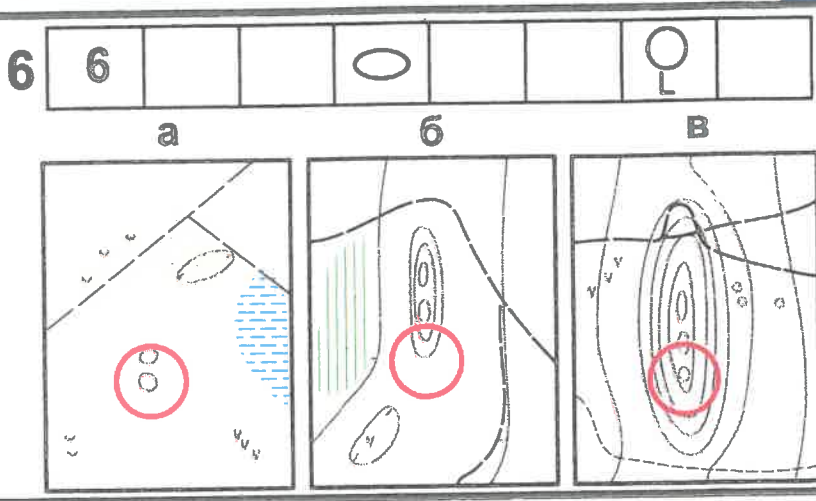

7

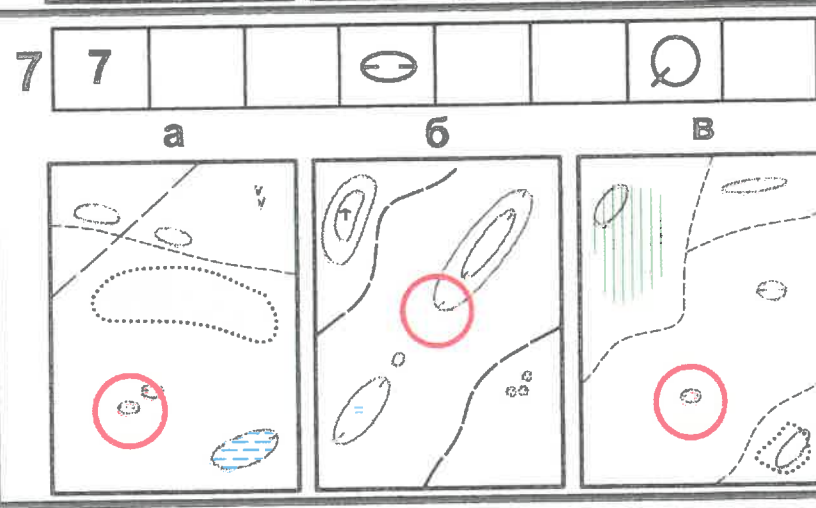

8

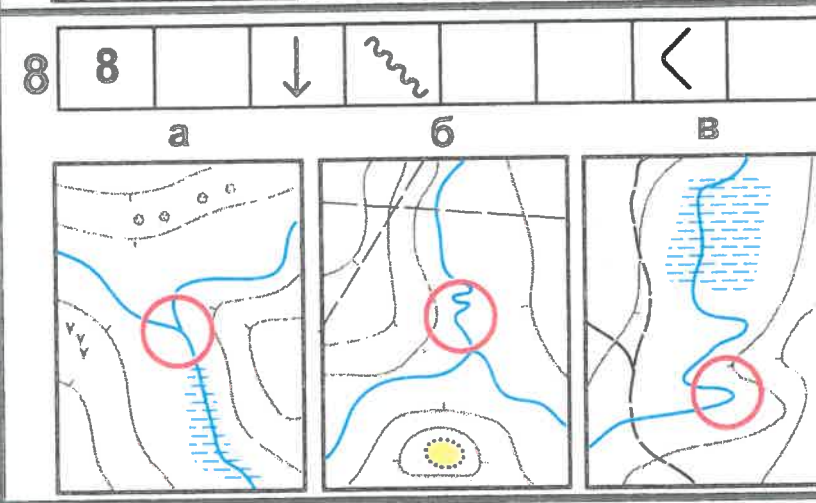

9

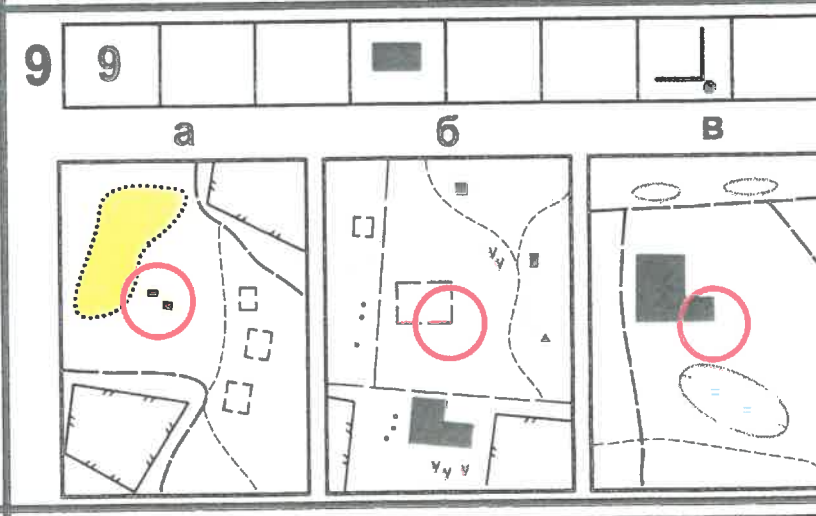

10

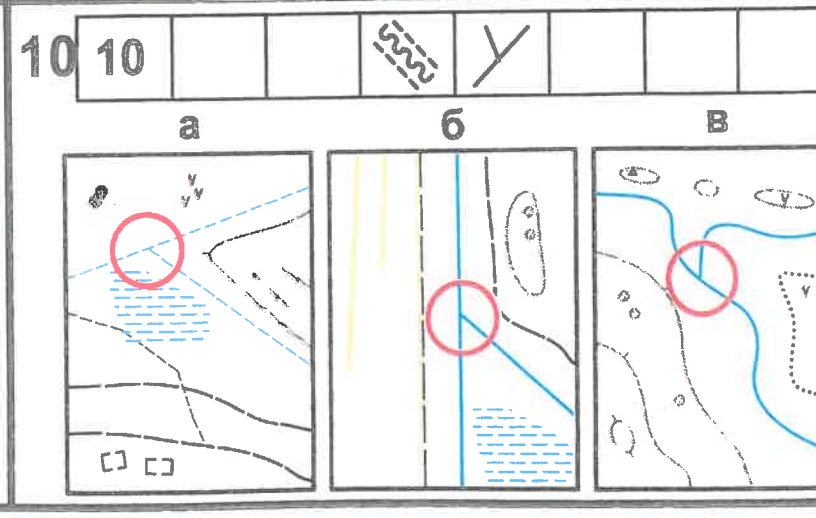

Тест 42

Подберите "легенду" к контрольному пункту.

1

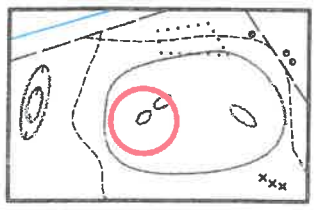

А							
Б							
В							

2

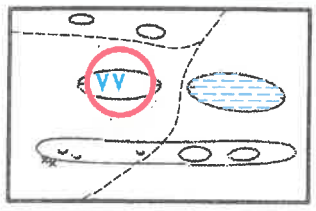

А							
Б							
В							

3

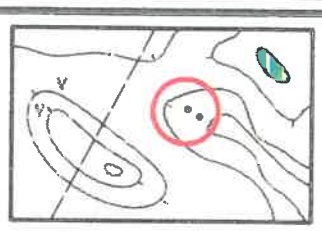

А							
Б							
В							

4

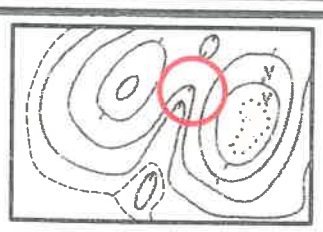

А							
Б							
В							

5

А							
Б							
В							

6

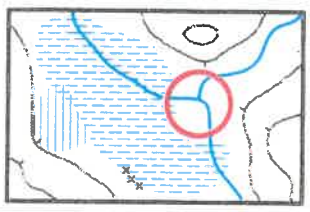

А							
Б							
В							

7

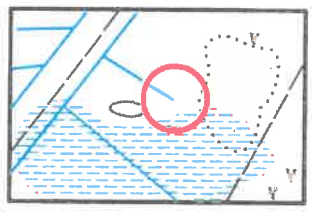

А							
Б							
В							

8

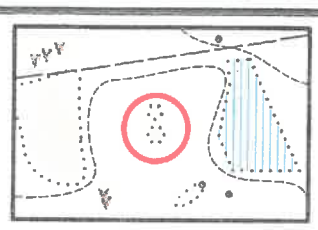

А							
Б							
В							

9

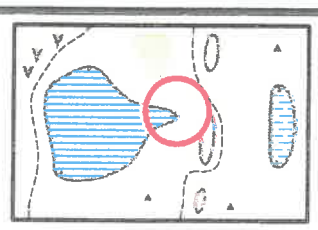

А							
Б							
В							

10

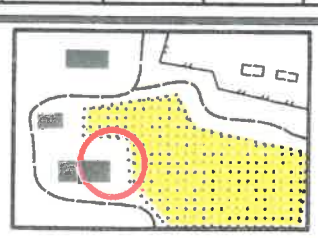

А							
Б							
В							

Тест 43

Подберите "легенду" к контрольному пункту.

1

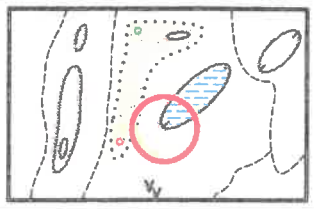

А							
Б							
В							

2

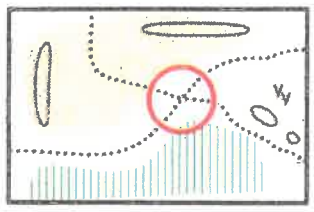

А							
Б							
В							

3

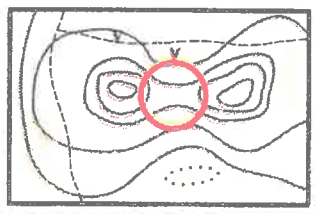

А							
Б							
В							

4

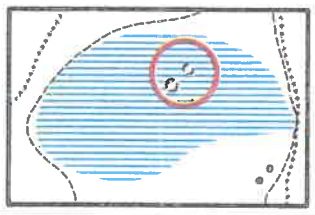

А							
Б							
В							

5

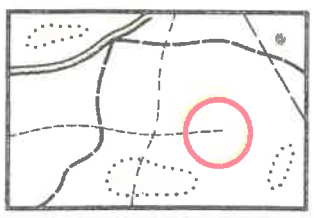

А							
Б							
В							

6

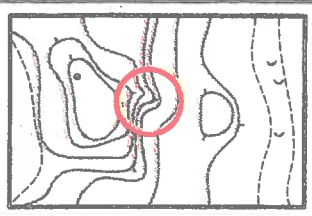

А							
Б							
В							

7

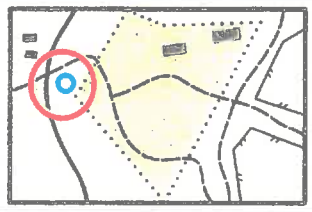

А							
Б							
В							

8

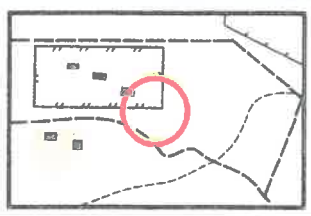

А							
Б							
В							

9

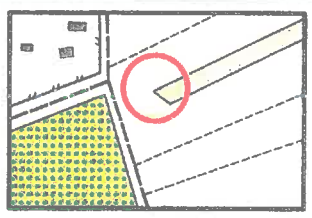

А							
Б							
В							

10

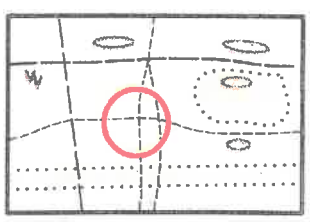

А							
Б							
В							

Тест 44

Определите ситуацию.

1

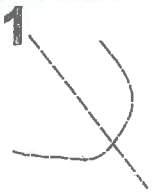

а)пересечение узкой просеки с дорогой

б)пересечение широкой просеки с дорогой

в)пересечение дороги с тропой

2

а)пересечение дорог

б)пересечение троп

в)пересечение дороги с тропой

3



а)горка на поляне

б)камень на поляне

в)поляна

4

а)болото

б)яма

в)заболоченная яма

5

а)яма

б)каппонир на горке

в)каппонир в яме

6 Какая гора выше?

а



б

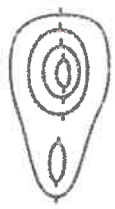

в

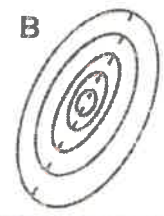

7 Какая стрелка обозначает “спуск”?

а

б

в

8 Какая вершина выше?

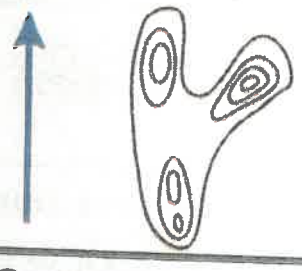

а)северная

б)северо-восточная

в)южная

9 Какой склон круче?

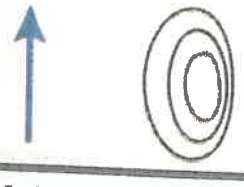

а)северный
б)западный
в)восточный

10 Какая яма глубже?

а

б

в

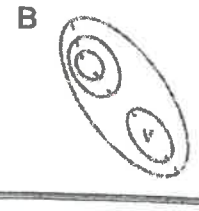

На какой КП нельзя бежать напрямик?

11

а

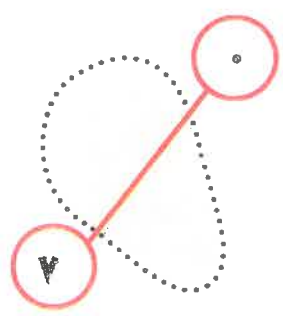

б

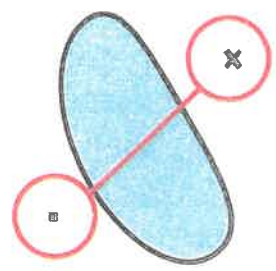

в

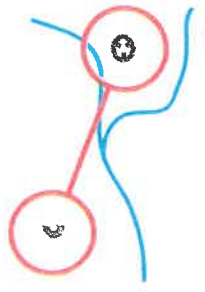

12

а

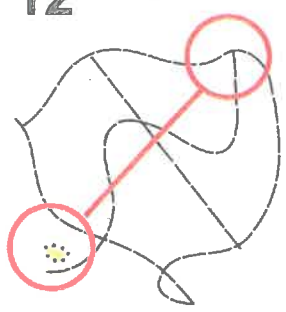

б



в

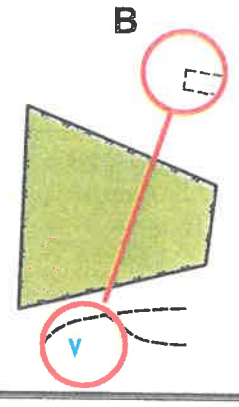

13

а



б

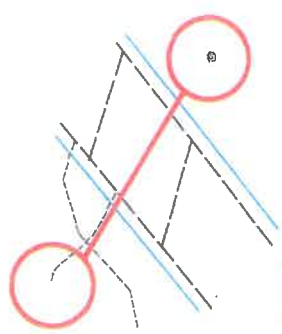

в

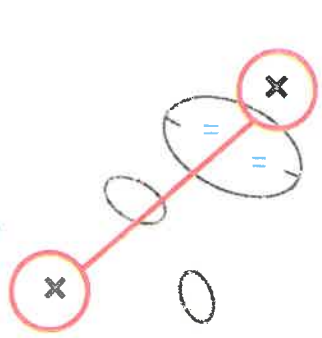

14

а

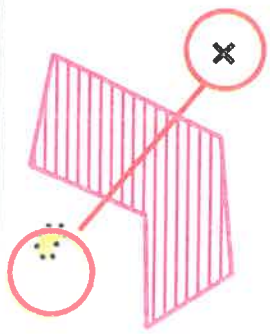

б

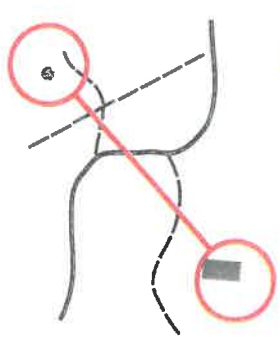

в

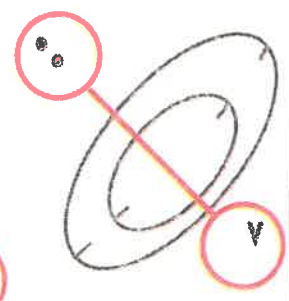

15

а

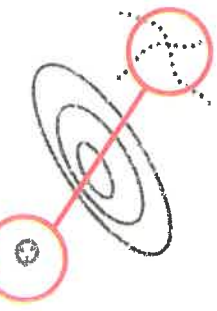

б

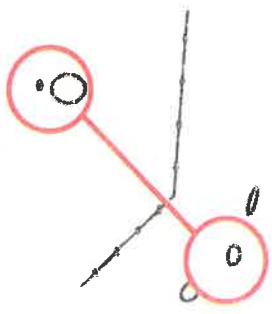

в

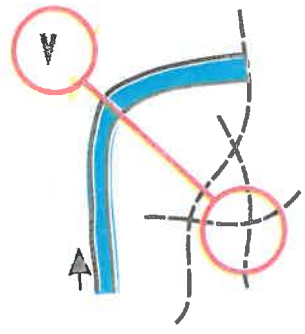

Тест 45

1 Какой КП стоит во внемасштабной яме на поляне?

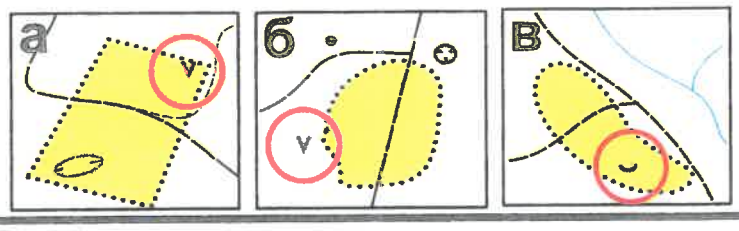

2 Какой КП находится на стыке просек?

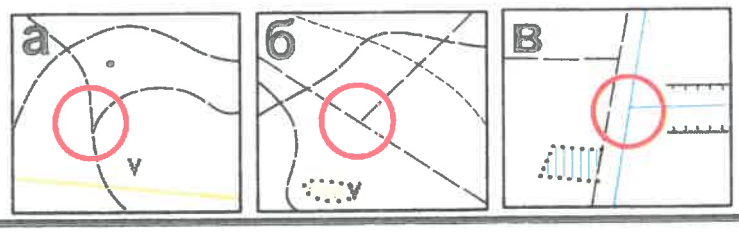

3 Какой КП находится на западном углу непреодолимой ограды?

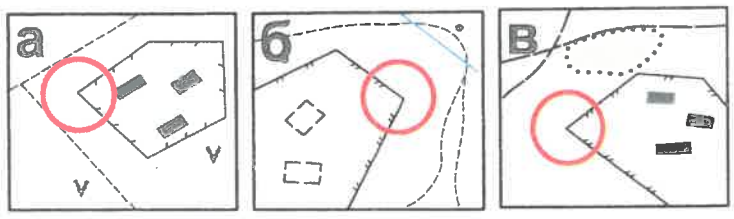

4 Какой КП находится на восточной полянке?

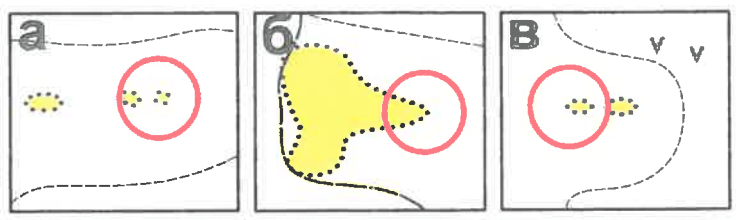

5 Какой КП стоит у юго-восточного камня?

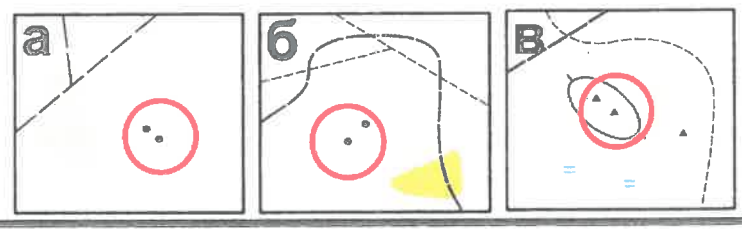

6 Какой КП находится в северо-западном направлении от старта?

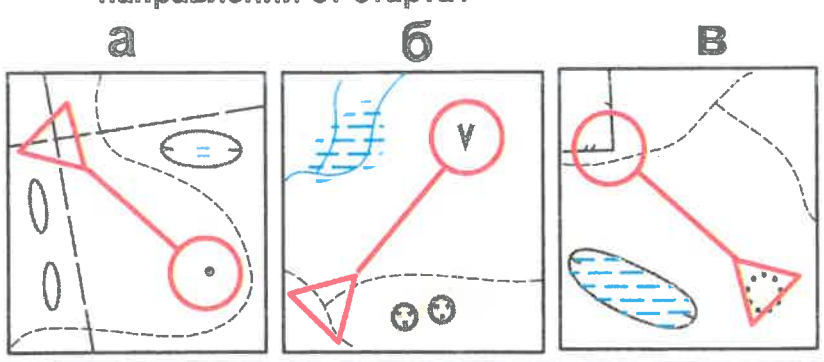

7 В каком напралении надо двигаться, чтобы со старта прийти на КП?

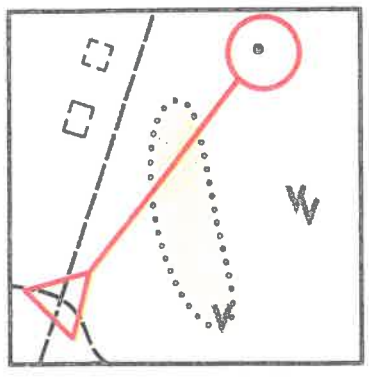

а) на северо-восток

б) на юго-запад

в) на северо-запад

8 На какой КП придет участник, если будет двигаться со старта на юго-запад?

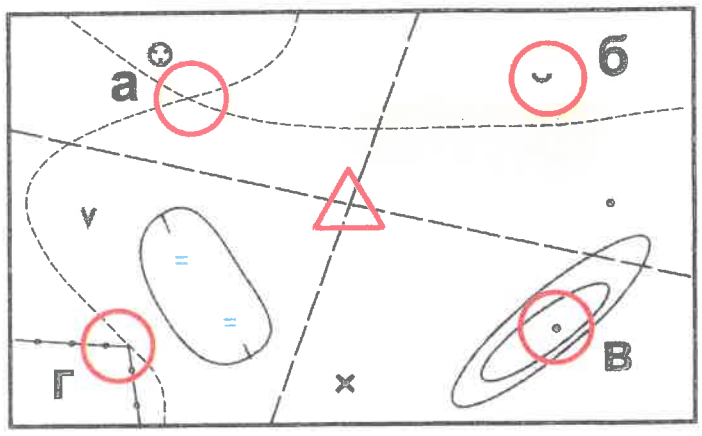

9 Какая гора выше?

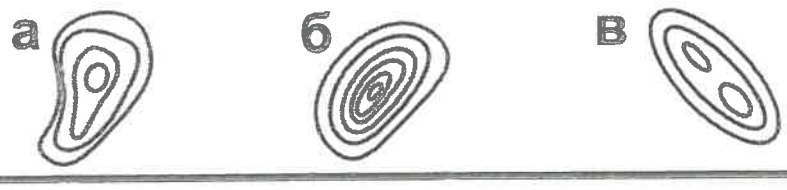

10 Какая стрелка обозначает “подъем”?

11 У какой горы южный склон крутой?

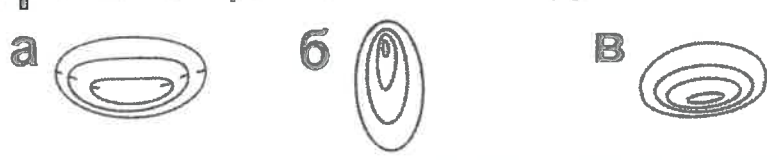

12 Какая вершина выше?

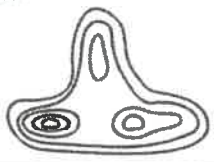

а) восточная
б) северная
в) западная

13 Какой профиль подходит к данной рельефной ситуации?

14 Подберите описание к рельефной ситуации.

а) холм с крутым южным склоном
б) холм вытянут в направлении север-юг, имеет две вершины
в) холм вытянут в направлении запад-восток, имеет две одинаковые вершины.

15 Какой КП стоит в седловине?

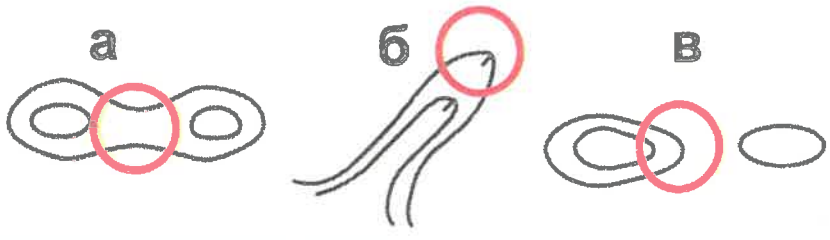

Тест 46

1 Какой КП находится на перемычке поляны?

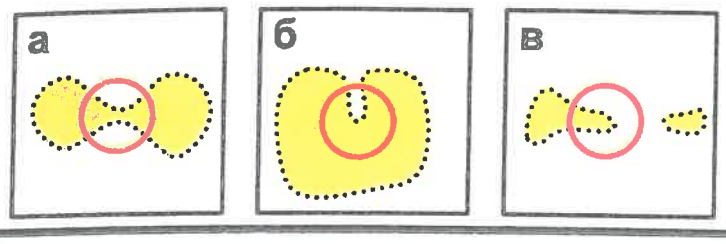

2 Какой КП стоит в средней внемасштабной яме?

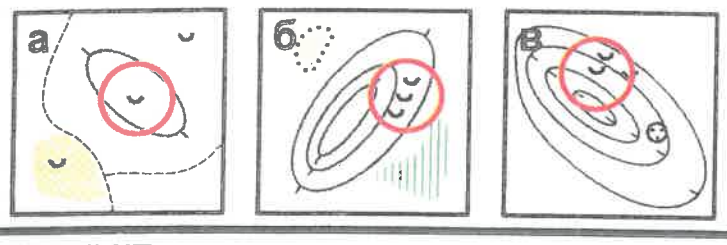

3 Какой КП находится на западной развилке дорог?

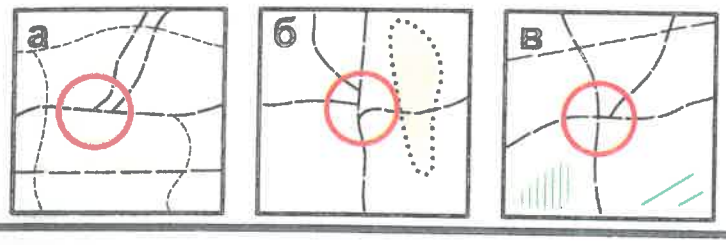

4 Какой КП находится на юго-восточном краю болота?



5 Какой КП стоит в восточной лощине?

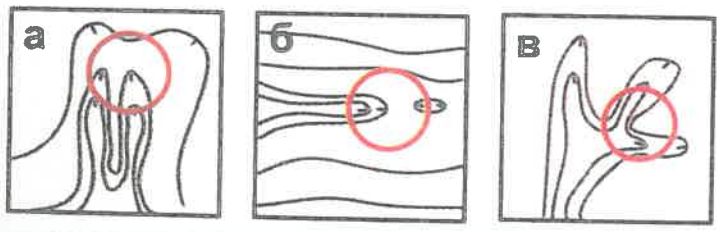

6 В каком напралении надо двигаться, чтобы со старта прийти на КП?

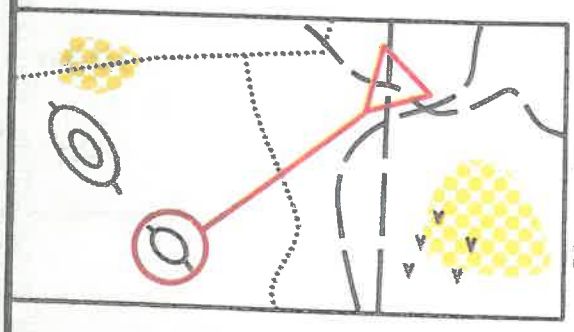

а) на северо-восток

б) на юго-запад

в) на юго-восток

7 Определите азимут от старта до КП?

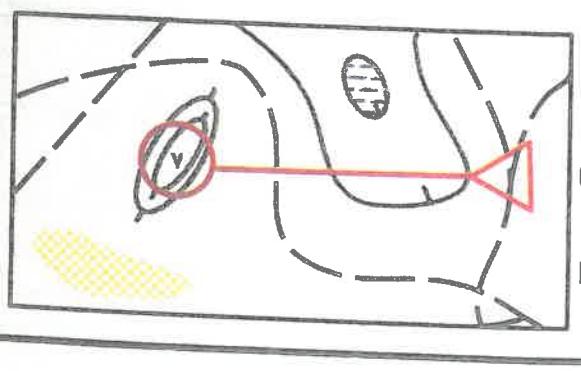

а) 45 градусов

б) 90 градусов

в) 270 градусов

8 Подберите описание.

а) холм, вытянут в направлении север-юг западный склон крутой;

б) яма с крутым южным склоном;

в) яма, вытянута в направлении север-юг. Восточный склон пологий, западный - крутой.

9 Какая стрелка обозначает “спуск”?

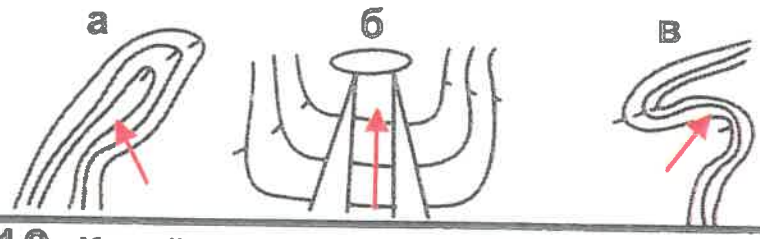

10 Какой склон круче?

а) северо-восточный

б) юго-восточный

в) северо-западный

11 Подберите характеристику к графическому изображению рельефа.

а) выступ

б) яма

в) ступень

12

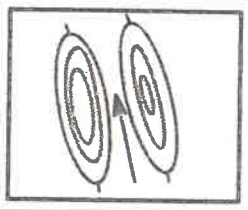

а) перемычка

б) проход

в) бугор

13

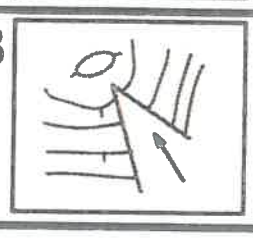

а) гора

б) обрыв

в) промоина

14 Какой КП соответствует данной легенде?

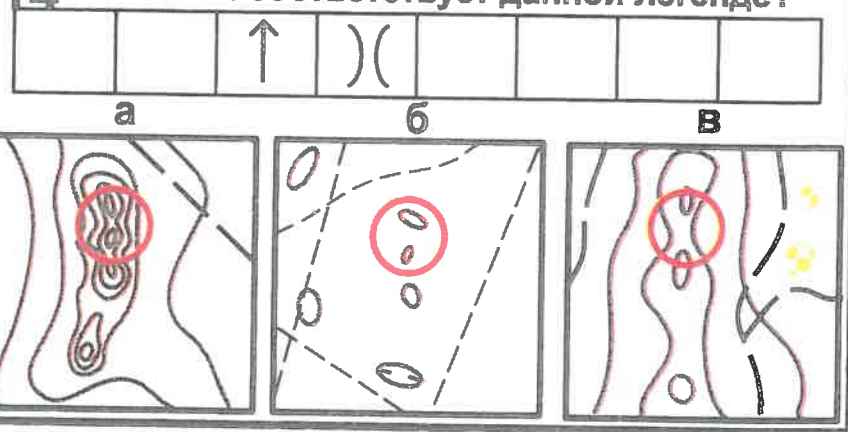

15

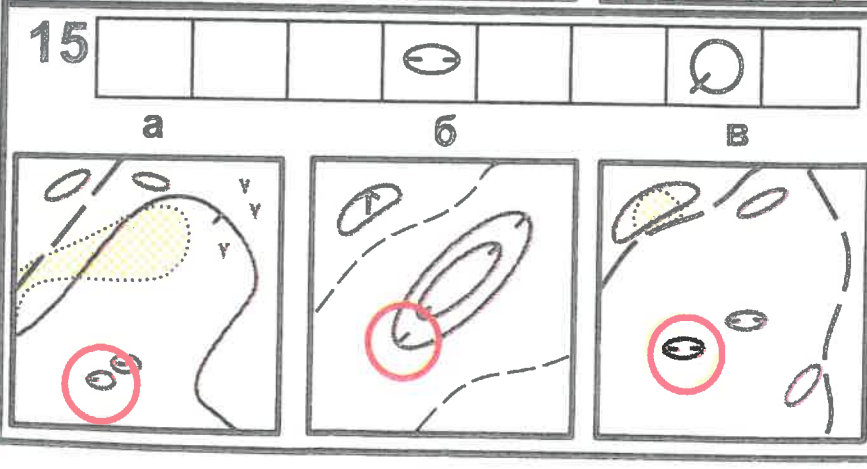

Тест 47

1 Какой КП находится на восточном островке леса?

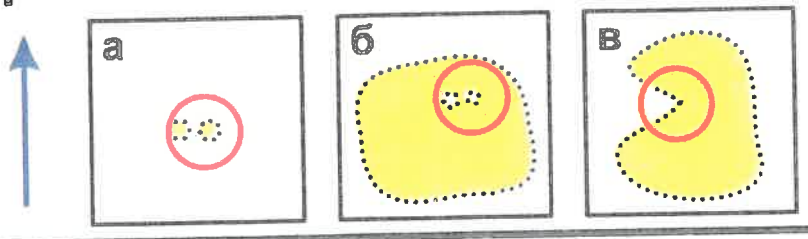

2 Какой КП находится на южном микробугорке?

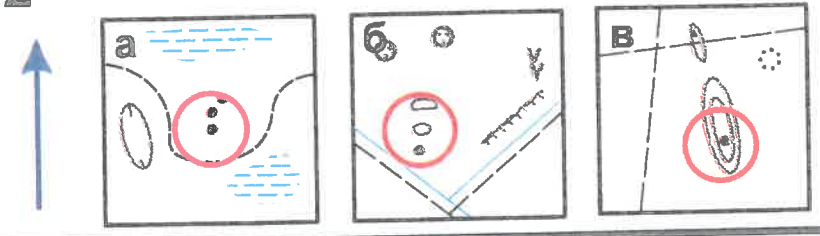

3 Какой КП стоит на северной горке?

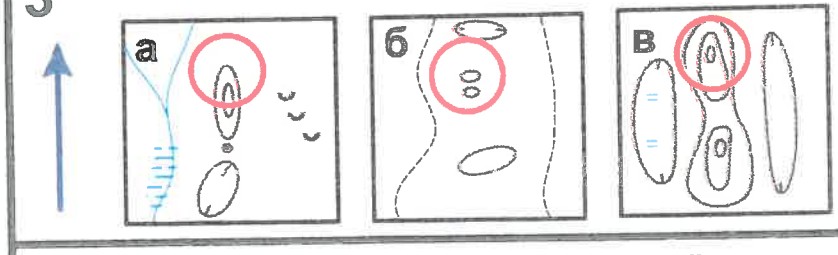

4 Какой КП находится на северо-западной полянке?

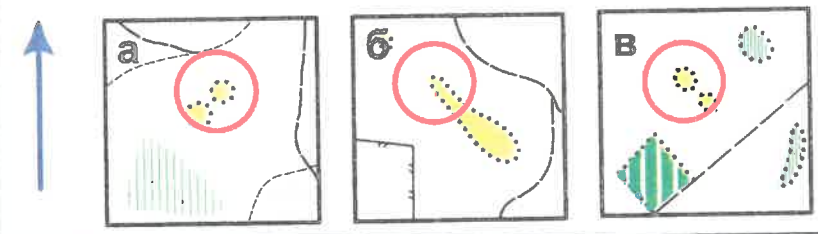

5 Какой КП стоит на юго-западной горке в болоте?



6 Какая стрелка обозначает "подъем"?

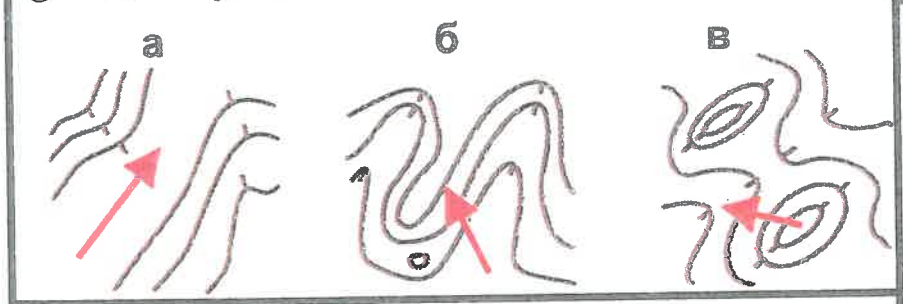

7 У какой горы западная вершина выше?

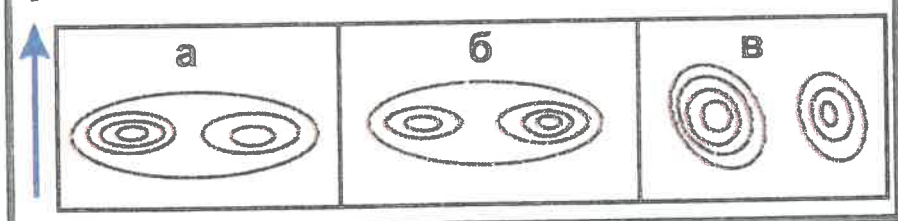

8 У какой горы северо-западный склон крутой?

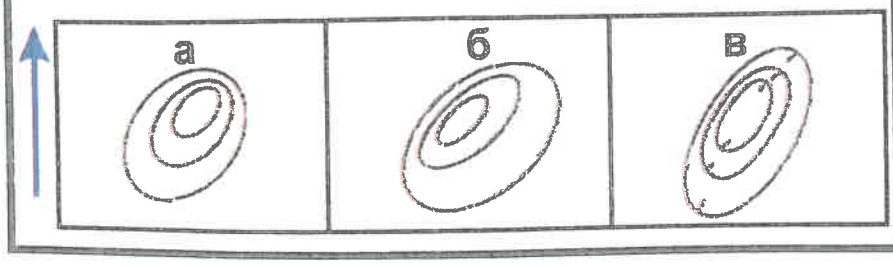

9 Какая рельефная ситуация подходит к данному описанию?

Холм с крутым юго-восточным склоном. Северо-западная вершина выше.

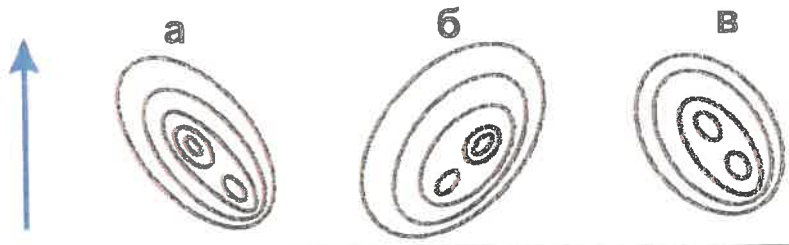

10 Какая рельефная ситуация соответствует данному профилю?

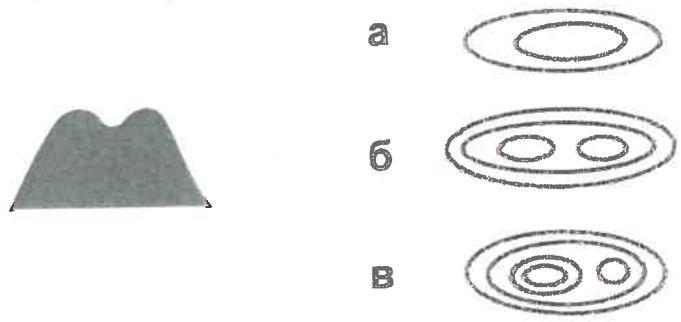

11 Какая "легенда" подходит к данному КП?

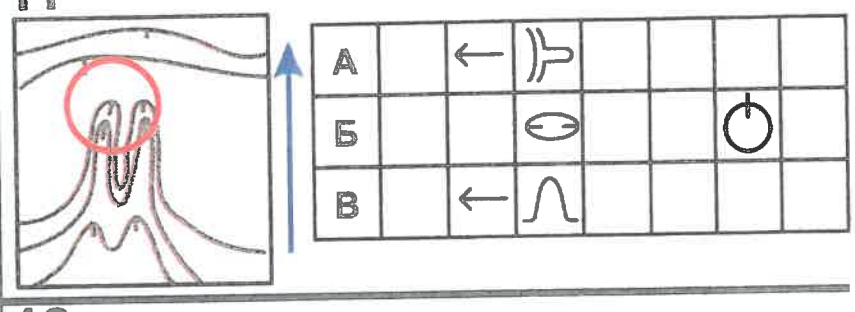

12

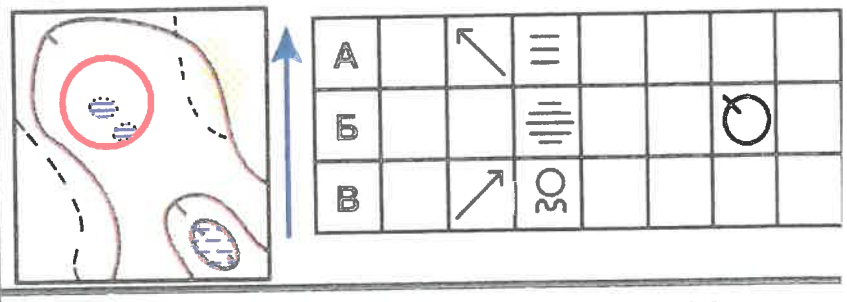

13 В каком направлении надо двигаться, чтобы со старта прийти на КП?



а) на запад
б) на юг
в) на восто

14 Какой КП находится в юго-восточном направлении от старта?

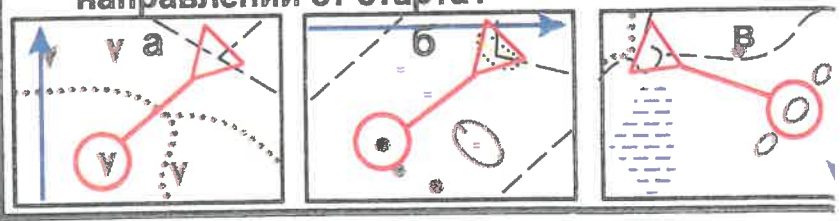

15 Какой азимут от старта до КП?

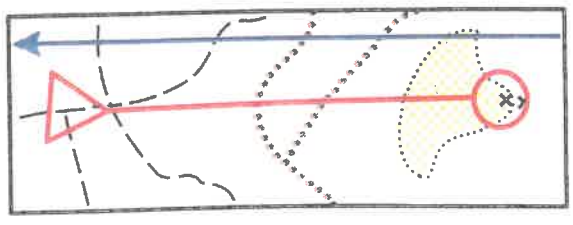

а) 270 градусо
б) 180 градусо
в) 90 градусо